แบบฝึกทักษะ
คณิตศาสตร์

ระดับชั้นประถมศึกษาปีที่ 6

ตามโครงการ

"อ่านออก เขียนได้ คิดเลขเป็น
เน้นภาษา พัฒนาการเรียนรู้"



เล่ม 1

ชื่อ-นามสกุล ..... เลขที่ .....

โรงเรียน .....

สำนักงานเขตพื้นที่การศึกษาประถมศึกษาเชียงใหม่ เขต 3

แบบฝึกทักษะ คณิตศาสตร์

ระดับชั้นประถมศึกษาปีที่ 6

ตามโครงการ

“อ่านออก เขียนได้ คิดเลขเป็น
เน้นภาษา พัฒนาการเรียนรู้”



เล่ม 1

ชื่อ-นามสกุล ..... เลขที่ .....

โรงเรียน .....

สำนักงานเขตพื้นที่การศึกษาประถมศึกษาเชียงใหม่ เขต 3

คำนำ

สำนักงานเขตพื้นที่การศึกษาประถมศึกษาเชียงใหม่ เขต 3 ได้จัดทำแบบฝึกทักษะอ่านออกเขียนได้ คิดเลขเป็น เน้นภาษา ขึ้น มีวัตถุประสงค์เพื่อพัฒนาทักษะพื้นฐานในการเรียนภาษาไทย คณิตศาสตร์ และภาษาอังกฤษ ยกระดับ ผลสัมฤทธิ์ทางการเรียนของผู้เรียน และสร้างโอกาสการเข้าถึงการเรียนรู้ของผู้เรียนอย่างทั่วถึง โดยให้โรงเรียนในสังกัดทุกแห่งได้นำไปใช้ในการจัดกิจกรรมเสริมนอกเวลาเรียนทุกวัน แบบฝึกทักษะคณิตศาสตร์ มีทั้งหมดจำนวน 6 ระดับชั้น ตั้งแต่ชั้นประถมศึกษาปีที่ 1 ถึง ชั้นประถมศึกษาปีที่ 6 แต่ละระดับชั้นจะมีแบบฝึกทั้งหมด 200 ชุด เรียงลำดับตามความยากง่าย เนื้อหามีความเหมาะสมสอดคล้องกับระดับชั้นของผู้เรียนแต่ละระดับชั้น โดยมีรูปแบบของแบบฝึกที่มีความหลากหลาย ซึ่งครูผู้สอนสามารถนำไปใช้กับผู้เรียนได้ทุกคน ใช้เสริมบทเรียนในชั้นเรียน ซ่อมเสริมผู้เรียนรายบุคคล และผู้เรียนสามารถทำแบบฝึกทักษะได้ซ้ำจนเกิดความคล่องแคล่ว ตามศักยภาพและความต้องการได้อย่างต่อเนื่อง

การจัดทำแบบฝึกทักษะคณิตศาสตร์นี้ ได้รับความร่วมมือจากครูผู้สอนคณิตศาสตร์ โดยร่วมสร้างแบบฝึกและตรวจสอบคุณภาพของแบบฝึกดังกล่าวโดยผู้บริหารการศึกษา ศึกษานิเทศก์ และผู้บริหารสถานศึกษาที่เห็นความสำคัญ เป็นที่ปรึกษา ให้คำแนะนำในการปรับปรุงและพัฒนาแบบฝึกทักษะคณิตศาสตร์ฉบับนี้ให้มีคุณภาพ และหวังเป็นอย่างยิ่งว่าแบบฝึกทักษะนี้จะเป็นประโยชน์ต่อการพัฒนาทักษะพื้นฐานและพัฒนาคุณภาพผู้เรียนด้านคณิตศาสตร์ได้อย่างมีประสิทธิภาพ

คณะผู้จัดทำ

สารบัญ (1)

	หน้า
คำนำ	ก
สารบัญ	ข
คำชี้แจง	ฉ
แบบฝึกทักษะคณิตศาสตร์ ชุดที่ 1 การลบจำนวนนับ (1)	1
แบบฝึกทักษะคณิตศาสตร์ ชุดที่ 2 การลบจำนวนนับ (2)	2
แบบฝึกทักษะคณิตศาสตร์ ชุดที่ 3 การลบจำนวนนับ (3)	3
แบบฝึกทักษะคณิตศาสตร์ ชุดที่ 4 การลบจำนวนนับ (4)	4
แบบฝึกทักษะคณิตศาสตร์ ชุดที่ 5 การบวกจำนวนนับสามจำนวน (1)	5
แบบฝึกทักษะคณิตศาสตร์ ชุดที่ 6 การบวกจำนวนนับสามจำนวน (2)	6
แบบฝึกทักษะคณิตศาสตร์ ชุดที่ 7 การบวกจำนวนนับสามจำนวน (3)	7
แบบฝึกทักษะคณิตศาสตร์ ชุดที่ 8 การบวกจำนวนนับสามจำนวน (4)	8
แบบฝึกทักษะคณิตศาสตร์ ชุดที่ 9 การบวกจำนวนนับสามจำนวน (5)	9
แบบฝึกทักษะคณิตศาสตร์ ชุดที่ 10 การคูณจำนวนนับ (1)	10
แบบฝึกทักษะคณิตศาสตร์ ชุดที่ 11 การคูณจำนวนนับ (2)	11
แบบฝึกทักษะคณิตศาสตร์ ชุดที่ 12 การคูณจำนวนนับ (3)	12
แบบฝึกทักษะคณิตศาสตร์ ชุดที่ 13 การคูณจำนวนนับ (4)	13
แบบฝึกทักษะคณิตศาสตร์ ชุดที่ 14 การคูณจำนวนนับ (5)	14
แบบฝึกทักษะคณิตศาสตร์ ชุดที่ 15 การคูณจำนวนนับ (6)	15
แบบฝึกทักษะคณิตศาสตร์ ชุดที่ 16 การคูณจำนวนนับ (7)	16
แบบฝึกทักษะคณิตศาสตร์ ชุดที่ 17 การคูณจำนวนนับ (8)	17
แบบฝึกทักษะคณิตศาสตร์ ชุดที่ 18 การหารจำนวนนับ (1)	18
แบบฝึกทักษะคณิตศาสตร์ ชุดที่ 19 การหารจำนวนนับ (2)	19
แบบฝึกทักษะคณิตศาสตร์ ชุดที่ 20 การหารจำนวนนับ (3)	20
แบบฝึกทักษะคณิตศาสตร์ ชุดที่ 21 การหารจำนวนนับ (4)	21
แบบฝึกทักษะคณิตศาสตร์ ชุดที่ 22 การหารจำนวนนับ (5)	22
แบบฝึกทักษะคณิตศาสตร์ ชุดที่ 23 การหารจำนวนนับ (6)	23
แบบฝึกทักษะคณิตศาสตร์ ชุดที่ 24 การหารจำนวนนับ (7)	24
แบบฝึกทักษะคณิตศาสตร์ ชุดที่ 25 การหารจำนวนนับ (8)	25
แบบฝึกทักษะคณิตศาสตร์ ชุดที่ 26 การคูณจำนวนนับสามจำนวน (1)	26
แบบฝึกทักษะคณิตศาสตร์ ชุดที่ 27 การคูณจำนวนนับสามจำนวน (2)	27
แบบฝึกทักษะคณิตศาสตร์ ชุดที่ 28 การคูณจำนวนนับสามจำนวน (3)	28
แบบฝึกทักษะคณิตศาสตร์ ชุดที่ 29 การคูณจำนวนนับสามจำนวน (4)	29
แบบฝึกทักษะคณิตศาสตร์ ชุดที่ 30 การคูณจำนวนนับสามจำนวน (5)	30

สารบัญ (2)

	หน้า
แบบฝึกทักษะคณิตศาสตร์ ชุดที่ 31 การคูณจำนวนนับสามจำนวน (6)	31
แบบฝึกทักษะคณิตศาสตร์ ชุดที่ 32 การคูณจำนวนนับสามจำนวน (7)	32
แบบฝึกทักษะคณิตศาสตร์ ชุดที่ 33 การคูณจำนวนนับสามจำนวน (8)	33
แบบฝึกทักษะคณิตศาสตร์ ชุดที่ 34 การบวก ลบ คูณ หารระคน (1)	34
แบบฝึกทักษะคณิตศาสตร์ ชุดที่ 35 การบวก ลบ คูณ หารระคน (2)	35
แบบฝึกทักษะคณิตศาสตร์ ชุดที่ 36 การบวก ลบ คูณ หารระคน (3)	36
แบบฝึกทักษะคณิตศาสตร์ ชุดที่ 37 การบวก ลบ คูณ หารระคน (4)	37
แบบฝึกทักษะคณิตศาสตร์ ชุดที่ 38 การบวก ลบ คูณ หารระคน (5)	38
แบบฝึกทักษะคณิตศาสตร์ ชุดที่ 39 การบวก ลบ คูณ หารระคน (6)	39
แบบฝึกทักษะคณิตศาสตร์ ชุดที่ 40 การบวก ลบ คูณ หารระคน (7)	40
แบบฝึกทักษะคณิตศาสตร์ ชุดที่ 41 การบวก ลบ คูณ หารระคน (8)	41
แบบฝึกทักษะคณิตศาสตร์ ชุดที่ 42 โจทย์ปัญหาการบวก ลบ คูณ หารจำนวนนับ (1)	42
แบบฝึกทักษะคณิตศาสตร์ ชุดที่ 43 โจทย์ปัญหาการบวก ลบ คูณ หารจำนวนนับ (2)	43
แบบฝึกทักษะคณิตศาสตร์ ชุดที่ 44 โจทย์ปัญหาการบวก ลบ คูณ หารจำนวนนับ (3)	44
แบบฝึกทักษะคณิตศาสตร์ ชุดที่ 45 โจทย์ปัญหาการบวก ลบ คูณ หารระคน	45
แบบฝึกทักษะคณิตศาสตร์ ชุดที่ 46 การบวก ลบ คูณ หารเศษส่วนและจำนวนคละ (1)	46
แบบฝึกทักษะคณิตศาสตร์ ชุดที่ 47 การบวก ลบ คูณ หารเศษส่วนและจำนวนคละ (2)	47
แบบฝึกทักษะคณิตศาสตร์ ชุดที่ 48 การบวก ลบ คูณ หารเศษส่วนและจำนวนคละ (3)	48
แบบฝึกทักษะคณิตศาสตร์ ชุดที่ 49 การบวก ลบ คูณ หารเศษส่วนและจำนวนคละ (4)	49
แบบฝึกทักษะคณิตศาสตร์ ชุดที่ 50 การบวก ลบ คูณ หารเศษส่วนและจำนวนคละ (5)	50
แบบฝึกทักษะคณิตศาสตร์ ชุดที่ 51 การบวก ลบ คูณ หารเศษส่วนและจำนวนคละ (6)	51
แบบฝึกทักษะคณิตศาสตร์ ชุดที่ 52 การบวก ลบ คูณ หารเศษส่วนและจำนวนคละ (7)	52
แบบฝึกทักษะคณิตศาสตร์ ชุดที่ 53 การบวก ลบ คูณ หารเศษส่วนและจำนวนคละ (8)	53
แบบฝึกทักษะคณิตศาสตร์ ชุดที่ 54 การบวก ลบ คูณ หารเศษส่วนและจำนวนคละ (9)	54
แบบฝึกทักษะคณิตศาสตร์ ชุดที่ 55 การบวก ลบ คูณ หารเศษส่วนและจำนวนคละ (10)	55
แบบฝึกทักษะคณิตศาสตร์ ชุดที่ 56 การบวก ลบ คูณ หารเศษส่วนและจำนวนคละ (11)	56
แบบฝึกทักษะคณิตศาสตร์ ชุดที่ 57 การบวก ลบ คูณ หารเศษส่วนและจำนวนคละ (12)	57
แบบฝึกทักษะคณิตศาสตร์ ชุดที่ 58 การบวก ลบ คูณ หารเศษส่วนและจำนวนคละ (13)	58
แบบฝึกทักษะคณิตศาสตร์ ชุดที่ 59 การบวก ลบ คูณ หารเศษส่วนและจำนวนคละ (14)	59
แบบฝึกทักษะคณิตศาสตร์ ชุดที่ 60 การบวก ลบ คูณ หารเศษส่วนและจำนวนคละ (15)	60
แบบฝึกทักษะคณิตศาสตร์ ชุดที่ 61 การบวก ลบ คูณ หารเศษส่วนและจำนวนคละ (16)	61
แบบฝึกทักษะคณิตศาสตร์ ชุดที่ 62 การบวก ลบ คูณ หารเศษส่วนและจำนวนคละ (17)	62
แบบฝึกทักษะคณิตศาสตร์ ชุดที่ 63 การบวก ลบ คูณ หารเศษส่วนและจำนวนคละ (18)	63

สารบัญ (3)

	หน้า
แบบฝึกทักษะคณิตศาสตร์ ชุดที่ 64 การบวก ลบ คูณ หารเศษส่วนและจำนวนคละ (19)	64
แบบฝึกทักษะคณิตศาสตร์ ชุดที่ 65 การบวก ลบ คูณ หารเศษส่วนและจำนวนคละ (20)	65
แบบฝึกทักษะคณิตศาสตร์ ชุดที่ 66 การบวก ลบ คูณ หารเศษส่วนและจำนวนคละ (21)	66
แบบฝึกทักษะคณิตศาสตร์ ชุดที่ 67 การบวก ลบ คูณ หารเศษส่วนและจำนวนคละ (22)	67
แบบฝึกทักษะคณิตศาสตร์ ชุดที่ 68 การบวก ลบ คูณ หารเศษส่วนและจำนวนคละ (23)	68
แบบฝึกทักษะคณิตศาสตร์ ชุดที่ 69 การบวก ลบ คูณ หารเศษส่วนและจำนวนคละ (24)	69
แบบฝึกทักษะคณิตศาสตร์ ชุดที่ 70 การบวก ลบ คูณ หารเศษส่วนและจำนวนคละ (25)	70
แบบฝึกทักษะคณิตศาสตร์ ชุดที่ 71 การบวก ลบ คูณ หารเศษส่วนและจำนวนคละ (26)	71
แบบฝึกทักษะคณิตศาสตร์ ชุดที่ 72 การบวก ลบ คูณ หารเศษส่วนและจำนวนคละ (27)	72
แบบฝึกทักษะคณิตศาสตร์ ชุดที่ 73 การบวก ลบ คูณ หารเศษส่วนและจำนวนคละ (28)	73
แบบฝึกทักษะคณิตศาสตร์ ชุดที่ 74 การบวก ลบ คูณ หารเศษส่วนและจำนวนคละ (29)	74
แบบฝึกทักษะคณิตศาสตร์ ชุดที่ 75 การบวก ลบ คูณ หารเศษส่วนและจำนวนคละ (30)	75
แบบฝึกทักษะคณิตศาสตร์ ชุดที่ 76 การบวก ลบ คูณ หารเศษส่วนและจำนวนคละ (31)	76
แบบฝึกทักษะคณิตศาสตร์ ชุดที่ 77 การบวก ลบ คูณ หารเศษส่วนและจำนวนคละ (32)	77
แบบฝึกทักษะคณิตศาสตร์ ชุดที่ 78 การบวก ลบ คูณ หารเศษส่วนและจำนวนคละ (33)	78
แบบฝึกทักษะคณิตศาสตร์ ชุดที่ 79 การบวก ลบ คูณ หารเศษส่วนและจำนวนคละ (34)	79
แบบฝึกทักษะคณิตศาสตร์ ชุดที่ 80 การบวก ลบ คูณ หารเศษส่วนและจำนวนคละ (35)	80
แบบฝึกทักษะคณิตศาสตร์ ชุดที่ 81 การบวก ลบ คูณ หารเศษส่วนและจำนวนคละ (36)	81
แบบฝึกทักษะคณิตศาสตร์ ชุดที่ 82 การบวก ลบ คูณ หารเศษส่วนและจำนวนคละ (37)	82
แบบฝึกทักษะคณิตศาสตร์ ชุดที่ 83 การบวก ลบ คูณ หารเศษส่วนและจำนวนคละ (38)	83
แบบฝึกทักษะคณิตศาสตร์ ชุดที่ 84 การบวก ลบ คูณ หารเศษส่วนและจำนวนคละ (39)	84
แบบฝึกทักษะคณิตศาสตร์ ชุดที่ 85 การบวก ลบ คูณ หารเศษส่วนและจำนวนคละ (40)	85
แบบฝึกทักษะคณิตศาสตร์ ชุดที่ 86 ตัวคูณร่วมน้อย (1)	86
แบบฝึกทักษะคณิตศาสตร์ ชุดที่ 87 ตัวคูณร่วมน้อย (2)	87
แบบฝึกทักษะคณิตศาสตร์ ชุดที่ 88 ตัวคูณร่วมน้อย (3)	88
แบบฝึกทักษะคณิตศาสตร์ ชุดที่ 89 ตัวหารร่วมมาก (1)	89
แบบฝึกทักษะคณิตศาสตร์ ชุดที่ 90 ตัวหารร่วมมาก (2)	90
แบบฝึกทักษะคณิตศาสตร์ ชุดที่ 91 จำนวนไม่ทราบค่า (1)	91
แบบฝึกทักษะคณิตศาสตร์ ชุดที่ 92 จำนวนไม่ทราบค่า (2)	92
แบบฝึกทักษะคณิตศาสตร์ ชุดที่ 93 จำนวนไม่ทราบค่า (3)	93
แบบฝึกทักษะคณิตศาสตร์ ชุดที่ 94 จำนวนไม่ทราบค่า (4)	94
แบบฝึกทักษะคณิตศาสตร์ ชุดที่ 95 จำนวนไม่ทราบค่า (5)	95
แบบฝึกทักษะคณิตศาสตร์ ชุดที่ 96 การหาพื้นที่ของรูปต่างๆ (1)	96



สารบัญ (4)

	หน้า
แบบฝึกทักษะคณิตศาสตร์ ชุดที่ 97 การหาพื้นที่ของรูปต่างๆ (2)	97
แบบฝึกทักษะคณิตศาสตร์ ชุดที่ 98 การหาพื้นที่ของรูปต่างๆ (3)	98
แบบฝึกทักษะคณิตศาสตร์ ชุดที่ 99 การหาพื้นที่ของรูปต่างๆ (4)	99
แบบฝึกทักษะคณิตศาสตร์ ชุดที่ 100 การหาพื้นที่ของรูปต่างๆ (5)	100
คณะผู้จัดทำ	101

คำชี้แจง

เมื่อครูนำแบบฝึกเพื่อพัฒนาทักษะคณิตศาสตร์นี้ไปใช้ ควรปฏิบัติดังนี้

1. แบบฝึกทักษะ ใช้ประกอบการสอนเพิ่มเติมหรือสอนเสริมกลุ่มสาระการเรียนรู้คณิตศาสตร์ ชั้นประถมศึกษาปีที่ 6 ใช้เวลาในการทำต่อ 1 ชุด เวลา 15 นาที
2. ชี้แจงขั้นตอนการเรียนโดยใช้แบบฝึกเพื่อพัฒนาทักษะคณิตศาสตร์นี้ให้นักเรียนเข้าใจ
3. แจ้งจุดประสงค์การเรียนรู้ให้นักเรียนทราบ
4. ดูแล ให้คำแนะนำนักเรียนทันทีเมื่อนักเรียนมีข้อสงสัยซักถาม
5. เมื่อนักเรียนทำแบบฝึกทักษะเสร็จแล้ว ให้ช่วยกันตรวจคำตอบจากเฉลย
6. ประเมินผลการเรียนของนักเรียนอย่างต่อเนื่องและให้แรงเสริมในการปฏิบัติกิจกรรมของนักเรียน
7. บันทึกผลการประเมินหลังการจัดกิจกรรมการเรียนรู้โดยใช้แบบฝึกทักษะทุกครั้ง

10

แบบฝึกทักษะชุดที่ 1 เรื่อง การลบจำนวนนับ (1)

คำชี้แจง ให้นักเรียนเติมคำตอบให้ถูกต้อง

1. 250 - 140 = ...
2. 3452 - 2341 = ...
3. 4356 - 2188 = ...
4. 4632 - 1227 = ...
5. 5985 - 4716 = ...
6. 7596 - 2785 = ...
7. 8518 - 6234 = ...
8. 8744 - 5867 = ...
9. 8850 - 6482 = ...
10. 9167 - 6588 = ...

ชื่อ-สกุล ..... ชั้น ..... เลขที่ .....

10

แบบฝึกทักษะชุดที่ 2 เรื่อง การลบจำนวนนับ (2)

คำชี้แจง ให้นักเรียนเติมคำตอบให้ถูกต้อง

1. 3250 - 2190 = ...
2. 3452 - 3341 = ...
3. 4656 - 2789 = ...
4. 5632 - 3228 = ...
5. 5985 - 3768 = ...
6. 7116 - 4795 = ...
7. 8318 - 6839 = ...
8. 8714 - 5269 = ...
9. 8150 - 6132 = ...
10. 9217 - 6398 = ...

ชื่อ-สกุล ..... ชั้น ..... เลขที่ .....

10

แบบฝึกทักษะชุดที่ 3 เรื่อง การลบจำนวนนับ (3)

คำชี้แจง ให้นักเรียนเติมคำตอบให้ถูกต้อง

1. 2950 - 1160 = ...
2. 3552 - 2381 = ...
3. 4946 - 3998 = ...
4. 4982 - 4297 = ...
5. 5775 - 4886 = ...
6. 7106 - 6785 = ...
7. 8788 - 6694 = ...
8. 8904 - 5897 = ...
9. 8050 - 6982 = ...
10. 9067 - 6168 = ...



ชื่อ-สกุล ..... ชั้น ..... เลขที่ .....

10

แบบฝึกทักษะชุดที่ 4 เรื่อง การลบจำนวนนับ (4)

คำชี้แจง ให้นักเรียนเติมคำตอบให้ถูกต้อง

1. 1250 - 940 = ...
2. 3052 - 2341 = ...
3. 4306 - 2189 = ...
4. 4032 - 1227 = ...
5. 5125 - 4716 = ...
6. 7196 - 2985 = ...
7. 8558 - 5964 = ...
8. 8764 - 5687 = ...
9. 8580 - 6872 = ...
10. 9107 - 7988 = ...

ชื่อ-สกุล ..... ชั้น ..... เลขที่ .....

10

แบบฝึกทักษะชุดที่ 5 เรื่อง การบวกจำนวนนับสามจำนวน (1)

คำชี้แจง ให้นักเรียนเติมคำตอบให้ถูกต้อง

1. 17 + 83 + 64 = ...
2. 24 + 38 + 46 = ...
3. 29 + 37 + 43 = ...
4. 33 + 45 + 15 = ...
5. 38 + 44 + 12 = ...
6. 48 + 35 + 65 = ...
7. 54 + 46 + 44 = ...
8. 61 + 39 + 35 = ...
9. 72 + 74 + 28 = ...
10. 91 + 19 + 23 = ...

ชื่อ-สกุล ..... ชั้น ..... เลขที่ .....

10

แบบฝึกทักษะชุดที่ 6 เรื่อง การบวกจำนวนนับสามจำนวน (2)

คำชี้แจง ให้นักเรียนเติมคำตอบให้ถูกต้อง

1. 15 + 54 + 45 = ...
2. 21 + 36 + 79 = ...
3. 25 + 48 + 35 = ...
4. 26 + 34 + 84 = ...
5. 38 + 62 + 53 = ...
6. 42 + 63 + 37 = ...
7. 45 + 55 + 68 = ...
8. 52 + 23 + 37 = ...
9. 53 + 46 + 17 = ...
10. 64 + 28 + 36 = ...

ชื่อ-สกุล ..... ชั้น ..... เลขที่ .....

10

แบบฝึกทักษะชุดที่ 7 เรื่อง การบวกจำนวนนับสามจำนวน (3)

คำชี้แจง ให้นักเรียนเติมคำตอบให้ถูกต้อง

1. 816 + 134 + 28 = ...
2. 323 + 477 + 28 = ...
3. 131 + 329 + 37 = ...
4. 432 + 347 + 68 = ...
5. 234 + 468 + 16 = ...
6. 339 + 461 + 74 = ...
7. 442 + 156 + 28 = ...
8. 146 + 237 + 43 = ...
9. 165 + 315 + 34 = ...
10. 263 + 256 + 37 = ...

ชื่อ-สกุล ..... ชั้น ..... เลขที่ .....

10

แบบฝึกทักษะชุดที่ 8 เรื่อง การบวกจำนวนนับสามจำนวน (4)

คำชี้แจง ให้นักเรียนเติมคำตอบให้ถูกต้อง

1. 15 + 138 + 245 = ...
2. 27 + 267 + 173 = ...
3. 32 + 225 + 248 = ...
4. 43 + 162 + 257 = ...
5. 48 + 433 + 122 = ...
6. 53 + 227+ 359 = ...
7. 59 + 247 + 441 = ...
8. 63 + 324 + 136 = ...
9. 68 + 241 + 232 = ...
10. 73 + 344 + 456 = ...

ชื่อ-สกุล ..... ชั้น ..... เลขที่ .....

10

แบบฝึกทักษะชุดที่ 9 เรื่อง การบวกจำนวนนับสามจำนวน (5)

คำชี้แจง ให้นักเรียนเติมคำตอบให้ถูกต้อง

1. 218 + 42 + 331 = ...
2. 26 + 427 + 554 = ...
3. 232 + 428 + 43 = ...
4. 35 + 446 + 254 = ...
5. 243 + 319 + 31 = ...
6. 49 + 437 + 123 = ...
7. 255 + 45 + 462 = ...
8. 158 + 152 + 363 = ...
9. 369 + 231 + 139 = ...
10. 283 + 357 + 218 = ...

ชื่อ-สกุล ..... ชั้น ..... เลขที่ .....

10

แบบฝึกทักษะชุดที่ 10 เรื่อง การคูณจำนวนนับ (1)

คำชี้แจง ให้นักเรียนเติมคำตอบให้ถูกต้อง

1. 105 × 2 = ...
2. 115 × 3 = ...
3. 11 × 11 = ...
4. 25 × 20 = ...
5. 11 × 99 = ...
6. 33 × 19 = ...
7. 31 × 33 = ...
8. 98 × 92 = ...
9. 105 × 15 = ...
10. 250 × 22 = ...

ชื่อ-สกุล ..... ชั้น ..... เลขที่ .....

10

แบบฝึกทักษะชุดที่ 11 เรื่อง การคูณจำนวนนับ (2)

คำชี้แจง ให้นักเรียนเติมคำตอบให้ถูกต้อง

1. 135 x 5 = ...
2. 205 x 4 = ...
3. 30 x 30 = ...
4. 31 x 31 = ...
5. 26 x 24 = ...
6. 28 x 22 = ...
7. 35 x 27 = ...
8. 33 x 99 = ...
9. 100 x 33 = ...
10. 125 x 15 = ...



ชื่อ-สกุล ..... ชั้น ..... เลขที่ .....

10

แบบฝึกทักษะชุดที่ 12 เรื่อง การคูณจำนวนนับ (3)

คำชี้แจง ให้นักเรียนเติมคำตอบให้ถูกต้อง

1. 135 × 5 = ...
2. 205 × 4 = ...
3. 30 × 30 = ...
4. 31 × 31 = ...
5. 26 × 24 = ...
6. 28 × 22 = ...
7. 35 × 27 = ...
8. 33 × 99 = ...
9. 100 × 33 = ...
10. 125 × 15 = ...

ชื่อ-สกุล ..... ชั้น ..... เลขที่ .....

10

แบบฝึกทักษะชุดที่ 13 เรื่อง การคูณจำนวนนับ (4)

คำชี้แจง ให้นักเรียนเติมคำตอบให้ถูกต้อง

1. 101 × 2 = ...
2. 540 × 7 = ...
3. 50 × 55 = ...
4. 45 × 40 = ...
5. 44 × 99 = ...
6. 41 × 41 = ...
7. 45 × 45 = ...
8. 42 × 48 = ...
9. 202 × 15 = ...
10. 251 × 44 = ...

ชื่อ-สกุล ..... ชั้น ..... เลขที่ .....

10

แบบฝึกทักษะชุดที่ 14 เรื่อง การคูณจำนวนนับ (5)

คำชี้แจง ให้นักเรียนเติมคำตอบให้ถูกต้อง

1. 502 × 8 = ...
2. 615 × 9 = ...
3. 56 × 50 = ...
4. 51 × 51 = ...
5. 59 × 43 = ...
6. 55 × 99 = ...
7. 67 × 63 = ...
8. 85 × 88 = ...
9. 101 × 15 = ...
10. 105 × 55 = ...

ชื่อ-สกุล ..... ชั้น ..... เลขที่ .....

10

แบบฝึกทักษะชุดที่ 15 เรื่อง การคูณจำนวนนับ (6)

คำชี้แจง ให้นักเรียนเติมคำตอบให้ถูกต้อง

1. 103×2 = ...
2. 105×3 = ...
3. 63×60 = ...
4. 59×51 = ...
5. 52×55 = ...
6. 61×61 = ...
7. 66×99 = ...
8. 89×81 = ...
9. 500×15 = ...
10. 101×66 = ...

ชื่อ-สกุล ..... ชั้น ..... เลขที่ .....

10

แบบฝึกทักษะชุดที่ 16 เรื่อง การคูณจำนวนนับ (7)

คำชี้แจง ให้นักเรียนเติมคำตอบให้ถูกต้อง

1. 115 × 5 = ...
2. 150 × 4 = ...
3. 70 × 70 = ...
4. 40 × 44 = ...
5. 47 × 43 = ...
6. 58 × 52 = ...
7. 71 × 71 = ...
8. 77 × 99 = ...
9. 215 × 15 = ...
10. 202 × 77 = ...

ชื่อ-สกุล ..... ชั้น ..... เลขที่ .....

10

แบบฝึกทักษะชุดที่ 17 เรื่อง การคูณจำนวนนับ (8)

คำชี้แจง ให้นักเรียนเติมคำตอบให้ถูกต้อง

1. 135 × 3 = ...
2. 208 × 6 = ...
3. 90 × 90 = ...
4. 82 × 80 = ...
5. 86 × 40 = ...
6. 48 × 42 = ...
7. 55 × 55 = ...
8. 88 × 99 = ...
9. 100 × 15 = ...
10. 500 × 88 = ...

ชื่อ-สกุล ..... ชั้น ..... เลขที่ .....

10

แบบฝึกทักษะชุดที่ 18 เรื่อง การหารจำนวนนับ (1)

คำชี้แจง ให้นักเรียนเติมคำตอบให้ถูกต้อง

1. $24 \div 6$ = ...
2. $105 \div 5$ = ...
3. $24 \div 12$ = ...
4. $228 \div 38$ = ...
5. $720 \div 40$ = ...
6. $19 \div 3$ = ...
7. $225 \div 4$ = ...
8. $41 \div 13$ = ...
9. $130 \div 30$ = ...
10. $148 \div 12$ = ...

ชื่อ-สกุล ..... ชั้น ..... เลขที่ .....

10

แบบฝึกทักษะชุดที่ 19 เรื่อง การหารจำนวนนับ (2)

คำชี้แจง ให้นักเรียนเติมคำตอบให้ถูกต้อง

1. 15 ÷ 5 = ...
2. 168 ÷ 7 = ...
3. 99 ÷ 33 = ...
4. 312 ÷ 52 = ...
5. 840 ÷ 60 = ...
6. 47 ÷ 6 = ...
7. 437 ÷ 3 = ...
8. 71 ÷ 14 = ...
9. 450 ÷ 41 = ...
10. 850 ÷ 60 = ...

ชื่อ-สกุล ..... ชั้น ..... เลขที่ .....

10

แบบฝึกทักษะชุดที่ 20 เรื่อง การหารจำนวนนับ (3)

คำชี้แจง ให้นักเรียนเติมคำตอบให้ถูกต้อง

1. $21 \div 3$ = ...
2. $110 \div 5$ = ...
3. $48 \div 12$ = ...
4. $264 \div 24$ = ...
5. $390 \div 30$ = ...
6. $48 \div 7$ = ...
7. $452 \div 5$ = ...
8. $76 \div 22$ = ...
9. $540 \div 28$ = ...
10. $770 \div 80$ = ...

ชื่อ-สกุล ..... ชั้น ..... เลขที่ .....

10

แบบฝึกทักษะชุดที่ 21 เรื่อง การหารจำนวนนับ (4)

คำชี้แจง ให้นักเรียนเติมคำตอบให้ถูกต้อง

1. $56 \div 7$ = ...
2. $152 \div 4$ = ...
3. $90 \div 18$ = ...
4. $182 \div 26$ = ...
5. $630 \div 70$ = ...
6. $48 \div 9$ = ...
7. $675 \div 6$ = ...
8. $78 \div 35$ = ...
9. $380 \div 40$ = ...
10. $462 \div 23$ = ...



ชื่อ-สกุล ..... ชั้น ..... เลขที่ .....

10

แบบฝึกทักษะชุดที่ 22 เรื่อง การหารจำนวนนับ (5)

คำชี้แจง ให้นักเรียนเติมคำตอบให้ถูกต้อง

1. $18 \div 6$ = ...
2. $224 \div 2$ = ...
3. $33 \div 11$ = ...
4. $300 \div 50$ = ...
5. $448 \div 56$ = ...
6. $34 \div 5$ = ...
7. $375 \div 6$ = ...
8. $98 \div 15$ = ...
9. $180 \div 40$ = ...
10. $963 \div 48$ = ...



ชื่อ-สกุล ..... ชั้น ..... เลขที่ .....

10

แบบฝึกทักษะชุดที่ 23 เรื่อง การหารจำนวนนับ (6)

คำชี้แจง ให้นักเรียนเติมคำตอบให้ถูกต้อง

1. $28 \div 7$ = ...
2. $672 \div 6$ = ...
3. $45 \div 15$ = ...
4. $264 \div 24$ = ...
5. $840 \div 60$ = ...
6. $47 \div 5$ = ...
7. $489 \div 8$ = ...
8. $78 \div 19$ = ...
9. $294 \div 28$ = ...
10. $680 \div 70$ = ...



ชื่อ-สกุล ..... ชั้น ..... เลขที่ .....

10

แบบฝึกทักษะชุดที่ 24 เรื่อง การหารจำนวนนับ (7)

คำชี้แจง ให้นักเรียนเติมคำตอบให้ถูกต้อง

1. $81 \div 9$ = ...
2. $784 \div 4$ = ...
3. $51 \div 17$ = ...
4. $345 \div 69$ = ...
5. $920 \div 40$ = ...
6. $19 \div 7$ = ...
7. $533 \div 4$ = ...
8. $88 \div 24$ = ...
9. $450 \div 60$ = ...
10. $344 \div 31$ = ...

ชื่อ-สกุล ..... ชั้น ..... เลขที่ .....

10

แบบฝึกทักษะชุดที่ 25 เรื่อง การหารจำนวนนับ (8)

คำชี้แจง ให้นักเรียนเติมคำตอบให้ถูกต้อง

1. 15 ÷ 5 = ...
2. 336 ÷ 3 = ...
3. 26 ÷ 13 = ...
4. 640 ÷ 20 = ...
5. 301 ÷ 43 = ...
6. 43 ÷ 6 = ...
7. 942 ÷ 5 = ...
8. 26 ÷ 12 = ...
9. 320 ÷ 50 = ...
10. 589 ÷ 28 = ...

ชื่อ-สกุล ..... ชั้น ..... เลขที่ .....

10

แบบฝึกทักษะชุดที่ 26 เรื่อง การคูณจำนวนนับสามจำนวน (1)

คำชี้แจง ให้นักเรียนเติมคำตอบให้ถูกต้อง

1. $13 \times 5 \times 2$ = ...
2. $2 \times 31 \times 5$ = ...
3. $29 \times 2 \times 50$ = ...
4. $49 \times 5 \times 20$ = ...
5. $50 \times 2 \times 53$ = ...
6. $84 \times 25 \times 4$ = ...
7. $63 \times 4 \times 25$ = ...
8. $25 \times 4 \times 44$ = ...
9. $250 \times 37 \times 4$ = ...
10. $315 \times 5 \times 200$ = ...

ชื่อ-สกุล ..... ชั้น ..... เลขที่ .....

10

แบบฝึกทักษะชุดที่ 27 เรื่อง การคูณจำนวนนับสามจำนวน (2)

คำชี้แจง ให้นักเรียนเติมคำตอบให้ถูกต้อง

1. $18 \times 5 \times 2$ = ...
2. $2 \times 33 \times 5$ = ...
3. $14 \times 2 \times 50$ = ...
4. $55 \times 5 \times 20$ = ...
5. $19 \times 2 \times 50$ = ...
6. $48 \times 25 \times 4$ = ...
7. $69 \times 4 \times 25$ = ...
8. $71 \times 4 \times 25$ = ...
9. $500 \times 61 \times 2$ = ...
10. $414 \times 5 \times 200$ = ...

ชื่อ-สกุล ..... ชั้น ..... เลขที่ .....

10

แบบฝึกทักษะชุดที่ 28 เรื่อง การคูณจำนวนนับสามจำนวน (3)

คำชี้แจง ให้นักเรียนเติมคำตอบให้ถูกต้อง

1. $23 \times 5 \times 2$ = ...
2. $2 \times 32 \times 5$ = ...
3. $20 \times 5 \times 28$ = ...
4. $78 \times 2 \times 50$ = ...
5. $25 \times 4 \times 69$ = ...
6. $56 \times 25 \times 4$ = ...
7. $41 \times 4 \times 25$ = ...
8. $25 \times 5 \times 20$ = ...
9. $250 \times 81 \times 4$ = ...
10. $624 \times 2 \times 500$ = ...

ชื่อ-สกุล ..... ชั้น ..... เลขที่ .....

10

แบบฝึกทักษะชุดที่ 29 เรื่อง การคูณจำนวนนับสามจำนวน (4)

คำชี้แจง ให้นักเรียนเติมคำตอบให้ถูกต้อง

1. $16 \times 5 \times 2$ = ...
2. $2 \times 48 \times 5$ = ...
3. $50 \times 2 \times 49$ = ...
4. $65 \times 5 \times 20$ = ...
5. $29 \times 4 \times 25$ = ...
6. $38 \times 25 \times 4$ = ...
7. $81 \times 4 \times 25$ = ...
8. $50 \times 2 \times 19$ = ...
9. $250 \times 55 \times 4$ = ...
10. $221 \times 5 \times 200$ = ...

ชื่อ-สกุล ..... ชั้น ..... เลขที่ .....

10

แบบฝึกทักษะชุดที่ 30 เรื่อง การคูณจำนวนนับสามจำนวน (5)

คำชี้แจง ให้นักเรียนเติมคำตอบให้ถูกต้อง

1. $19 \times 5 \times 2$ = ...
2. $2 \times 17 \times 5$ = ...
3. $24 \times 5 \times 20$ = ...
4. $12 \times 2 \times 50$ = ...
5. $50 \times 2 \times 44$ = ...
6. $36 \times 25 \times 4$ = ...
7. $71 \times 4 \times 25$ = ...
8. $51 \times 2 \times 50$ = ...
9. $250 \times 61 \times 4$ = ...
10. $218 \times 5 \times 200$ = ...

ชื่อ-สกุล ..... ชั้น ..... เลขที่ .....

10

แบบฝึกทักษะชุดที่ 31 เรื่อง การคูณจำนวนนับสามจำนวน (6)

คำชี้แจง ให้นักเรียนเติมคำตอบให้ถูกต้อง

1. $21 \times 5 \times 2$ = ...
2. $2 \times 37 \times 5$ = ...
3. $43 \times 2 \times 50$ = ...
4. $48 \times 5 \times 20$ = ...
5. $28 \times 4 \times 25$ = ...
6. $52 \times 25 \times 4$ = ...
7. $24 \times 4 \times 25$ = ...
8. $23 \times 2 \times 50$ = ...
9. $125 \times 16 \times 8$ = ...
10. $125 \times 5 \times 200$ = ...

ชื่อ-สกุล ..... ชั้น ..... เลขที่ .....

10

แบบฝึกทักษะชุดที่ 32 เรื่อง การคูณจำนวนนับสามจำนวน (7)

คำชี้แจง ให้นักเรียนเติมคำตอบให้ถูกต้อง

1. $15 \times 5 \times 2$ = ...
2. $2 \times 34 \times 5$ = ...
3. $14 \times 2 \times 50$ = ...
4. $33 \times 2 \times 50$ = ...
5. $72 \times 5 \times 20$ = ...
6. $26 \times 25 \times 4$ = ...
7. $81 \times 4 \times 25$ = ...
8. $98 \times 2 \times 50$ = ...
9. $125 \times 17 \times 8$ = ...
10. $293 \times 5 \times 200$ = ...

ชื่อ-สกุล ..... ชั้น ..... เลขที่ .....

10

แบบฝึกทักษะชุดที่ 33 เรื่อง การคูณจำนวนนับสามจำนวน (8)

คำชี้แจง ให้นักเรียนเติมคำตอบให้ถูกต้อง

1. $23 \times 5 \times 2$ = ...
2. $2 \times 38 \times 5$ = ...
3. $47 \times 5 \times 20$ = ...
4. $50 \times 2 \times 49$ = ...
5. $25 \times 4 \times 35$ = ...
6. $51 \times 25 \times 4$ = ...
7. $78 \times 4 \times 25$ = ...
8. $50 \times 2 \times 74$ = ...
9. $125 \times 24 \times 8$ = ...
10. $421 \times 5 \times 200$ = ...

ชื่อ-สกุล ..... ชั้น ..... เลขที่ .....

10

แบบฝึกทักษะชุดที่ 34 เรื่อง การบวก ลบ คูณ หารระคน (1)

คำชี้แจง ให้นักเรียนเติมคำตอบให้ถูกต้อง

1. (400 + 15) - 214 = ...
2. (143 + 134) × 4 = ...
3. (80 × 5) + 100 = ...
4. (125 × 5) - 421 = ...
5. (88 + 44) ÷ 2 = ...
6. (444 ÷ 4) - 111 = ...
7. (101 × 9) ÷ 3 = ...
8. (250 × 3) ÷ 50 = ...
9. (21 × 9) - (280 ÷ 10) = ...
10. (26 + 174) ÷ (2 × 5) = ...

ชื่อ-สกุล ..... ชั้น ..... เลขที่ .....

10

แบบฝึกทักษะชุดที่ 35 เรื่อง การบวก ลบ คูณ หารระคน (2)

คำชี้แจง ให้นักเรียนเติมคำตอบให้ถูกต้อง

1. (139 + 57) - 107 = ...
2. (195 + 159) × 6 = ...
3. (29 × 3) + 327 = ...
4. (240 × 2) - 312 = ...
5. (56 + 48) ÷ 4 = ...
6. (800 ÷ 5) - 137 = ...
7. (111 × 8) ÷ 4 = ...
8. (180 × 5) ÷ 30 = ...
9. (22 × 8) - (150 ÷ 30) = ...
10. (40 + 224) ÷ (2 × 2) = ...

ชื่อ-สกุล ..... ชั้น ..... เลขที่ .....

10

แบบฝึกทักษะชุดที่ 36 เรื่อง การบวก ลบ คูณ หารระคน (3)

คำชี้แจง ให้นักเรียนเติมคำตอบให้ถูกต้อง

1. (897 + 17) - 192 = ...
2. (199 + 121) × 7 = ...
3. (62 × 6) + 120 = ...
4. (181 × 6) - 213 = ...
5. (43 + 92) ÷ 3 = ...
6. (745 ÷ 5) - 129 = ...
7. (130 × 6) ÷ 5 = ...
8. (720 × 4) ÷ 20 = ...
9. (30 × 3) - (200 ÷ 20) = ...
10. (25 + 125) ÷ (5 × 2) = ...

ชื่อ-สกุล ..... ชั้น ..... เลขที่ .....

10

แบบฝึกทักษะชุดที่ 37 เรื่อง การบวก ลบ คูณ หารระคน (4)

คำชี้แจง ให้นักเรียนเติมคำตอบให้ถูกต้อง

1. (269 + 41) - 203 = ...
2. (345 + 235) × 3 = ...
3. (11 × 9) + 360 = ...
4. (146 × 5) - 253 = ...
5. (45 + 15) ÷ 6 = ...
6. (726 ÷ 6) - 100 = ...
7. (180 × 6) ÷ 9 = ...
8. (150 × 5) ÷ 50 = ...
9. (41 × 7) - (120 ÷ 20) = ...
10. (39 + 149) ÷ (2 × 2) = ...

ชื่อ-สกุล ..... ชั้น ..... เลขที่ .....

10

แบบฝึกทักษะชุดที่ 38 เรื่อง การบวก ลบ คูณ หารระคน (5)

คำชี้แจง ให้นักเรียนเติมคำตอบให้ถูกต้อง

1. (205 + 25) - 107 = ...
2. (265 + 103) × 4 = ...
3. (41 × 5) + 405 = ...
4. (130 × 8) - 910 = ...
5. (33 + 72) ÷ 3 = ...
6. (999 ÷ 3) - 122 = ...
7. (650 × 2) ÷ 5 = ...
8. (360 × 3) ÷ 60 = ...
9. (42 × 8) - (200 ÷ 50) = ...
10. (68 + 292) ÷ (2 × 6) = ...

ชื่อ-สกุล ..... ชั้น ..... เลขที่ .....

10

แบบฝึกทักษะชุดที่ 39 เรื่อง การบวก ลบ คูณ หารระคน (6)

คำชี้แจง ให้นักเรียนเติมคำตอบให้ถูกต้อง

1. (458 + 42) - 320 = ...
2. (139 + 204) × 2 = ...
3. (41 × 3) + 217 = ...
4. (242 × 6) - 400 = ...
5. (75 + 45) ÷ 5 = ...
6. (575 ÷ 5) - 137 = ...
7. (120 × 8) ÷ 6 = ...
8. (210 × 5) ÷ 70 = ...
9. (91 × 2) - (360 ÷ 12) = ...
10. (51 + 229) ÷ (7 × 2) = ...

ชื่อ-สกุล ..... ชั้น ..... เลขที่ .....

10

แบบฝึกทักษะชุดที่ 40 เรื่อง การบวก ลบ คูณ หารระคน (7)

คำชี้แจง ให้นักเรียนเติมคำตอบให้ถูกต้อง

1. (399 + 60) - 390 = ...
2. (325 + 175) × 2 = ...
3. (48 × 4) + 160 = ...
4. (234 × 3) - 220 = ...
5. (20 + 46) ÷ 3 = ...
6. (847 ÷ 7) - 112 = ...
7. (141 × 6) ÷ 3 = ...
8. (510 × 4) ÷ 40 = ...
9. (45 × 8) - (180 ÷ 10) = ...
10. (49 + 251) ÷ (6 × 5) = ...

ชื่อ-สกุล ..... ชั้น ..... เลขที่ .....

10

แบบฝึกทักษะชุดที่ 41 เรื่อง การบวก ลบ คูณ หารระคน (8)

คำชี้แจง ให้นักเรียนเติมคำตอบให้ถูกต้อง

1. (321 + 54) - 357 = ...
2. (120 + 148) × 3 = ...
3. (45 × 5) + 150 = ...
4. (128 × 4) - 372 = ...
5. (43 + 11) ÷ 6 = ...
6. (968 ÷ 8) - 100 = ...
7. (545 × 7) ÷ 5 = ...
8. (360 × 8) ÷ 60 = ...
9. (79 × 5) - (140 ÷ 70) = ...
10. (97 + 151) ÷ (2 × 4) = ...

ชื่อ-สกุล ..... ชั้น ..... เลขที่ .....

10

แบบฝึกทักษะชุดที่ 42 เรื่อง โจทย์ปัญหาการบวก ลบ คูณ หารจำนวนนับ (1)

คำชี้แจง ให้นักเรียนวิเคราะห์โจทย์ แสดงวิธีทำ และหาคำตอบโจทย์ปัญหาที่กำหนดให้ต่อไปนี้

1) สมชาย ขายมะพร้าวปีแรกได้เงิน 53,895 บาท ปีที่สองขายได้เงิน 48,950 บาท สมชายขายมะพร้าวปีแรกได้เงินมากกว่าปีที่สองกี่บาท

วิเคราะห์โจทย์

สิ่งที่โจทย์กำหนดให้ -.....

-.....

-.....

-.....

สิ่งที่โจทย์ถาม -.....

ประโยคสัญลักษณ์ -.....

คำตอบ .....

2) ดวงใจ ขายแตงโม ผลละ 40 บาท ขายได้ 250 ผล ดวงใจได้เงินทั้งหมดกี่บาท

วิเคราะห์โจทย์

สิ่งที่โจทย์กำหนดให้ -.....

-.....

-.....

-.....

สิ่งที่โจทย์ถาม -.....

ประโยคสัญลักษณ์ -.....

คำตอบ .....



ชื่อ-สกุล ..... ชั้น ..... เลขที่ .....

10

แบบฝึกทักษะชุดที่ 43 เรื่อง โจทย์ปัญหาการบวก ลบ คูณ หารจำนวนนับ (2)

คำชี้แจง ให้นักเรียนวิเคราะห์โจทย์ แสดงวิธีทำ และหาคำตอบโจทย์ปัญหาที่กำหนดให้ต่อไปนี้

1) มูลนิธิทำความดีซื้อผ้าห่ม 962,500 ผืน นำไปแจกแต่ละจังหวัดจำนวน 77 จังหวัด ได้จังหวัดละกี่ผืน

วิเคราะห์โจทย์

สิ่งที่โจทย์กำหนดให้ -.....

-.....

-.....

-.....

สิ่งที่โจทย์ถาม -.....

ประโยคสัญลักษณ์ -.....

คำตอบ .....

2) สมปองขายบ้านราคาหลังละ1,590,000 บาท จำนวน 2 หลัง นำเงินมาแบ่งให้ลูก 5 คน ได้คนละกี่บาท

วิเคราะห์โจทย์

สิ่งที่โจทย์กำหนดให้ -.....

-.....

-.....

-.....

สิ่งที่โจทย์ถาม -.....

ประโยคสัญลักษณ์ -.....

คำตอบ .....



ชื่อ-สกุล ..... ชั้น ..... เลขที่ .....

10

แบบฝึกทักษะชุดที่ 44 เรื่อง โจทย์ปัญหาการบวก ลบ คูณ หารจำนวนนับ (3)

คำชี้แจง ให้นักเรียนวิเคราะห์โจทย์ แสดงวิธีทำ และหาคำตอบโจทย์ปัญหาที่กำหนดให้ต่อไปนี้

1) ชาวสวนเก็บทุเรียนขายได้เงิน 53,895 บาท เก็บลองกองขายได้เงิน 48,950 บาท ชาวสวนเก็บผลไม้ขายได้เงินทั้งหมดกี่บาท

วิเคราะห์โจทย์

สิ่งที่โจทย์กำหนดให้ -.....

-.....

-.....

-.....

สิ่งที่โจทย์ถาม -.....

ประโยคสัญลักษณ์ -.....

คำตอบ .....

2) กมลต้องการซื้อรถจักรยานยนต์ราคา 48,900บาท เขามีเงิน 25,450บาท ต้องหาเงินเพิ่มอีกกี่บาท

วิเคราะห์โจทย์

สิ่งที่โจทย์กำหนดให้ -.....

-.....

-.....

-.....

สิ่งที่โจทย์ถาม -.....

ประโยคสัญลักษณ์ -.....

คำตอบ .....



ชื่อ-สกุล ..... ชั้น ..... เลขที่ .....

10

แบบฝึกทักษะชุดที่ 45 เรื่อง โจทย์ปัญหาการบวก ลบ คูณ หารระคน

ให้นักเรียนวิเคราะห์ แสดงวิธีทำ และหาคำตอบโจทย์ปัญหาต่อไปนี้

1) แม่ค้าซื้อกางเกงมา 185 ตัว ราคาตัวละ 220 บาท ขายไปตัวละ 299 บาท จะได้กำไรทั้งหมดกี่บาท

วิเคราะห์โจทย์

สิ่งที่โจทย์กำหนดให้ -.....

-.....

-.....

-.....

สิ่งที่โจทย์ถาม -.....

ประโยคสัญลักษณ์ -.....

คำตอบ.....

2) บ้าน 1 หลัง ใช้ทุนในการสร้าง 782,500 บาท ถ้าขายบ้านราคาหลังละ 1,599,900 บาท จำนวน 155 หลัง จะได้กำไรกี่บาท

วิเคราะห์โจทย์

สิ่งที่โจทย์กำหนดให้ -.....

-.....

-.....

-.....

สิ่งที่โจทย์ถาม -.....

ประโยคสัญลักษณ์ -.....

คำตอบ.....



ชื่อ-สกุล ..... ชั้น ..... เลขที่ .....

แบบฝึกทักษะชุดที่ 46 เรื่อง การบวก ลบ คูณ หารเศษส่วนและจำนวนคละ (1)

10

คำชี้แจง ให้นักเรียนเติมคำตอบให้ถูกต้อง

1) $\frac{1}{3} + \frac{1}{3} =$ .....

2) $\frac{2}{4} + \frac{1}{4} =$ .....

3) $\frac{1}{5} + \frac{3}{5} =$ .....

4) $\frac{1}{2} + \frac{1}{2} =$ .....

5) $\frac{2}{5} + \frac{3}{5} =$ .....

6) $\frac{3}{4} + \frac{2}{4} =$ .....

7) $\frac{1}{5} + \frac{4}{5} =$ .....

8) $\frac{3}{4} + \frac{1}{4} =$ .....

9) $2\frac{2}{6} + \frac{3}{6} =$ .....

10) พ่อซื้ออาหารไก่มาถุงแรกหนัก $12\frac{1}{2}$ กิโลกรัม ถุงที่สองหนัก $10\frac{1}{2}$ กิโลกรัม รวมแล้วอาหารไก่หนักทั้งหมดเท่าใด

ตอบ .....

ชื่อ-สกุล ..... ชั้น ..... เลขที่ .....

10

แบบฝึกทักษะชุดที่ 47 เรื่อง การบวก ลบ คูณ หารเศษส่วนและจำนวนคละ (2)

คำชี้แจง ให้นักเรียนเติมคำตอบให้ถูกต้อง

1) $\frac{1}{6} + \frac{2}{3} =$ .....

2) $\frac{1}{4} + \frac{2}{4} =$ .....

3) $\frac{1}{1} + \frac{1}{2} =$ .....

4) $\frac{2}{4} + \frac{2}{8} =$ .....

5) $\frac{1}{5} + \frac{2}{10} =$ .....

6) $\frac{1}{3} + \frac{4}{6} =$ .....

7) $\frac{3}{5} + \frac{1}{5} =$ .....

8) $\frac{3}{4} + \frac{1}{2} =$ .....

9) $\frac{1}{16} + \frac{1}{4} =$ .....

10) ข้าวสารถุงแรกหนัก $12\frac{3}{4}$ กิโลกรัม ถุงที่สองหนัก $7\frac{1}{2}$ กิโลกรัม รวมแล้วข้าวสารหนักทั้งหมดเท่าใด

ตอบ .....

ชื่อ-สกุล ..... ชั้น ..... เลขที่ .....

แบบฝึกทักษะชุดที่ 48 เรื่อง การบวก ลบ คูณ หารเศษส่วนและจำนวนคละ (3)

10

คำชี้แจง ให้นักเรียนเติมคำตอบให้ถูกต้อง

1) $\frac{1}{3} + 1\frac{1}{3} =$ .....

2) $\frac{2}{4} + 2\frac{1}{4} =$ .....

3) $\frac{1}{5} + 1\frac{3}{5} =$ .....

4) $\frac{1}{2} + 2\frac{1}{2} =$ .....

5) $2\frac{2}{5} + \frac{3}{5} =$ .....

6) $1\frac{3}{4} + \frac{2}{4} =$ .....

7) $\frac{1}{5} + 2\frac{4}{5} =$ .....

8) $2\frac{3}{4} + \frac{1}{4} =$ .....

9) $\frac{1}{3} + 3\frac{2}{3} =$ .....

10) เชือกเส้นที่หนึ่งยาว $\frac{7}{8}$ เมตร เส้นที่สองยาว $\frac{3}{4}$ เมตร นำเชือกทั้งสอง เส้นมาวางต่อกันจะได้เชือกยาวกี่เมตร

ตอบ .....

ชื่อ-สกุล ..... ชั้น ..... เลขที่ .....

แบบฝึกทักษะชุดที่ 49 เรื่อง การบวก ลบ คูณ หารเศษส่วนและจำนวนคละ (4)

10

คำชี้แจง ให้นักเรียนเติมคำตอบให้ถูกต้อง

1) $\frac{3}{4} + \frac{1}{12} =$ .....

2) $\frac{2}{10} + \frac{3}{5} =$ .....

3) $\frac{1}{3} + \frac{4}{6} =$ .....

4) $\frac{2}{4} + \frac{2}{16} =$ .....

5) $\frac{1}{10} + \frac{3}{5} =$ .....

6) $\frac{4}{6} + \frac{2}{3} =$ ....

7) $\frac{1}{15} + \frac{1}{5} =$ .....

8) $\frac{3}{12} + \frac{3}{6} =$ .....

9) $\frac{1}{24} + \frac{2}{6} =$ .....

10) พ่อขับรถชั่วโมงแรกได้ระทาง $90\frac{1}{2}$ กิโลเมตร ชั่วโมงที่สองได้ระยะทาง อีก $85\frac{1}{5}$ กิโลเมตร รวมระยะทางเป็นเท่าใด

ตอบ .....

ชื่อ-สกุล ..... ชั้น ..... เลขที่ .....

แบบฝึกทักษะชุดที่ 50 เรื่อง การบวก ลบ คูณ หารเศษส่วนและจำนวนคละ (5)

10

คำชี้แจง ให้นักเรียนเติมคำตอบให้ถูกต้อง

1) $1\frac{3}{4} + \frac{1}{12} =$ .....

2) $\frac{2}{10} + 2\frac{3}{5} =$ .....

3) $3\frac{1}{3} + \frac{4}{6} =$ .....

4) $1\frac{2}{4} + \frac{2}{16} =$ .....

5) $\frac{1}{10} + 1\frac{3}{5} =$ ....

6) $\frac{4}{6} + 2\frac{2}{3} =$ .....

7) $\frac{1}{15} + 2\frac{1}{5} =$ .....

8) $1\frac{3}{12} + \frac{3}{6} =$ .....

9) $1\frac{1}{24} + 1\frac{2}{6} =$ .....

10) มีน้ำประปาอยู่ $\frac{1}{16}$ ของถัง เปิดน้ำใส่อีก $\frac{1}{4}$ ของถัง ขณะนี้มีน้ำอยู่ในถังคิดเป็นเศษส่วนเท่าใด

ตอบ .....

ชื่อ-สกุล ..... ชั้น ..... เลขที่ .....

10

แบบฝึกทักษะชุดที่ 51 เรื่อง การบวก ลบ คูณ หารเศษส่วนและจำนวนคละ (6)

คำชี้แจง ให้นักเรียนเติมคำตอบให้ถูกต้อง

1) $\frac{3}{8} + \frac{5}{8} =$ .....

2) $\frac{7}{9} + \frac{5}{9} =$ .....

3) $\frac{1}{10} + \frac{7}{10} =$ .....

4) $\frac{5}{16} + \frac{3}{16} =$ .....

5) $\frac{5}{9} + \frac{2}{9} =$ .....

6) $\frac{4}{8} + \frac{2}{8} =$ .....

7) $\frac{3}{15} + \frac{8}{15} =$ .....

8) $\frac{3}{12} + \frac{4}{12} =$ .....

9) $\frac{1}{14} + \frac{2}{14} =$ .....

10) สวนแห่งหนึ่งปลูกทุเรียนเป็น $\frac{2}{4}$ ของพื้นที่ทั้งหมด ปลูกมะม่วง เป็น $\frac{1}{5}$ ของพื้นที่ทั้งหมด รวมพื้นที่ที่ปลูกทั้งสองชนิดเป็นเท่าใด

ตอบ .....

ชื่อ-สกุล ..... ชั้น ..... เลขที่ .....

แบบฝึกทักษะชุดที่ 52 เรื่อง การบวก ลบ คูณ หารเศษส่วนและจำนวนคละ (7)

10

คำชี้แจง ให้นักเรียนเติมคำตอบให้ถูกต้อง

1) $\frac{3}{8} + \frac{3}{4} =$ .....

2) $\frac{7}{18} + \frac{5}{9} =$ .....

3) $\frac{1}{10} + \frac{7}{5} =$ .....

4) $\frac{5}{8} + \frac{3}{16} =$ .....

5) $\frac{5}{9} + \frac{2}{3} =$ .....

6) $\frac{4}{12} + \frac{2}{6} =$ .....

7) $\frac{3}{15} + \frac{4}{5} =$ .....

8) $\frac{3}{12} + \frac{4}{6} =$ .....

9) $\frac{1}{16} + \frac{5}{16} =$ .....

10) หนูนิดเก็บขยะรีไซเคิลได้ $\frac{2}{6}$ กิโลกรัม หนูหน่อย เก็บขยะรีไซเคิลได้ $\frac{3}{5}$ กิโลกรัม หนูนิดและหนูหน่อยเก็บขยะรีไซเคิลได้เท่าไร

ตอบ .....

ชื่อ-สกุล ..... ชั้น ..... เลขที่ .....

10

แบบฝึกทักษะชุดที่ 53 เรื่อง การบวก ลบ คูณ หารเศษส่วนและจำนวนคละ (8)

คำชี้แจง ให้นักเรียนเติมคำตอบให้ถูกต้อง

1) $\frac{3}{8} + 1\frac{5}{8} =$ .....

2) $\frac{7}{9} + 1\frac{5}{9} =$ .....

3) $2\frac{1}{10} + \frac{7}{10} =$ .....

4) $1\frac{5}{16} + \frac{3}{16} =$ .....

5) $\frac{5}{9} + 2\frac{2}{9} =$ .....

6) $\frac{4}{8} + 3\frac{2}{8} =$ .....

7) $1\frac{3}{15} + \frac{8}{15} =$ .....

8) $\frac{3}{12} + 1\frac{4}{12} =$ .....

9) $\frac{1}{14} + \frac{8}{42} =$

10) ต้อยหนัก $45\frac{1}{2}$ กิโลกรัม ติ๋วหนัก $40\frac{3}{4}$ กิโลกรัม ทั้งสองคนมีน้ำหนักรวมกันเท่าไร

ตอบ .....

ชื่อ-สกุล ..... ชั้น ..... เลขที่ .....

แบบฝึกทักษะชุดที่ 54 เรื่อง การบวก ลบ คูณ หารเศษส่วนและจำนวนคละ (9)

10

คำชี้แจง ให้นักเรียนเติมคำตอบให้ถูกต้อง

1) $\frac{3}{8} + \frac{3}{16} =$ .....

2) $\frac{7}{27} + \frac{5}{9} =$ .....

3) $\frac{1}{10} + \frac{7}{20} =$ .....

4) $\frac{5}{8} + \frac{3}{4} =$ .....

5) $\frac{5}{9} + \frac{5}{27} =$ .....

6) $\frac{4}{12} + \frac{6}{24} =$ .....

7) $\frac{3}{15} + \frac{8}{30} =$ .....

8) $\frac{3}{12} + \frac{12}{36} =$ .....

9) $1\frac{1}{14} + 2\frac{2}{14} =$

10) เทน้ำตาลทรายหนัก $5\frac{1}{2}$ กิโลกรัม ผสมกับแป้ง ที่หนัก $3\frac{1}{3}$ กิโลกรัม ทั้งสองหนักรวมกันเท่าไร

ตอบ .....

ชื่อ-สกุล ..... ชั้น ..... เลขที่ .....

แบบฝึกทักษะชุดที่ 55 เรื่อง การบวก ลบ คูณ หารเศษส่วนและจำนวนคละ (10)

10

คำชี้แจง ให้นักเรียนเติมคำตอบให้ถูกต้อง

1) $\frac{4}{8} + 1\frac{3}{16} =$ .....

2) $1\frac{7}{27} + \frac{5}{9} =$ .....

3) $2\frac{1}{10} + \frac{7}{20} =$ .....

4) $\frac{5}{8} + 2\frac{3}{4} =$ .....

5) $1\frac{5}{9} + \frac{5}{27} =$ .....

6) $1\frac{4}{12} + \frac{6}{24} =$ .....

7) $2\frac{3}{15} + \frac{8}{30} =$ .....

8) $3\frac{3}{12} + \frac{12}{36} =$ .....

9) $2\frac{1}{14} + \frac{4}{7} =$

10) มีริบบิ้นเส้นหนึ่ง ตัดไปใช้ $5\frac{1}{4}$ เมตร แล้วยัง เหลืออีก $3\frac{2}{5}$ เมตร เดิมริบบิ้นเส้นนี้ยาวเท่าไร

ตอบ .....

ชื่อ-สกุล ..... ชั้น ..... เลขที่ .....

แบบฝึกทักษะชุดที่ 56 เรื่อง การบวก ลบ คูณ หารเศษส่วนและจำนวนคละ (11)

10

คำชี้แจง ให้นักเรียนเติมคำตอบให้ถูกต้อง

1) $\frac{1}{3} - \frac{1}{3} =$ .....

2) $\frac{2}{4} - \frac{1}{4} =$ .....

3) $\frac{3}{5} - \frac{1}{5} =$ .....

4) $\frac{2}{2} - \frac{1}{2} =$ .....

5) $\frac{5}{5} - \frac{3}{5} =$ .....

6) $\frac{3}{4} - \frac{2}{4} =$ .....

7) $\frac{4}{5} - \frac{1}{5} =$ .....

8) $\frac{3}{4} - \frac{1}{4} =$ .....

9) $2\frac{1}{16} - 1\frac{1}{4} =$ .....

10) พ่อค้ามีลำไย 20 กิโลกรัม ขายไป $4\frac{3}{4}$ กิโลกรัม พ่อค้า เหลือลำไยกี่กิโลกรัม

ตอบ .....

ชื่อ-สกุล ..... ชั้น ..... เลขที่ .....

แบบฝึกทักษะชุดที่ 57 เรื่อง การบวก ลบ คูณ หารเศษส่วนและจำนวนคละ (12)

10

คำชี้แจง ให้นักเรียนเติมคำตอบให้ถูกต้อง

1) $\frac{2}{3} - \frac{1}{6} =$ .....

2) $\frac{3}{4} - \frac{2}{4} =$ .....

3) $\frac{1}{1} - \frac{1}{2} =$ .....

4) $\frac{2}{4} - \frac{2}{8} =$ .....

5) $\frac{1}{5} - \frac{2}{10} =$ .....

6) $\frac{2}{3} - \frac{4}{6} =$ .....

7) $\frac{3}{5} - \frac{1}{5} =$ .....

8) $\frac{3}{4} - \frac{1}{2} =$ .....

9) $\frac{1}{5} - \frac{1}{15} =$ .....

10) โอ่งใบหนึ่งจุน้ำได้ $\frac{3}{4}$ ลูกบาศก์เมตร ใช้ไป $\frac{1}{2}$ ลูกบาศก์เมตร เหลือน้ำในโอ่งเท่าไร

ตอบ .....



ชื่อ-สกุล ..... ชั้น ..... เลขที่ .....

แบบฝึกทักษะชุดที่ 58 เรื่อง การบวก ลบ คูณ หารเศษส่วนและจำนวนคละ (13)

10

คำชี้แจง ให้นักเรียนเติมคำตอบให้ถูกต้อง

1) $1\frac{1}{3} - \frac{1}{3} =$ .....

2) $3\frac{1}{4} - \frac{3}{4} =$ .....

3) $2\frac{1}{5} - \frac{3}{5} =$ .....

4) $4\frac{1}{2} - \frac{7}{2} =$ .....

5) $2\frac{2}{5} - \frac{4}{5} =$ .....

6) $1\frac{3}{4} - \frac{2}{4} =$ .....

7) $3\frac{1}{5} - \frac{4}{5} =$ .....

8) $2\frac{3}{4} - \frac{1}{4} =$ .....

9) $4\frac{1}{3} - 3\frac{2}{3} =$ .....

10) วีระมีปุ๋ยเคมีอยู่ 40 กิโลกรัม ใช้ไป $15\frac{4}{5}$ กิโลกรัม วีระเหลือปุ๋ยกี่กิโลกรัม

ตอบ .....

ชื่อ-สกุล ..... ชั้น ..... เลขที่ .....

แบบฝึกทักษะชุดที่ 59 เรื่อง การบวก ลบ คูณ หารเศษส่วนและจำนวนคละ (14)

10

คำชี้แจง ให้นักเรียนเติมคำตอบให้ถูกต้อง

1) $\frac{3}{4} - \frac{5}{12} =$ .....

2) $\frac{6}{10} - \frac{3}{5} =$ .....

3) $\frac{2}{3} - \frac{4}{6} =$ .....

4) $\frac{2}{4} - \frac{2}{16} =$ .....

5) $\frac{3}{10} - \frac{1}{5} =$ .....

6) $\frac{4}{6} - \frac{2}{3} =$ .....

7) $\frac{9}{15} - \frac{1}{5} =$ .....

8) $\frac{11}{12} - \frac{3}{6} =$ .....

9) $\frac{20}{24} - \frac{2}{6} =$ .....

10) ความยาวรอบสะโพกและรอบเอวของนิดต่างกัน $8\frac{1}{4}$ นิ้ว ถ้าความยาวรอบสะโพกของนิดเท่ากับ $33\frac{3}{4}$ นิ้ว ความยาวรอบเอวของนิดเป็นเท่าไร

ตอบ .....

ชื่อ-สกุล ..... ชั้น ..... เลขที่ .....

แบบฝึกทักษะชุดที่ 60 เรื่อง การบวก ลบ คูณ หารเศษส่วนและจำนวนคละ (15)

10

คำชี้แจง ให้นักเรียนเติมคำตอบให้ถูกต้อง

1) $1\frac{1}{4} - \frac{10}{12} =$ .....

2) $1\frac{2}{10} - \frac{3}{5} =$ .....

3) $3\frac{1}{3} - \frac{4}{6} =$ .....

4) $1\frac{2}{4} - \frac{14}{16} =$ .....

5) $2\frac{1}{10} - \frac{3}{5} =$ .....

6) $2\frac{3}{6} - \frac{2}{3} =$ .....

7) $1\frac{1}{15} - \frac{4}{5} =$ .....

8) $1\frac{3}{12} - \frac{5}{6} =$ .....

9) $2\frac{1}{24} - 1\frac{2}{6} =$ .....

10) พี่ชายกระโดดไกลได้ $5\frac{3}{5}$ เมตร น้องสาวกระโดดได้น้อยกว่าพี่ชาย $1\frac{1}{2}$ เมตร น้องสาวกระโดดได้คิดเป็นเศษส่วนเท่าไร

ตอบ .....

ชื่อ-สกุล ..... ชั้น ..... เลขที่ .....

แบบฝึกทักษะชุดที่ 61 เรื่อง การบวก ลบ คูณ หารเศษส่วนและจำนวนคละ (16)

10

คำชี้แจง ให้นักเรียนเติมคำตอบให้ถูกต้อง

1) $\frac{7}{8} - \frac{5}{8} =$ .....

2) $\frac{7}{9} - \frac{5}{9} =$ .....

3) $\frac{10}{10} - \frac{7}{10} =$ .....

4) $\frac{5}{16} - \frac{3}{16} =$ .....

5) $\frac{5}{9} - \frac{2}{9} =$ .....

6) $\frac{7}{8} - \frac{5}{8} =$ .....

7) $\frac{11}{15} - \frac{8}{15} =$ .....

8) $\frac{10}{12} - \frac{4}{12} =$ .....

9) $\frac{12}{14} - \frac{2}{14} =$ .....

10) พ่อค้ามีปลาอยู่ $25\frac{1}{2}$ กิโลกรัม ขายไป $8\frac{1}{5}$ กิโลกรัม พ่อค้าเหลือปลากี่กิโลกรัม

ตอบ .....

ชื่อ-สกุล ..... ชั้น ..... เลขที่ .....

แบบฝึกทักษะชุดที่ 62 เรื่อง การบวก ลบ คูณ หารเศษส่วนและจำนวนคละ (17)

10

คำชี้แจง ให้นักเรียนเติมคำตอบให้ถูกต้อง

1) $\frac{7}{8} - \frac{3}{4} =$ .....

2) $\frac{7}{18} - \frac{3}{9} =$ .....

3) $\frac{9}{10} - \frac{4}{5} =$ .....

4) $\frac{5}{8} - \frac{3}{16} =$ .....

5) $\frac{9}{9} - \frac{2}{3} =$ .....

6) $\frac{4}{12} - \frac{2}{6} =$ .....

7) $\frac{13}{15} - \frac{4}{5} =$ .....

8) $\frac{11}{12} - \frac{4}{6} =$ .....

9) $\frac{10}{14} - \frac{2}{7} =$ .....

10) คุณปู่มีที่ดิน $25\frac{3}{4}$ ไร่ ขายไป $18\frac{1}{2}$ ไร่ คุณปู่มีที่ดินเหลืออยู่เท่าไร

ตอบ .....

ชื่อ-สกุล ..... ชั้น ..... เลขที่ .....

แบบฝึกทักษะชุดที่ 63 เรื่อง การบวก ลบ คูณ หารเศษส่วนและจำนวนคละ (18)

10

คำชี้แจง ให้นักเรียนเติมคำตอบให้ถูกต้อง

1) $1\frac{3}{8} - \frac{5}{8} =$ .....

2) $2\frac{7}{9} - \frac{5}{9} =$ .....

3) $2\frac{1}{10} - \frac{7}{10} =$ .....

4) $1\frac{5}{16} - \frac{12}{16} =$ .....

5) $2\frac{1}{9} - \frac{2}{9} =$ .....

6) $1\frac{4}{8} - \frac{2}{8} =$ .....

7) $1\frac{3}{15} - \frac{12}{15} =$ .....

8) $3\frac{3}{12} - \frac{4}{12} =$ .....

9) $3\frac{1}{14} - 2\frac{2}{14} =$ .....

10) น้ำผึ้ง $\frac{3}{4}$ ของขวด เทออกมาผสมยา $\frac{2}{7}$ ของขวด เหลือน้ำผึ้งในขวดเศษส่วนเท่าใดของขวด

ตอบ .....

ชื่อ-สกุล ..... ชั้น ..... เลขที่ .....

แบบฝึกทักษะชุดที่ 64 เรื่อง การบวก ลบ คูณ หารเศษส่วนและจำนวนคละ (19)

10

คำชี้แจง ให้นักเรียนเติมคำตอบให้ถูกต้อง

1) $\frac{5}{8} - \frac{3}{16} =$ .....

2) $\frac{5}{9} - \frac{7}{27} =$ .....

3) $\frac{5}{10} - \frac{7}{20} =$ .....

4) $\frac{7}{8} - \frac{3}{4} =$ .....

5) $\frac{5}{9} - \frac{5}{27} =$ .....

6) $\frac{8}{12} - \frac{6}{24} =$ .....

7) $\frac{9}{15} - \frac{8}{30} =$ .....

8) $\frac{6}{12} - \frac{12}{36} =$ .....

9) $\frac{5}{10} - \frac{8}{30} =$ .....

10) มีปุ๋ย $\frac{5}{6}$ ของกระสอบ ใช้ไปแล้ว $\frac{7}{10}$ ของกระสอบ จะ เหลือปุ๋ยเป็นเศษส่วนเท่าใดของกระสอบ

ตอบ .....

ชื่อ-สกุล ..... ชั้น ..... เลขที่ .....

แบบฝึกทักษะชุดที่ 65 เรื่อง การบวก ลบ คูณ หารเศษส่วนและจำนวนคละ (20)

10

คำชี้แจง ให้นักเรียนเติมคำตอบให้ถูกต้อง

1) $2\frac{4}{8} - \frac{3}{16} =$ .....

2) $1\frac{8}{27} - \frac{5}{9} =$ .....

3) $2\frac{2}{10} - \frac{16}{30} =$ .....

4) $\frac{5}{20} - \frac{1}{4} =$ .....

5) $1\frac{1}{9} - \frac{5}{27} =$ .....

6) $1\frac{4}{12} - \frac{6}{24} =$ ....

7) $1\frac{5}{15} - \frac{10}{30} =$ .....

8) $1\frac{5}{12} - \frac{12}{36} =$ .....

9) $3\frac{2}{6} - 1\frac{4}{12} =$ .....

10) ชั่งขนุนสองผลหนักรวมกันเป็น $7\frac{3}{10}$ กิโลกรัม ถ้าผลแรกหนัก $3\frac{2}{5}$ กิโลกรัม แล้วผลที่เหลือจะหนักเท่าใด

ตอบ .....

ชื่อ-สกุล ..... ชั้น ..... เลขที่ .....

10

แบบฝึกทักษะชุดที่ 66 เรื่อง การบวก ลบ คูณ หารเศษส่วนและจำนวนคละ (21)

คำชี้แจง ให้นักเรียนเติมคำตอบให้ถูกต้อง

1) $\frac{1}{3} \times \frac{1}{3} =$ .....

2) $\frac{2}{4} \times \frac{1}{4} =$ .....

3) $\frac{1}{5} \times \frac{3}{5} =$ .....

4) $\frac{1}{2} \times \frac{3}{2} =$ .....

5) $\frac{2}{5} \times \frac{3}{5} =$ .....

6) $\frac{3}{4} \times \frac{2}{4} =$ .....

7) $\frac{1}{5} \times \frac{4}{5} =$ .....

8) $\frac{3}{4} \times \frac{1}{4} =$ .....

9) $\frac{1}{3} \times \frac{2}{3} =$ .....

10) นักเรียนห้องหนึ่งมีทั้งหมด 30 คน สำรวจพบว่าเดินทางมาโรงเรียน ด้วยรถประจำทางคิดเป็น $\frac{3}{5}$ ของนักเรียนทั้งหมด มีนักเรียนเดินทางมาโรงเรียน ด้วยรถประจำทาง จำนวนเท่าใด

ตอบ .....

ชื่อ-สกุล ..... ชั้น ..... เลขที่ .....

แบบฝึกทักษะชุดที่ 67 เรื่อง การบวก ลบ คูณ หารเศษส่วนและจำนวนคละ (22)

10

คำชี้แจง ให้นักเรียนเติมคำตอบให้ถูกต้อง

1) $\frac{1}{6} \times \frac{3}{2} =$ .....

2) $\frac{1}{4} \times \frac{2}{3} =$ .....

3) $\frac{4}{5} \times \frac{1}{2} =$ .....

4) $\frac{2}{4} \times \frac{2}{8} =$ .....

5) $\frac{1}{5} \times \frac{2}{10} =$ .....

6) $\frac{1}{3} \times \frac{9}{6} =$ .....

7) $\frac{3}{5} \times \frac{1}{5} =$ .....

8) $\frac{3}{4} \times \frac{4}{3} =$ .....

9) $\frac{5}{3} \times \frac{1}{15} =$ .....

10) ต้อมมีเงิน $\frac{3}{5}$ ของติ๋ว ติ๋วมีเงิน $\frac{5}{7}$ ของเล็ก ถ้าเล็กมีเงิน 1,400 บาท ต้อมมีเงินเท่าไร

ตอบ .....

ชื่อ-สกุล ..... ชั้น ..... เลขที่ .....

แบบฝึกทักษะชุดที่ 68 เรื่อง การบวก ลบ คูณ หารเศษส่วนและจำนวนคละ (23)

10

คำชี้แจง ให้นักเรียนเติมคำตอบให้ถูกต้อง

1) $\frac{3}{4} \times 1\frac{1}{3} =$ .....

2) $\frac{4}{3} \times 2\frac{1}{4} =$ .....

3) $\frac{10}{8} \times 1\frac{3}{5} =$ .....

4) $\frac{4}{10} \times 2\frac{1}{2} =$ .....

5) $2\frac{2}{5} \times \frac{5}{6} =$ .....

6) $1\frac{3}{4} \times \frac{8}{7} =$ .....

7) $\frac{15}{7} \times 2\frac{4}{5} =$ .....

8) $2\frac{3}{4} \times \frac{12}{11} =$ .....

9) $\frac{6}{7} \times 3\frac{2}{3} =$ .....

10) ป้านิ่มหุงข้าววันละ $\frac{3}{7}$ กิโลกรัม ในเวลา 4 สัปดาห์ ป้านิ่มหุงข้าวหมดไปกี่กิโลกรัม

ตอบ .....



ชื่อ-สกุล ..... ชั้น ..... เลขที่ .....

แบบฝึกทักษะชุดที่ 69 เรื่อง การบวก ลบ คูณ หารเศษส่วนและจำนวนคละ (24)

10

คำชี้แจง ให้นักเรียนเติมคำตอบให้ถูกต้อง

1) $\frac{3}{4} \times \frac{8}{12} =$ .....

2) $\frac{2}{10} \times \frac{5}{6} =$ .....

3) $\frac{3}{4} \times \frac{4}{6} =$ .....

4) $\frac{3}{4} \times \frac{2}{16} =$ .....

5) $\frac{4}{10} \times \frac{15}{16} =$ .....

6) $\frac{4}{6} \times \frac{2}{3} =$ .....

7) $\frac{7}{15} \times \frac{3}{5} =$ .....

8) $\frac{3}{12} \times \frac{3}{6} =$ .....

9) $\frac{3}{21} \times \frac{7}{6} =$ .....

10) ซื้อมะม่วงมา 200 ผล เน่าเสีย $\frac{1}{5}$ ของมะม่วงทั้งหมด ถ้าขายมะม่วงไป 150 ผล จะเหลือมะม่วงกี่ผล

ตอบ .....

ชื่อ-สกุล ..... ชั้น ..... เลขที่ .....

แบบฝึกทักษะชุดที่ 70 เรื่อง การบวก ลบ คูณ หารเศษส่วนและจำนวนคละ (25)

10

คำชี้แจง ให้นักเรียนเติมคำตอบให้ถูกต้อง

1) $1\frac{3}{4} \times \frac{4}{14} =$ .....

2) $\frac{10}{12} \times 2\frac{3}{5} =$ .....

3) $3\frac{1}{3} \times \frac{3}{5} =$ .....

4) $1\frac{2}{4} \times \frac{20}{24} =$ .....

5) $\frac{15}{16} \times 1\frac{3}{5} =$ .....

6) $\frac{9}{6} \times 2\frac{2}{3} =$ .....

7) $\frac{15}{121} \times 2\frac{1}{5} =$ .....

8) $1\frac{3}{12} \times \frac{36}{45} =$ .....

9) $1\frac{6}{24} \times 1\frac{2}{6} =$ .....

10) $\frac{2}{3}$ ของเงิน 99 บาท คิดเป็นเงินกี่บาท

ตอบ .....

ชื่อ-สกุล ..... ชั้น ..... เลขที่ .....

แบบฝึกทักษะชุดที่ 71 เรื่อง การบวก ลบ คูณ หารเศษส่วนและจำนวนคละ (26)

10

คำชี้แจง ให้นักเรียนเติมคำตอบให้ถูกต้อง

1) $\frac{3}{8} \times \frac{4}{8} =$ .....

2) $\frac{7}{9} \times \frac{9}{14} =$ .....

3) $\frac{2}{10} \times \frac{7}{10} =$ .....

4) $\frac{4}{9} \times \frac{3}{16} =$ .....

5) $\frac{5}{9} \times \frac{3}{15} =$ .....

6) $\frac{4}{8} \times \frac{8}{32} =$ .....

7) $\frac{3}{15} \times \frac{45}{15} =$ .....

8) $\frac{3}{27} \times \frac{4}{12} =$ .....

9) $\frac{28}{50} \times \frac{2}{14} =$ .....

10) วีระมีเงิน 450 บาท ใช้ไป $\frac{11}{15}$ ของเงินที่มีอยู่ วีระเหลือเงินกี่บาท

ตอบ .....

ชื่อ-สกุล ..... ชั้น ..... เลขที่ .....

แบบฝึกทักษะชุดที่ 72 เรื่อง การบวก ลบ คูณ หารเศษส่วนและจำนวนคละ (27)

10

คำชี้แจง ให้นักเรียนเติมคำตอบให้ถูกต้อง

1) $\frac{3}{8} \times \frac{24}{30} =$ .....

2) $\frac{7}{18} \times \frac{9}{49} =$ .....

3) $\frac{30}{42} \times \frac{7}{5} =$ .....

4) $\frac{32}{36} \times \frac{3}{16} =$ .....

5) $\frac{5}{9} \times \frac{81}{100} =$ .....

6) $\frac{4}{12} \times \frac{24}{36} =$ .....

7) $\frac{3}{15} \times \frac{30}{15} =$ ....

8) $\frac{3}{12} \times \frac{4}{6} =$ .....

9) $\frac{1}{14} \times \frac{7}{9} =$ .....

10) แม่มีเงินอยู่ 1,000 บาท ให้ลูกไป $\frac{12}{25}$ ของเงิน ที่มีอยู่ แม่จะเหลือเงินเท่าไร

ตอบ .....

ชื่อ-สกุล ..... ชั้น ..... เลขที่ .....

แบบฝึกทักษะชุดที่ 73 เรื่อง การบวก ลบ คูณ หารเศษส่วนและจำนวนคละ (28)

10

คำชี้แจง ให้นักเรียนเติมคำตอบให้ถูกต้อง

1) $\frac{8}{13} \times 1\frac{5}{8} =$ .....

2) $\frac{9}{14} \times 1\frac{5}{9} =$ .....

3) $2\frac{1}{10} \times \frac{5}{7} =$ .....

4) $1\frac{5}{16} \times \frac{8}{21} =$ .....

5) $\frac{3}{10} \times 2\frac{2}{9} =$ .....

6) $\frac{8}{26} \times 3\frac{2}{8} =$ .....

7) $1\frac{3}{15} \times \frac{5}{9} =$ .....

8) $\frac{3}{16} \times 1\frac{4}{12} =$ .....

9) $1\frac{1}{14} \times 1\frac{6}{8} =$ .....

10) พี่มีอายุ $20\frac{2}{3}$ ปี น้องมีอายุเป็น $\frac{3}{4}$ ของอายุพี่ จงหาว่าน้องมีอายุกี่ปีกี่เดือน

ตอบ .....

ชื่อ-สกุล ..... ชั้น ..... เลขที่ .....

แบบฝึกทักษะชุดที่ 74 เรื่อง การบวก ลบ คูณ หารเศษส่วนและจำนวนคละ (29)

10

คำชี้แจง ให้นักเรียนเติมคำตอบให้ถูกต้อง

1) $\frac{16}{3} \times \frac{3}{16} =$ .....

2) $\frac{3}{25} \times \frac{5}{9} =$ .....

3) $\frac{5}{14} \times \frac{7}{20} =$ .....

4) $\frac{5}{8} \times \frac{4}{10} =$ .....

5) $\frac{5}{9} \times \frac{5}{2} =$ .....

6) $\frac{4}{12} \times \frac{6}{24} =$ .....

7) $\frac{3}{15} \times \frac{5}{30} =$ .....

8) $\frac{3}{12} \times \frac{12}{36} =$ .....

9) $\frac{4}{14} \times \frac{7}{36} =$ .....

10) ถ้า $\frac{3}{5}$ ของขนมกล่องหนึ่งมี 36 ชิ้น อยากทราบ ว่าขนมทั้งหมดมีกี่ชิ้น

ตอบ .....

ชื่อ-สกุล ..... ชั้น ..... เลขที่ .....

แบบฝึกทักษะชุดที่ 75 เรื่อง การบวก ลบ คูณ หารเศษส่วนและจำนวนคละ (30)

10

คำชี้แจง ให้นักเรียนเติมคำตอบให้ถูกต้อง

1) $\frac{16}{19} \times 1\frac{3}{16} =$ .....

2) $1\frac{7}{10} \times \frac{5}{17} =$ .....

3) $2\frac{1}{10} \times \frac{10}{21} =$ .....

4) $\frac{4}{8} \times 2\frac{3}{4} =$ .....

5) $1\frac{5}{9} \times \frac{3}{14} =$ .....

6) $1\frac{4}{12} \times \frac{12}{8} =$ .....

7) $2\frac{3}{15} \times \frac{30}{33} =$ .....

8) $3\frac{3}{4} \times \frac{4}{5} =$ .....

9) $1\frac{1}{14} \times 2\frac{4}{5} =$ .....

10) นิดแบ่งขนมให้น้อง 2 คน คนแรกได้ $\frac{1}{3}$ ส่วน คนที่สองได้ 24 ชิ้น เดิมนิดมีขนมทั้งหมดเท่าไร

ตอบ .....

ชื่อ-สกุล ..... ชั้น ..... เลขที่ .....

แบบฝึกทักษะชุดที่ 76 เรื่อง การบวก ลบ คูณ หารเศษส่วนและจำนวนคละ (31)

10

คำชี้แจง ให้นักเรียนเติมคำตอบให้ถูกต้อง

1) $\frac{1}{3} \times \frac{3}{4} \times \frac{1}{3}$ = ...

2) $\frac{2}{4} \times \frac{1}{3} \times \frac{3}{4}$ = ...

3) $\frac{3}{5} \times \frac{10}{3} \times \frac{1}{5}$ = ...

4) $\frac{2}{2} \times \frac{1}{3} \times \frac{6}{2}$ = ...

5) $\frac{5}{4} \times \frac{1}{3} \times \frac{3}{5}$ = ...

6) $\frac{3}{7} \times \frac{1}{3} \times \frac{2}{4}$ = ...

7) $\frac{3}{5} \times \frac{1}{3} \times \frac{1}{5}$ = ...

8) $\frac{3}{4} \times \frac{2}{4} \times \frac{2}{3}$ = ...

9) $\frac{3}{4} \times \frac{1}{3} \times \frac{2}{3}$ = ...

10) ลุงมีที่นา $20\frac{1}{2}$ ไร่ ใช้พันธุ์ข้าวทำนาไร่ละ 30 กิโลกรัม ลุงต้องใช้พันธุ์ข้าวอย่างน้อยเท่าใด

ตอบ .....

ชื่อ-สกุล ..... ชั้น ..... เลขที่ .....

แบบฝึกทักษะชุดที่ 77 เรื่อง การบวก ลบ คูณ หารเศษส่วนและจำนวนคละ (32)

10

คำชี้แจง ให้นักเรียนเติมคำตอบให้ถูกต้อง

1) $\frac{5}{6} \times \frac{2}{15} =$ .....

2) $\frac{3}{4} \times \frac{2}{9} =$ .....

3) $\frac{15}{20} \times \frac{5}{30} =$ .....

4) $\frac{24}{4} \times \frac{16}{8} =$ .....

5) $\frac{12}{15} \times \frac{7}{10} =$ .....

6) $\frac{30}{24} \times \frac{4}{6} =$ .....

7) $\frac{13}{5} \times \frac{3}{12} =$ .....

8) $\frac{3}{4} \times \frac{17}{15} =$ .....

9) $\frac{6}{7} \times \frac{1}{15} =$ .....

10) ไข่ราคาฟองละ $1\frac{3}{4}$ บาท ถ้าซื้อ 2 โหล ต้องจ่ายเงินเท่าใด

ตอบ .....

ชื่อ-สกุล ..... ชั้น ..... เลขที่ .....

แบบฝึกทักษะชุดที่ 78 เรื่อง การบวก ลบ คูณ หารเศษส่วนและจำนวนคละ (33)

10

คำชี้แจง ให้นักเรียนเติมคำตอบให้ถูกต้อง

1) $1\frac{1}{3} \times \frac{3}{4} =$ .....

2) $3\frac{1}{4} \times \frac{4}{13} =$ .....

3) $2\frac{1}{5} \times \frac{10}{12} =$ .....

4) $4\frac{1}{2} \times \frac{4}{9} =$ .....

5) $2\frac{2}{5} \times \frac{15}{24} =$ .....

6) $1\frac{3}{4} \times \frac{4}{14} =$ .....

7) $3\frac{1}{5} \times \frac{5}{8} =$ .....

8) $2\frac{3}{4} \times \frac{8}{22} =$ .....

9) $3\frac{1}{3} \times 2\frac{1}{10} =$ .....

10) ไม้ท่อนหนึ่งยาว 250 เซนติเมตร ปักอยู่ในดิน $\frac{1}{5}$ ของความยาวทั้งหมด ส่วนที่โผล่พ้นพื้นดินยาวทั้งหมดเท่าไร

ตอบ .....

ชื่อ-สกุล ..... ชั้น ..... เลขที่ .....

แบบฝึกทักษะชุดที่ 79 เรื่อง การบวก ลบ คูณ หารเศษส่วนและจำนวนคละ (34)

10

คำชี้แจง ให้นักเรียนเติมคำตอบให้ถูกต้อง

1) $\frac{3}{4} \times \frac{5}{12} =$ .....

2) $\frac{6}{10} \times \frac{3}{5} =$ .....

3) $\frac{2}{3} \times \frac{4}{6} =$ .....

4) $\frac{2}{4} \times \frac{2}{16} =$ .....

5) $\frac{3}{10} \times \frac{2}{5} =$ .....

6) $\frac{4}{6} \times \frac{2}{3} =$ .....

7) $\frac{9}{15} \times \frac{30}{45} =$ .....

8) $\frac{11}{12} \times \frac{3}{22} =$ .....

9) $\frac{20}{24} \times \frac{12}{10} =$ .....

10) ปุ๋ยยี่ห้อหนึ่งมีธาตุไนโตรเจนอยู่ $\frac{3}{5}$ ของน้ำหนักกระสอบ ถ้าซื้อปุ๋ยมา 25 กิโลกรัม จะมีธาตุไนโตรเจนอยู่เท่าใด

ตอบ .....

ชื่อ-สกุล ..... ชั้น ..... เลขที่ .....

แบบฝึกทักษะชุดที่ 80 เรื่อง การบวก ลบ คูณ หารเศษส่วนและจำนวนคละ (35)

10

คำชี้แจง ให้นักเรียนเติมคำตอบให้ถูกต้อง

1) $1\frac{1}{4} \times \frac{4}{5} =$ .....

2) $1\frac{2}{10} \times \frac{5}{6} =$ .....

3) $3\frac{1}{3} \times \frac{9}{10} =$ .....

4) $1\frac{2}{4} \times \frac{12}{18} =$ .....

5) $2\frac{1}{10} \times \frac{5}{7} =$ .....

6) $2\frac{3}{6} \times \frac{3}{5} =$ .....

7) $1\frac{1}{15} \times \frac{5}{8} =$ .....

8) $1\frac{3}{12} \times \frac{12}{3} =$ .....

9) $2\frac{1}{24} \times 3\frac{3}{7} =$ .....

10) แดงมีขนม 8 ก้อน กินไปแล้ว $\frac{3}{4}$ ของขนมทั้งหมด แดง จะเหลือขนมกี่ก้อน

ตอบ .....

ชื่อ-สกุล ..... ชั้น ..... เลขที่ .....

แบบฝึกทักษะชุดที่ 81 เรื่อง การบวก ลบ คูณ หารเศษส่วนและจำนวนคละ (36)

10

คำชี้แจง ให้นักเรียนเติมคำตอบให้ถูกต้อง

1) $\frac{7}{8} \times \frac{8}{14} =$ .....

2) $\frac{7}{9} \times \frac{9}{21} =$ .....

3) $\frac{10}{70} \times \frac{7}{10} =$ .....

4) $\frac{4}{15} \times \frac{3}{16} =$ .....

5) $\frac{5}{9} \times \frac{18}{25} =$ .....

6) $\frac{7}{8} \times \frac{5}{8} =$ .....

7) $\frac{11}{15} \times \frac{15}{22} =$ .....

8) $\frac{6}{12} \times \frac{4}{12} =$ .....

9) $\frac{12}{14} \times \frac{7}{36} =$ .....

10) สุดามีเงิน 40 บาท แม่ให้อีก $\frac{3}{5}$ ของเงินที่มีอยู่ สุดามีเงิน ทั้งหมดเท่าไร

ตอบ .....

ชื่อ-สกุล ..... ชั้น ..... เลขที่ .....

แบบฝึกทักษะชุดที่ 82 เรื่อง การบวก ลบ คูณ หารเศษส่วนและจำนวนคละ (37)

10

คำชี้แจง ให้นักเรียนเติมคำตอบให้ถูกต้อง

1) $\frac{7}{8} \times \frac{3}{4} =$ .....

2) $\frac{7}{2} \times \frac{3}{9} =$ .....

3) $\frac{9}{10} \times \frac{4}{5} =$ .....

4) $\frac{5}{8} \times \frac{3}{4} =$ .....

5) $\frac{7}{10} \times \frac{2}{3} =$ .....

6) $\frac{4}{12} \times \frac{7}{8} =$ .....

7) $\frac{10}{15} \times \frac{4}{5} =$ .....

8) $\frac{11}{12} \times \frac{4}{6} =$ .....

9) $\frac{10}{14} \times \frac{2}{7} =$ .....

10) ซื้อน้ำตาลทราย $\frac{5}{7}$ กิโลกรัม ราคากิโลกรัมละ 14 บาท ซื้อกุ้งแห้งหนัก $\frac{1}{2}$ กิโลกรัม ราคากิโลกรัมละ 100 บาท จะต้องจ่ายเงินทั้งหมดเท่าใด

ตอบ .....

ชื่อ-สกุล ..... ชั้น ..... เลขที่ .....

แบบฝึกทักษะชุดที่ 83 เรื่อง การบวก ลบ คูณ หารเศษส่วนและจำนวนคละ (38)

10

คำชี้แจง ให้นักเรียนเติมคำตอบให้ถูกต้อง

1) $1\frac{3}{8} \times \frac{8}{11} =$ .....

2) $2\frac{7}{9} \times \frac{9}{20} =$ .....

3) $2\frac{1}{10} \times \frac{10}{21} =$ .....

4) $1\frac{5}{16} \times \frac{8}{7} =$ .....

5) $2\frac{1}{9} \times \frac{9}{10} =$ .....

6) $1\frac{4}{8} \times \frac{4}{12} =$ .....

7) $1\frac{3}{15} \times \frac{15}{6} =$ .....

8) $2\frac{1}{12} \times \frac{4}{25} =$ .....

9) $2\frac{2}{9} \times 1\frac{8}{10} =$ .....

10) พี่มีเงิน 120 บาท แบ่งให้น้องไป $\frac{1}{4}$ ของเงินที่มีอยู่ พี่เหลือเงินเท่าไร

ตอบ .....

ชื่อ-สกุล ..... ชั้น ..... เลขที่ .....

แบบฝึกทักษะชุดที่ 84 เรื่อง การบวก ลบ คูณ หารเศษส่วนและจำนวนคละ (39)

10

คำชี้แจง ให้นักเรียนเติมคำตอบให้ถูกต้อง

1) $\frac{5}{8} \times \frac{3}{25} =$ .....

2) $\frac{5}{9} \times \frac{7}{10} =$ .....

3) $\frac{5}{9} \times \frac{7}{20} =$ .....

4) $\frac{7}{8} \times \frac{3}{4} =$ .....

5) $\frac{5}{9} \times \frac{5}{20} =$ .....

6) $\frac{8}{12} \times \frac{6}{9} =$ .....

7) $\frac{9}{15} \times \frac{8}{9} =$ .....

8) $\frac{6}{12} \times \frac{12}{13} =$ .....

9) $\frac{5}{7} \times \frac{8}{30} =$ .....

10) ลุงเลี้ยงไก่ 100 ตัว เป็นไก่ตัวผู้ $\frac{1}{5}$ ของไก่ทั้งหมด จะเป็นไก่ตัวเมีย ทั้งหมดกี่ตัว

ตอบ .....

ชื่อ-สกุล ..... ชั้น ..... เลขที่ .....

แบบฝึกทักษะชุดที่ 85 เรื่อง การบวก ลบ คูณ หารเศษส่วนและจำนวนคละ (40)

10

คำชี้แจง ให้นักเรียนเติมคำตอบให้ถูกต้อง

1) $2\frac{4}{8} \times \frac{8}{5} =$ .....

2) $1\frac{8}{17} \times \frac{4}{25} =$ .....

3) $2\frac{2}{10} \times \frac{30}{33} =$ .....

4) $1\frac{5}{20} \times \frac{20}{4} =$ .....

5) $1\frac{1}{9} \times \frac{3}{5} =$ .....

6) $1\frac{4}{12} \times \frac{12}{8} =$ .....

7) $2\frac{3}{15} \times \frac{30}{66} =$ .....

8) $2\frac{1}{12} \times \frac{12}{36} =$ .....

9) $3\frac{2}{6} \times 1\frac{8}{10} =$ .....

10) แดงมีเงินอยู่ 125 บาท ใช้ไป $\frac{2}{5}$ ของเงินที่มี แดงใช้เงินไปเท่าไร

ตอบ .....

ชื่อ-สกุล ..... ชั้น ..... เลขที่ .....

6

แบบฝึกทักษะชุดที่ 86 เรื่อง ตัวคูณร่วมน้อย (1)

คำชี้แจง จงหา ตัวคูณร่วมน้อย (ค.ร.น.) ของจำนวนต่อไปนี้

1.)) 10 24

ตอบ _____

2.)) 21 30

ตอบ _____

3.)) 72 81

ตอบ _____

4.)) 8 12 20

ตอบ _____

5.)) 20 30 40

ตอบ _____

6.)) 21 35 42

ตอบ _____





ชื่อ-สกุล ..... ชั้น ..... เลขที่ .....

6

แบบฝึกทักษะชุดที่ 87 เรื่อง ตัวคูณร่วมน้อย (2)

คำชี้แจง จงหา ตัวคูณร่วมน้อย (ค.ร.น.) ของจำนวนต่อไปนี้

1.)) 28 42

ตอบ _____

2.)) 45 75

ตอบ _____

3.)) 23 46

ตอบ _____

4.)) 51 96 15

ตอบ _____

5.)) 12 42 96

ตอบ _____

6.)) 64 24 54

ตอบ _____

ชื่อ-สกุล ..... ชั้น ..... เลขที่ .....

แบบฝึกทักษะชุดที่ 88 เรื่อง ตัวคูณร่วมน้อย (3)

6

คำชี้แจง จงหา ตัวคูณร่วมน้อย (ค.ร.น.) ของจำนวนต่อไปนี้

1.)) 55 99

ตอบ _____

2.)) 22 88 44

ตอบ _____

3.)) 45 25 65

ตอบ _____

4.)) 20 40 48

ตอบ _____

5.)) 63 21 24

ตอบ _____

6.)) 13 26 69

ตอบ _____

ชื่อ-สกุล ..... ชั้น ..... เลขที่ .....

6

แบบฝึกทักษะชุดที่ 89 เรื่อง ตัวหารร่วมมาก (1)

คำชี้แจง จงหา ตัวหารร่วมมาก(ห.ร.ม.) ของจำนวนต่อไปนี้

1.)) 98 96 94

ตอบ _____

2.)) 15 25 40

ตอบ _____

3.)) 30 62 42

ตอบ _____

4.)) 20 48 90

ตอบ _____

5.)) 40 36 96

ตอบ _____

6.)) 65 85 20

ตอบ _____



ชื่อ-สกุล ..... ชั้น ..... เลขที่ .....

6

แบบฝึกทักษะชุดที่ 90 เรื่อง ตัวหารร่วมมาก (2)

คำชี้แจง จงหา ตัวหารร่วมมาก(ห.ร.ม.) ของจำนวนต่อไปนี้

1.))24 39 15 27

ตอบ _____

2.))14 28 35 49

ตอบ _____

3.))40 78 86 32

ตอบ _____

4.)) 19 38 76

ตอบ _____

5.)) 27 45 72

ตอบ _____

6.)) 55 66 11

ตอบ _____



ชื่อ-สกุล ..... ชั้น ..... เลขที่ .....

10

แบบฝึกทักษะชุดที่ 91 เรื่อง จำนวนไม่ทราบค่า (1)

จงหาจำนวนที่ไม่ทราบค่า

1. ก+15 = 46 , ก =.....
2. ข+17 = 37 , ข =.....
3. ค + 12 = 194 , ค =.....
4. ง + 8 = 64 , ง =.....
5. จ + 15 = 105 - 5 , จ =.....
6. A + 31 = 49 , A =.....
7. B + 97 = 107 , B =.....
8. C + 105 = 306 , C=.....
9. D + 15 = 99 - 4 , D =.....
10. E + 11 = 1,011 – 1,000 , E =.....



ชื่อ-สกุล ..... ชั้น .....

10

แบบฝึกทักษะชุดที่ 92 เรื่อง จำนวนที่ไม่ทราบค่า (2)

จงหาจำนวนที่ไม่ทราบค่า

1. ก – 15 = 25 , ก =.....
2. ข – 9 = 70 , ข =.....
3. ค – 7 = 105 , ค =.....
4. ง – 6 = 63 , ง =.....
5. จ – 15 = 105 - 5 , จ =.....
6. A – 21 = 39 , A =.....
7. B – 99 = 101 , B =.....
8. C – 100 = 306 , C =.....
9. D – 15 = 99 - 4 , D =.....
10. E – 11 = 1,011 – 22 , E =.....



ชื่อ-สกุล ..... ชั้น ..... เลขที่ .....

10

แบบฝึกทักษะชุดที่ 93 เรื่อง จำนวนที่ไม่ทราบค่า (3)

จงหาจำนวนที่ไม่ทราบค่า

1. A × 15 = 75 , A =.....
2. B × 9 = 36 , B =.....
3. C × 7 = 63 , C =.....
4. D × 5 = 70 , D =.....
5. E × 5 = 45 , E =.....
6. F21 = 63 , F =.....
7. G × 3 = 33 , G =.....
8. H × 7 = 49 , H =.....
9. 4 × ฮ = 28 , ฮ =.....
10. 6ก = 42 , ก =.....



ชื่อ-สกุล ..... ชั้น .....

10

แบบฝึกทักษะชุดที่ 94 เรื่อง จำนวนที่ไม่ทราบค่า (4)

จงหาจำนวนที่ไม่ทราบค่า

1. $A \div 2 = 12$, A =.....
2. $B \div 3 = 21$, B =.....
3. $C \div 4 = 20$, C =.....
4. $D \div 5 = 2$, D =.....
5. $\frac{E}{2} = 11$, E =.....
6. $F \div 7 = 3$, F =.....
7. $G \div 8 = 3$, G =.....
8. $\frac{M}{2} = 9$, M =.....
9. $\frac{F}{8} = 1$, F =.....
10. $\frac{V}{4} = 2$, V =.....



ชื่อ-สกุล .....



10

แบบฝึกทักษะชุดที่ 95 เรื่อง จำนวนที่ไม่ทราบค่า (5)

จงหาจำนวนที่ไม่ทราบค่า

1. ก + 5 = 21 - 4 , ก =.....
2. ข - 9 = 30 + 2 , ข =.....
3. ค + 7 = 100 - 12 , ค =.....
4. ง - 6 = 61 - 11 , ง =.....
5. จ + 5 = 105 – 5 , จ =.....
6. A - 21 = 39 + 11 , A =.....
7. B + 9 = 100 - 19 , B =.....
8. C - 104 = 306 -100 , C=.....
9. D + 5 = 99 + 1 , D =.....
10. E - 11 = 1,000 – 11 , E =.....



ชื่อ-สกุล .....

10

แบบฝึกทักษะชุดที่ 96 เรื่อง การหาพื้นที่ของรูปต่างๆ (1)

คำสั่ง ให้นักเรียนตอบคำถามต่อไปนี้

1. สูตรในการหาพื้นที่ของรูปสามเหลี่ยม คือ

   ตอบ.....

2. สูตรในการหาพื้นที่รูปสี่เหลี่ยมจัตุรัส คือ

   ตอบ.....

3. สูตรในการหาพื้นที่รูปสี่เหลี่ยมผืนผ้า คือ

   ตอบ.....

4. สูตรในการหาพื้นที่ของรูปสี่เหลี่ยมด้านขนาน คือ

   ตอบ.....

5. สูตรในการหาพื้นที่ของรูปสี่เหลี่ยมขนมเปียกปูน คือ

   ตอบ.....

6. สูตรในการหาพื้นที่ของสี่เหลี่ยมคางหมู คือ

   ตอบ.....

7. สูตรในการหาพื้นที่ของวงกลม คือ

   ตอบ.....

8. สูตรในการหาความยาวรอบวงกลม คือ

   ตอบ.....

9. π มีค่าโดยประมาณเท่าใด

   ตอบ.....

10. สูตรการหาปริมาตรของรูปทรงสี่เหลี่ยมมุมฉาก คือ

    ตอบ.....

ชื่อ-สกุล ..... ชั้น ..... เลขที่ .....

10

แบบฝึกทักษะชุดที่ 97 เรื่อง การหาพื้นที่ของรูปต่างๆ (2)

คำสั่ง จงหาความยาวรอบรูปของรูปเรขาคณิตต่อไปนี้

1.

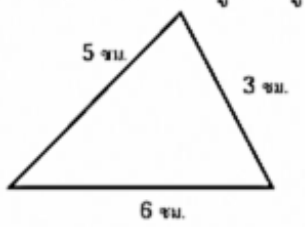

วิธีคิด.....

.....

.....

ตอบ.....

2.

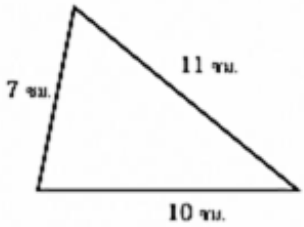

วิธีคิด.....

.....

.....

ตอบ.....

3.

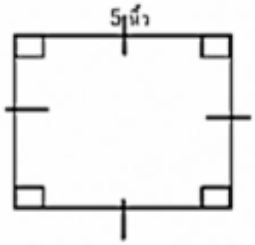

วิธีคิด.....

.....

.....

ตอบ.....

4.

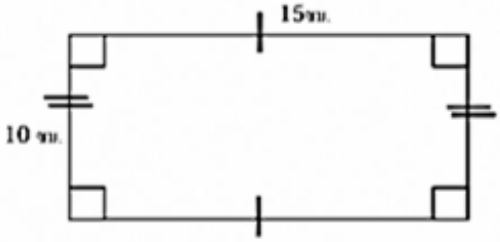

วิธีคิด.....

.....

.....

ตอบ.....

5.

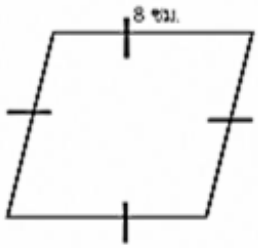

วิธีคิด.....

.....

.....

ตอบ.....

ชื่อ-สกุล ..... ชั้น ..... เลขที่ .....

10

แบบฝึกทักษะชุดที่ 98 เรื่อง การหาพื้นที่ของรูปต่างๆ (3)

คำสั่ง จงหาความยาวรอบรูปของรูปเรขาคณิตต่อไปนี้

1.

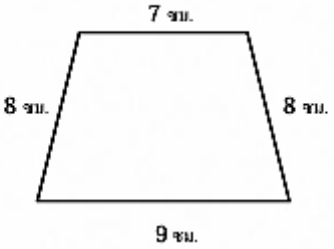

วิธีคิด.....

.....

.....

ตอบ.....

2.

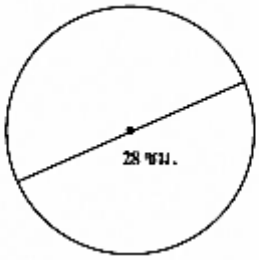

วิธีคิด.....

.....

.....

ตอบ.....

3.

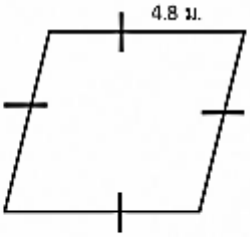

วิธีคิด.....

.....

.....

ตอบ.....

4.

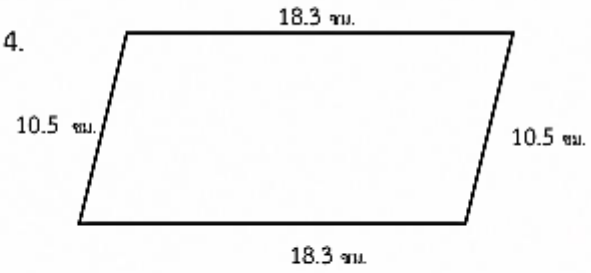

วิธีคิด.....

.....

.....

ตอบ.....

5.

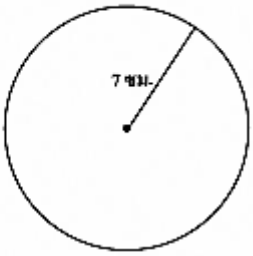

วิธีคิด.....

.....

.....

ตอบ.....

ชื่อ-สกุล ..... ชั้น ..... เลขที่ .....

10

แบบฝึกทักษะชุดที่ 99 เรื่อง การหาพื้นที่ของรูปต่างๆ (4)

คำสั่ง จงหาพื้นที่ของรูปสามเหลี่ยม ต่อไปนี้

1.

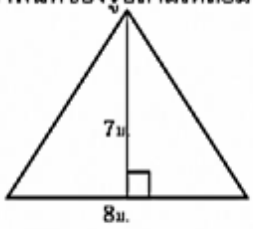

วิธีคิด.....

.....

.....

ตอบ.....

2.

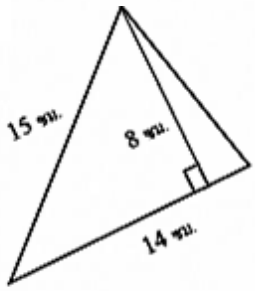

วิธีคิด.....

.....

.....

ตอบ.....

3.

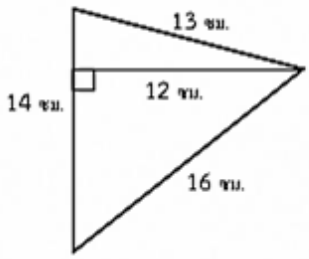

วิธีคิด.....

.....

.....

ตอบ.....

4.

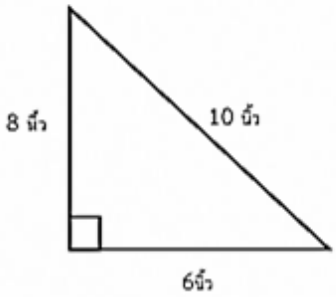

วิธีคิด.....

.....

.....

ตอบ.....

5.

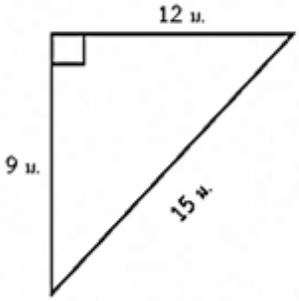

วิธีคิด.....

.....

.....

ตอบ.....

ชื่อ-สกุล ..... ชั้น ..... เลขที่ .....

10

แบบฝึกทักษะชุดที่ 100 เรื่อง การหาพื้นที่ของรูปต่างๆ (5)

คำสั่ง จงหาพื้นที่ของรูปสี่เหลี่ยมมุมฉาก ต่อไปนี้

1.

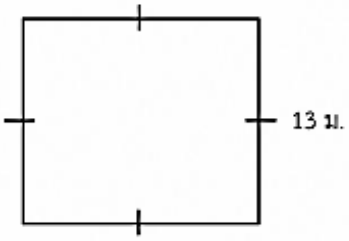

วิธีคิด.....

.....

.....

ตอบ.....

2.

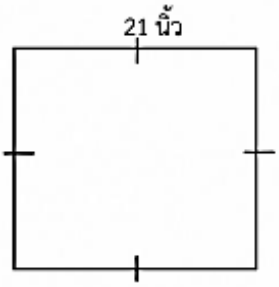

วิธีคิด.....

.....

.....

ตอบ.....

3.

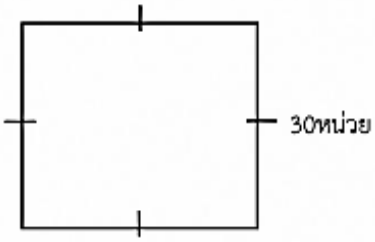

วิธีคิด.....

.....

.....

ตอบ.....

4.

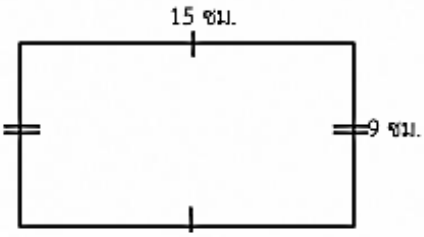

วิธีคิด.....

.....

.....

ตอบ.....

5.

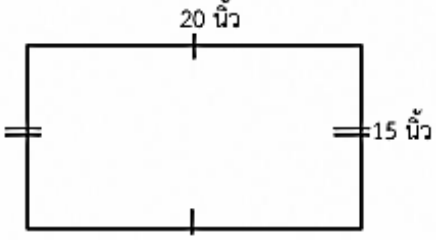

วิธีคิด.....

.....

.....

ตอบ.....

ชื่อ-สกุล ..... ชั้น ..... เลขที่ .....



คำสั่งสำนักงานเขตพื้นที่การศึกษาประถมศึกษาเชียงใหม่ เขต ๓

ที่ ๘๐๐/๒๕๖๙

เรื่อง แต่งตั้งคณะกรรมการดำเนินงานโครงการอ่านออก เขียนได้ คิดเลขเป็น เน้นภาษา พัฒนาการเรียนรู้ ปีงบประมาณ ๒๕๗๐

ด้วยสำนักงานเขตพื้นที่การศึกษาประถมศึกษาเชียงใหม่ เขต ๓ ได้ดำเนินโครงการอ่านออก เขียนได้ คิดเลขเป็น เน้นภาษา พัฒนาการเรียนรู้ ประจำปีงบประมาณ พ.ศ. ๒๕๗๐ เพื่อส่งเสริมและสนับสนุนให้สถานศึกษาพัฒนาทักษะพื้นฐานของผู้เรียนระดับชั้นประถมศึกษาปีที่ ๑-๖ ครอบคลุม ๓ ด้าน ได้แก่กลุ่มสาระการเรียนรู้ภาษาไทย กลุ่มสาระการเรียนรู้ภาษาอังกฤษ และกลุ่มสาระการเรียนรู้คณิตศาสตร์ มุ่งเน้นการจัดการเรียนรู้ที่เหมาะสมกับวัยและความแตกต่างระหว่างบุคคล ส่งเสริมให้ผู้เรียนได้ฝึกปฏิบัติจริงอย่างต่อเนื่อง และสามารถนำทักษะไปประยุกต์ใช้ในสถานการณ์ต่าง ๆ ได้ ให้เกิดการพัฒนาทั้งด้าน ผู้เรียนและครูผู้สอน โดยสนับสนุนให้ครูมีแนวทาง สื่อและเครื่องมือในการจัดกิจกรรมการเรียนรู้ สามารถพัฒนาผู้เรียนได้ตรงตามระดับความสามารถและความต้องการจำเป็น อันจะนำไปสู่การยกระดับคุณภาพด้านการจัดการศึกษาและผลสัมฤทธิ์ทางการเรียนของผู้เรียนอย่างเป็นระบบและต่อเนื่อง

เพื่อให้การดำเนินงานโครงการอ่านออก เขียนได้ คิดเลขเป็น เน้นภาษา พัฒนาการเรียนรู้ ประจำปีงบประมาณ พ.ศ. ๒๕๗๐ กิจกรรมที่ ๓ พัฒนาแบบฝึกทักษะภาษาไทย ภาษาอังกฤษ และคณิตศาสตร์ ให้สอดคล้องกับหลักสูตรและระดับชั้นเป็นไปด้วยความเรียบร้อย บรรลุตามวัตถุประสงค์และเกิดประโยชน์สูงสุดต่อทางราชการ สำนักงานเขตพื้นที่การศึกษาประถมศึกษาเชียงใหม่ เขต ๓ จึงแต่งตั้งคณะกรรมการดำเนินงาน ดังนี้

๑. **คณะกรรมการอำนวยการ** ประกอบด้วย

๑.๑ นายสกล ไชยธงรัตน์	ผอ.สพป.เชียงใหม่ เขต ๓	ประธานกรรมการ
๑.๒ น.ส.ทอแสง สมพินิจ	รอง ผอ.สพป.เชียงใหม่ เขต ๓	รองประธานกรรมการ
๑.๓ น.ส.ณัฏฐธนิกา เงาทอง	รอง ผอ.สพป.เชียงใหม่ เขต ๓	รองประธานกรรมการ
๑.๔ นายสมปอง สุภาภา	รอง ผอ.สพป.เชียงใหม่ เขต ๓	รองประธานกรรมการ
๑.๕ นางประทุม ตามไท	ผอ.กลุ่มอำนวยการ	กรรมการ
๑.๖ นายธีระกูล วงศ์สูน	นักวิชาการการเงินและบัญชี ชำนาญการพิเศษ รักษาการในตำแหน่ง ผอ.กลุ่มบริหารงานการเงินฯ	กรรมการ
๑.๗ น.ส.จันวิมา สุวรรณ์	ผอ.กลุ่มนโยบายและแผน	กรรมการ
๑.๘ นางเอื้องพร สุมา	ผอ.กลุ่มบริหารงานบุคคล	กรรมการ
๑.๙ นางนริสา พงษ์พานิชย์	ผอ.กลุ่มส่งเสริมการจัดการศึกษา	กรรมการ
๑.๑๐ นายรพีพัฒนศักดิ์ ทวีอภิรดีพัชร	ผอ.หน่วยตรวจสอบภายใน	กรรมการ
๑.๑๑ นายอาทิตย์ ปวงมาทา	ผอ.กลุ่มกฎหมายและคดี	กรรมการ
๑.๑๒ นายไกรสร จาวรรณะ	นักวิเคราะห์นโยบายและแผนชำนาญการ ปฏิบัติหน้าที่ ผอ.กลุ่มส่งเสริมการศึกษาทางไกลฯ	กรรมการ

๑.๑๓ นางสุจินดา...



๑.๑๓ นางสุจินตา คำเงิน	ผอ.กลุ่มนิเทศฯ	กรรมการและเลขานุการ
๑.๑๔ น.ส.ศรัณย์พัชร์ สิงห์ใจ	ศึกษานิเทศก์ชำนาญการพิเศษ	กรรมการและผู้ช่วยเลขานุการ

มีหน้าที่ ให้คำปรึกษา สนับสนุน ให้การดำเนินงานเป็นไปตามวัตถุประสงค์ที่กำหนดไว้

๒. คณะกรรมการดำเนินงานโครงการ ประกอบด้วย

๒.๑ นางสุจินตา คำเงิน	ผอ.กลุ่มนิเทศฯ	ประธานกรรมการ
๒.๒ น.ส.ศิพาณัฏฐ์ ใจสัตย์	ศึกษานิเทศก์ชำนาญการพิเศษ	รองประธานกรรมการ
๒.๓ นางรัชนี อุดทา	ศึกษานิเทศก์ชำนาญการพิเศษ	กรรมการ
๒.๔ น.ส.นวภรณ์ ปัญญา	ศึกษานิเทศก์ชำนาญการพิเศษ	กรรมการ
๒.๕ น.ส.กรรณิการ์ นารี	ศึกษานิเทศก์ชำนาญการพิเศษ	กรรมการ
๒.๖ นางศิราณี บุญเกิด	ศึกษานิเทศก์ชำนาญการพิเศษ	กรรมการ
๒.๗ น.ส.กิ่งกาญจน์ อินต๊ะปัญญา	ศึกษานิเทศก์ชำนาญการพิเศษ	กรรมการ
๒.๘ น.ส.พัชริดา ลำนักเนตร	ศึกษานิเทศก์ชำนาญการพิเศษ	กรรมการ
๒.๙ นางแววลี พุทธิมา	ศึกษานิเทศก์ชำนาญการพิเศษ	กรรมการ
๒.๑๐ นายธงชัย เพียงใจ	ศึกษานิเทศก์ชำนาญการพิเศษ	กรรมการ
๒.๑๑ น.ส.อรณัชชา เตชะวงค์	ศึกษานิเทศก์ชำนาญการ	กรรมการ
๒.๑๒ น.ส.นิภาพรรณ์ สิงห์คำ	ศึกษานิเทศก์ชำนาญการ	กรรมการ
๒.๑๓ นายเอกลักษณ์ ฤชา	ศึกษานิเทศก์ชำนาญการ	กรรมการ
๒.๑๔ ว่าที่ ร.ต.หญิง สายใจ กันทะวงค์	เจ้าพนักงานธุรการปฏิบัติงาน	กรรมการ
๒.๑๕ น.ส.เมลี่ แซ่โก	ศึกษานิเทศก์ชำนาญการ	กรรมการและเลขานุการ
๒.๑๖ น.ส.ศรัณย์พัชร์ สิงห์ใจ	ศึกษานิเทศก์ชำนาญการพิเศษ	กรรมการและเลขานุการ

มีหน้าที่ วางแผนและกำหนดแนวทางการดำเนินโครงการ จัดทำและพัฒนาสื่อ แบบฝึก และเครื่องมือ ประสานและสนับสนุนสถานศึกษาและครูผู้สอน นิเทศ ติดตาม และประเมินผลการดำเนินงาน รวบรวม วิเคราะห์ และสรุปผลการดำเนินโครงการ ตลอดจนปฏิบัติหน้าที่อื่นตามที่ได้รับมอบหมาย

๓.คณะกรรมการจัดทำแบบฝึกทักษะภาษาไทย คณิตศาสตร์ และภาษาอังกฤษ ระดับชั้นประถมศึกษาปีที่ ๑-๖ ประกอบด้วย

๓.๑ คณะกรรมการจัดทำแบบฝึกทักษะภาษาไทย ระดับชั้นประถมศึกษาปีที่ ๑ – ๖

๑) นางสาวศรัณย์พัชร์ สิงห์ใจ	ศึกษานิเทศก์ชำนาญการพิเศษ	ประธานกรรมการ
๒) นางรัชนี อุดทา	ศึกษานิเทศก์ชำนาญการพิเศษ	รองประธานกรรมการ
๓) นางแววลี พุทธิมา	ศึกษานิเทศก์ชำนาญการพิเศษ	กรรมการ
๔) นายเอกลักษณ์ ฤชา	ศึกษานิเทศก์ชำนาญการ	กรรมการ
๕) นายธงชัย เพียงใจ	ศึกษานิเทศก์ชำนาญการพิเศษ	กรรมการ
๖) นางอรทัย การะเกตุ	ครูโรงเรียนบ้านม่วงชุม	กรรมการ
๗) นางสาวพิชชานันท์ หฤทัยหิรัณย์	ครูโรงเรียนบ้านแม่ขี	กรรมการ
๘) นางสาวจริยา พิมพ์โกษา	ครูโรงเรียนบ้านถ้ำต้นเดา	กรรมการ

๙) นายภูธิต...

๙) นายภูธิต วงศ์ทอง	ครูโรงเรียนเจ้าแม่หลวงอุปถัมภ์ ๑	กรรมการ
๑๐) นางพันธรานันท์ วงษ์ไทย	ครูโรงเรียนบ้านเวียงหวาย	กรรมการ
๑๒) นางกชกร อนาวัน	ครูโรงเรียนบ้านม่อนปิ่น	กรรมการ
๑๓) นางสาวเมลี่ แซ่โก	ศึกษานิเทศก์ชำนาญการ	กรรมการและเลขานุการ

๓.๒ คณะกรรมการจัดทำแบบฝึกทักษะคณิตศาสตร์ ระดับชั้นประถมศึกษาปีที่ ๑ –๖

๑) นางสาวพัชริดา ลำนักเนตร	ศึกษานิเทศก์ชำนาญการพิเศษ	ประธานกรรมการ
๒) นางสาวศิพาณัฏฐ์ ใจสัตย์	ศึกษานิเทศก์ชำนาญการพิเศษ	รองประธานกรรมการ
๓) นางสาวกรรณิการ์ นารี	ศึกษานิเทศก์ชำนาญการพิเศษ	กรรมการ
๔) นางสาวกิ่งกาญจน์ อินต๊ะปัญญา	ศึกษานิเทศก์ชำนาญการพิเศษ	กรรมการ
๕) นางภัสรลักษณ์ เซ็นนันท์	ครูโรงเรียนบ้านเหมืองแร่	กรรมการ
๖) นายภูวิศชกรณ์ แหลมกล้า	ครูโรงเรียนบ้านเวียงฝาง	กรรมการ
๗) นางสาวภาวิณี แสนจิตต์	ครูโรงเรียนบ้านห้วยไคร้(ฝาง)	กรรมการ
๘) นายภาคิน จันต๊ะเสาร์	ครูโรงเรียนบ้านแม่สาว	กรรมการ
๙) นางสาวอาภาภรณ์ แก่นการ	ครูโรงเรียนบ้านดง	กรรมการ
๑๐) นายวัชรพล บุญเติม	ครูโรงเรียนบ้านใหม่หนองบัว	กรรมการ
๑๑) นางสาวนิภาพรรณ์ สิงห์คำ	ศึกษานิเทศก์ชำนาญการ	กรรมการและเลขานุการ

๓.๓ คณะกรรมการจัดทำแบบฝึกทักษะภาษาอังกฤษ ระดับชั้นประถมศึกษาปีที่ ๑ –๖

๑) นางสุจินตา คำเงิน	ผอ.กลุ่มนิเทศฯ	ประธานกรรมการ
๒) นางศิราณี บุญเกิด	ศึกษานิเทศก์ชำนาญการพิเศษ	รองประธานกรรมการ
๓) นางสาวนวภรณ์ ปัญญา	ศึกษานิเทศก์ชำนาญการพิเศษ	กรรมการ
๔) นายเอกลักษณ์ ฤาชา	ศึกษานิเทศก์ชำนาญการ	กรรมการ
๕) นางสาวจีราวรรณ ปัจจารีปัญญา	ครูโรงเรียนบ้านวังมะริว	กรรมการ
๖) นางสาวศศิธร สันใจ	ครูโรงเรียนบ้านหลวง(แม่อาย)	กรรมการ
๗) นางกานต์ธิดา จันทร์แก้ว	ครูโรงเรียนบ้านสันปอธง	กรรมการ
๘) นางสาวศุภมาส อริวรรณา	ครูโรงเรียนบ้านป่างสัก	กรรมการ
๙) นางณัฐสินี ฐิติภัทรพลหาญ	ครูโรงเรียนวัดป่าแดง	กรรมการ
๑๐) นางยุวเรศ แสนศรี	ครูโรงเรียนโชติคุณะเกษม(บ้านเมืองงาม)	กรรมการ
๑๑) นางสาวอรณัชชา เตชะวงค์	ศึกษานิเทศก์ชำนาญการ	กรรมการและเลขานุการ

มีหน้าที่ ออกแบบและจัดทำเนื้อหา สื่อและแบบฝึกสำหรับผู้เรียนชั้นประถมศึกษาปีที่ ๑–๖ ตรวจสอบความถูกต้องและความเหมาะสมของเนื้อหา ภาษาและระดับความยากง่าย ปรับปรุงแก้ไขให้มีคุณภาพและเหมาะสมกับผู้เรียน

๔. คณะกรรมการ...

๔.คณะกรรมการฝ่ายบรรณาธิการ จัดรูปแบบและเผยแพร่ข้อมูลสารสนเทศ ประกอบด้วย

๔.๑ นางสาวศิพาณัฏฐ์ ใจสัตย์	ศึกษานิเทศก์ชำนาญการพิเศษ	ประธานกรรมการ
๔.๒ นางสาวเมลี่ แซ่โก	ศึกษานิเทศก์ชำนาญการ	รองประธานกรรมการ
๔.๓ นางสาวรัชนี อุดทา	ศึกษานิเทศก์ชำนาญการพิเศษ	กรรมการ
๔.๔ นางนวภรณ์ ปัญญา	ศึกษานิเทศก์ชำนาญการพิเศษ	กรรมการ
๔.๕ นางสาวกรรณิการ์ นารี	ศึกษานิเทศก์ชำนาญการพิเศษ	กรรมการ
๔.๖ นางศิราณี บุญเกิด	ศึกษานิเทศก์ชำนาญการพิเศษ	กรรมการ
๔.๗ นางสาวกิ่งกาญจน์ อินต๊ะบัญญา	ศึกษานิเทศก์ชำนาญการพิเศษ	กรรมการ
๔.๘ นางสาวพัชริดา สำนักเนตร	ศึกษานิเทศก์ชำนาญการพิเศษ	กรรมการ
๔.๙ นางแววลี พุทธิมา	ศึกษานิเทศก์ชำนาญการพิเศษ	กรรมการ
๔.๑๐นายธงชัย เพียงใจ	ศึกษานิเทศก์ชำนาญการพิเศษ	กรรมการ
๔.๑๑ น.ส.อรณัชชา เตชะวงค์	ศึกษานิเทศก์ชำนาญการ	กรรมการ
๔.๑๒ น.ส.นิภาพรรณ์ สิงห์คำ	ศึกษานิเทศก์ชำนาญการ	กรรมการ
๔.๑๓ น.ส.ศรัณย์พัชร์ สิงห์ใจ	ศึกษานิเทศก์ชำนาญการพิเศษ	กรรมการ
๔๑๔ ว่าที่ ร.ต.หญิง สายใจ กันทะวงศ์	เจ้าพนักงานธุรการปฏิบัติงาน	กรรมการ
๔.๑๕ นายศิวานนท์ อเวรา	ครูโรงเรียนบ้านห้วยทรายขาว	กรรมการ
๔.๑๖ นายเชิดพงษ์ มาเขียว	ครูโรงเรียนบ้านต้นผึ้ง	กรรมการ
๔.๑๗ นายณัฏฐพสิษฐ์ เทพดวงแก้ว	ครูโรงเรียนวัดนันทาราม	กรรมการ
๔.๑๘ นายเอกลักษณ์ ฤาชา	ศึกษานิเทศก์ชำนาญการ	กรรมการและเลขานุการ

มีหน้าที่ ตรวจสอบ กลั่นกรอง และปรับปรุงเนื้อหาให้มีความถูกต้อง เหมาะสม และเป็นไปตามรูปแบบที่กำหนด จัดรูปแบบและจัดทำเอกสารให้มีความเรียบร้อยสวยงาม รวมทั้งดำเนินการเผยแพร่ข้อมูลสารสนเทศผ่านช่องทางที่กำหนด ตลอดจนปฏิบัติหน้าที่อื่นตามที่ได้รับมอบหมาย

๕. คณะกรรมการฝ่ายการเงินและพัสดุ ประกอบด้วย

๕.๑ นายธีระกูล วงศ์สูน	นักวิชาการการเงินและบัญชีชำนาญการพิเศษ รักษาการในตำแหน่ง ผอ.กลุ่มบริหารงานการเงินฯ	ประธานกรรมการ
๕.๒ น.ส.วาสนา อุ่นบุญตัน	นักวิชาการพัสดุชำนาญการพิเศษ	รองประธานกรรมการ
๕.๓ น.ส.วนิดา เพียรชนะ	พนักงานราชการ	กรรมการ
๕.๔ นางวริณทร เต๋จ๊ะนัง	พนักงานราชการ	กรรมการและเลขานุการ

มีหน้าที่ เบิกจ่ายเงินงบประมาณให้เป็นไปด้วยความเรียบร้อย

๖. คณะกรรมการ...

๖. **คณะกรรมการฝ่ายธุรการ** ประกอบด้วย

๖.๑ น.ส.เมลี่ แซ่โก	ศึกษานิเทศก์ชำนาญการ	ประธานกรรมการ
๖.๒ นางแววลี พุทธิมา	ศึกษานิเทศก์ชำนาญการ	กรรมการ
๖.๓ ว่าที่ร.ต.หญิง สายใจ กันทะวงศ์	เจ้าพนักงานธุรการปฏิบัติงาน	กรรมการและเลขานุการ

มีหน้าที่ จัดเตรียมเอกสาร จัดพิมพ์เอกสารต่าง ๆ ที่เกี่ยวข้อง และรับลงทะเบียน

๗. **คณะกรรมการฝ่ายอาหารและเครื่องดื่ม** ประกอบด้วย

๗.๑ นางศิราณี บุญเกิด	ศึกษานิเทศก์ชำนาญการพิเศษ	ประธานกรรมการ
๗.๒ น.ส.นิภาพรรณ์ สิงห์คำ	ศึกษานิเทศก์ชำนาญการ	กรรมการ
๗.๓ ว่าที่ ร.ต.หญิง สายใจ กันทะวงศ์	เจ้าพนักงานธุรการปฏิบัติงาน	กรรมการ
๗.๔ น.ส.อรณัชชา เตชะวงศ์	ศึกษานิเทศก์ชำนาญการ	กรรมการและเลขานุการ

มีหน้าที่ จัดเตรียมอาหารกลางวัน อาหารว่างและเครื่องดื่ม ให้เพียงพอสำหรับคณะดำเนินการจัดทำแบบฝึก

๘. **คณะกรรมการฝ่ายโสตทัศนูปกรณ์** ประกอบด้วย

๘.๑ น.ส.ศิพาณัฏฐ์ ใจสัตย์	ศึกษานิเทศก์ชำนาญการพิเศษ	ประธานกรรมการ
๘.๒ นายธงชัย เพียงใจ	ศึกษานิเทศก์ชำนาญการพิเศษ	กรรมการ
๘.๓ นายเอกลักษณ์ เกษา	ศึกษานิเทศก์ชำนาญการ	กรรมการและเลขานุการ

มีหน้าที่ วางแผน จัดเตรียม ติดตั้ง และควบคุมระบบเครื่องเสียง ระบบภาพ แสงสว่าง และอุปกรณ์โสตทัศนูปกรณ์ทั้งหมดที่ใช้ในการดำเนินงาน บันทึกภาพ บันทึกวีดีโอ เพื่อประชาสัมพันธ์ในช่องทางต่าง ๆ

๙. **คณะกรรมการฝ่ายประเมินผล** ประกอบด้วย

๙.๑ น.ส.ศรัณย์พัชร์ สิงห์ใจ	ศึกษานิเทศก์ชำนาญการพิเศษ	ประธานกรรมการ
๙.๒ น.ส.เมลี่ แซ่โก	ศึกษานิเทศก์ชำนาญการ	กรรมการ
๙.๓ ว่าที่ ร.ต.หญิง สายใจ กันทะวงศ์	เจ้าพนักงานธุรการปฏิบัติงาน	กรรมการและเลขานุการ

มีหน้าที่ เก็บรวบรวมข้อมูล ประมวลผล สรุปและรายงานผลการดำเนินงานโครงการฯ เพื่อเสนอต่อผู้อำนวยการสำนักงานเขตพื้นที่การศึกษาประถมศึกษาเชียงใหม่ เขต ๓ ต่อไป

ให้คณะกรรมการทุกฝ่ายปฏิบัติหน้าที่ด้วยความตั้งใจ เสียสละเพื่อให้การดำเนินงานเกิดความเรียบร้อย ถูกต้อง บรรลุวัตถุประสงค์ และเป็นประโยชน์แก่การพัฒนาคุณภาพการศึกษา

ทั้งนี้ ตั้งแต่วันที่ ๑ ตุลาคม พ.ศ. ๒๕๖๙ เป็นต้นไป

สั่ง ณ วันที่ ๑ ตุลาคม พ.ศ. ๒๕๖๙

(นายสกล ไชยธงรัตน์)
ผู้อำนวยการสำนักงานเขตพื้นที่การศึกษาประถมศึกษาเชียงใหม่ เขต ๓

แบบฝึกทักษะ วิชาคณิตศาสตร์

ตามโครงการ

อ่านออก เขียนได้ คิดเลขเป็น

เน้นภาษา พัฒนาการเรียนรู้

สำนักงานเขตพื้นที่การศึกษาประถมศึกษาเชียงใหม่ เขต 3

