แบบฝึกทักษะ
คณิตศาสตร์

ระดับชั้นประถมศึกษาปีที่ 6

ตามโครงการ

“อ่านออก เขียนได้ คิดเลขเป็น เน้นภาษา พัฒนาการเรียนรู้”



เล่ม 2

ชื่อ-นามสกุล ..... เลขที่ .....

โรงเรียน .....

สำนักงานเขตพื้นที่การศึกษาประถมศึกษาเชียงใหม่ เขต 3

แบบฝึกทักษะ คณิตศาสตร์

ระดับชั้นประถมศึกษาปีที่ 6

ตามโครงการ

“อ่านออก เขียนได้ คิดเลขเป็น
เน้นภาษา พัฒนาการเรียนรู้”



เล่ม 2

ชื่อ-นามสกุล ..... เลขที่ .....

โรงเรียน .....

สำนักงานเขตพื้นที่การศึกษาประถมศึกษาเชียงใหม่ เขต 3

คำนำ

สำนักงานเขตพื้นที่การศึกษาประถมศึกษาเชียงใหม่ เขต 3 ได้จัดทำแบบฝึกทักษะอ่านออกเขียนได้ คิดเลขเป็น เน้นภาษา ขึ้น มีวัตถุประสงค์เพื่อพัฒนาทักษะพื้นฐานในการเรียนภาษาไทย คณิตศาสตร์ และภาษาอังกฤษ ยกระดับ ผลสัมฤทธิ์ทางการเรียนของผู้เรียน และสร้างโอกาสการเข้าถึงการเรียนรู้ของผู้เรียนอย่างทั่วถึง โดยให้โรงเรียนในสังกัดทุกแห่งได้นำไปใช้ในการจัดกิจกรรมเสริมนอกเวลาเรียนทุกวัน แบบฝึกทักษะคณิตศาสตร์ มีทั้งหมดจำนวน 6 ระดับชั้น ตั้งแต่ชั้นประถมศึกษาปีที่ 1 ถึง ชั้นประถมศึกษาปีที่ 6 แต่ละระดับชั้นจะมีแบบฝึกทั้งหมด 200 ชุด เรียงลำดับตามความยากง่าย เนื้อหามีความเหมาะสมสอดคล้องกับระดับชั้นของผู้เรียนแต่ละระดับชั้น โดยมีรูปแบบของแบบฝึกที่มีความหลากหลาย ซึ่งครูผู้สอนสามารถนำไปใช้กับผู้เรียนได้ทุกคน ใช้เสริมบทเรียนในชั้นเรียน ซ่อมเสริมผู้เรียนรายบุคคล และผู้เรียนสามารถทำแบบฝึกทักษะได้ซ้ำจนเกิดความคล่องแคล่ว ตามศักยภาพและความต้องการได้อย่างต่อเนื่อง

การจัดทำแบบฝึกทักษะคณิตศาสตร์นี้ ได้รับความร่วมมือจากครูผู้สอนคณิตศาสตร์ โดยร่วมสร้างแบบฝึกและตรวจสอบคุณภาพของแบบฝึกดังกล่าวโดยผู้บริหารการศึกษา ศึกษานิเทศก์ และผู้บริหารสถานศึกษาที่เห็นความสำคัญ เป็นที่ปรึกษา ให้คำแนะนำในการปรับปรุงและพัฒนาแบบฝึกทักษะคณิตศาสตร์ฉบับนี้ให้มีคุณภาพ และหวังเป็นอย่างยิ่งว่าแบบฝึกทักษะนี้จะเป็นประโยชน์ต่อการพัฒนาทักษะพื้นฐานและพัฒนาคุณภาพผู้เรียนด้านคณิตศาสตร์ได้อย่างมีประสิทธิภาพ

คณะผู้จัดทำ

สารบัญ (1)

	หน้า
คำนำ	ก
สารบัญ	ข
คำชี้แจง	ฉ
แบบฝึกทักษะคณิตศาสตร์ ชุดที่ 1 การเขียนทศนิยมในรูปกระจาย	1
แบบฝึกทักษะคณิตศาสตร์ ชุดที่ 2 การเขียนทศนิยมในรูปกระจาย	2
แบบฝึกทักษะคณิตศาสตร์ ชุดที่ 3 การเปรียบเทียบทศนิยม	3
แบบฝึกทักษะคณิตศาสตร์ ชุดที่ 4 การเปรียบเทียบทศนิยม	4
แบบฝึกทักษะคณิตศาสตร์ ชุดที่ 5 ความสัมพันธ์ระหว่างทศนิยมกับเศษส่วน	5
แบบฝึกทักษะคณิตศาสตร์ ชุดที่ 6 ความสัมพันธ์ระหว่างทศนิยมกับเศษส่วน	6
แบบฝึกทักษะคณิตศาสตร์ ชุดที่ 7 ความสัมพันธ์ระหว่างทศนิยมกับเศษส่วน	7
แบบฝึกทักษะคณิตศาสตร์ ชุดที่ 8 ความสัมพันธ์ระหว่างทศนิยมกับเศษส่วน	8
แบบฝึกทักษะคณิตศาสตร์ ชุดที่ 9 การเรียงลำดับทศนิยม	9
แบบฝึกทักษะคณิตศาสตร์ ชุดที่ 10 การเรียงลำดับทศนิยม	10
แบบฝึกทักษะคณิตศาสตร์ ชุดที่ 11 ค่าประมาณทศนิยม	11
แบบฝึกทักษะคณิตศาสตร์ ชุดที่ 12 ค่าประมาณทศนิยม	12
แบบฝึกทักษะคณิตศาสตร์ ชุดที่ 13 การหาผลบวกจำนวนนับกับทศนิยม	13
แบบฝึกทักษะคณิตศาสตร์ ชุดที่ 14 การหาผลบวกจำนวนนับกับทศนิยม	14
แบบฝึกทักษะคณิตศาสตร์ ชุดที่ 15 การหาผลบวกจำนวนนับกับทศนิยม	15
แบบฝึกทักษะคณิตศาสตร์ ชุดที่ 16 การหาผลบวกจำนวนนับกับทศนิยม	16
แบบฝึกทักษะคณิตศาสตร์ ชุดที่ 17 การหาผลบวกทศนิยมกับทศนิยม	17
แบบฝึกทักษะคณิตศาสตร์ ชุดที่ 18 การหาผลบวกทศนิยมกับทศนิยม	18
แบบฝึกทักษะคณิตศาสตร์ ชุดที่ 19 การหาผลบวกทศนิยมกับทศนิยม	19
แบบฝึกทักษะคณิตศาสตร์ ชุดที่ 20 การหาผลบวกทศนิยมกับทศนิยม	20
แบบฝึกทักษะคณิตศาสตร์ ชุดที่ 21 การหาผลบวกทศนิยมกับทศนิยม	21
แบบฝึกทักษะคณิตศาสตร์ ชุดที่ 22 การหาผลบวกทศนิยมกับทศนิยม	22
แบบฝึกทักษะคณิตศาสตร์ ชุดที่ 23 การหาผลบวกทศนิยมกับทศนิยม	23
แบบฝึกทักษะคณิตศาสตร์ ชุดที่ 24 การหาผลบวกทศนิยมกับทศนิยม	24
แบบฝึกทักษะคณิตศาสตร์ ชุดที่ 25 การหาผลลบทศนิยมกับจำนวนนับ	25
แบบฝึกทักษะคณิตศาสตร์ ชุดที่ 26 การหาผลลบทศนิยมกับจำนวนนับ	26
แบบฝึกทักษะคณิตศาสตร์ ชุดที่ 27 การหาผลลบทศนิยมกับทศนิยม	27
แบบฝึกทักษะคณิตศาสตร์ ชุดที่ 28 การหาผลลบทศนิยมกับทศนิยม	28
แบบฝึกทักษะคณิตศาสตร์ ชุดที่ 29 การหาผลลบทศนิยมกับทศนิยม	29
แบบฝึกทักษะคณิตศาสตร์ ชุดที่ 30 การหาผลลบทศนิยมกับทศนิยม	30



สารบัญ (2)

	หน้า
แบบฝึกทักษะคณิตศาสตร์ ชุดที่ 31 การหาผลลบทศนิยมกับจำนวนนับ	31
แบบฝึกทักษะคณิตศาสตร์ ชุดที่ 32 การหาผลลบทศนิยมกับจำนวนนับ	32
แบบฝึกทักษะคณิตศาสตร์ ชุดที่ 33 การหาผลลบจำนวนนับกับทศนิยม	33
แบบฝึกทักษะคณิตศาสตร์ ชุดที่ 34 การหาผลลบจำนวนนับกับทศนิยม	34
แบบฝึกทักษะคณิตศาสตร์ ชุดที่ 35 การหาผลลบจำนวนนับกับทศนิยม	35
แบบฝึกทักษะคณิตศาสตร์ ชุดที่ 36 การหาผลลบจำนวนนับกับทศนิยม	36
แบบฝึกทักษะคณิตศาสตร์ ชุดที่ 37 การหาผลคูณจำนวนนับกับทศนิยม	37
แบบฝึกทักษะคณิตศาสตร์ ชุดที่ 38 การหาผลคูณจำนวนนับกับทศนิยม	38
แบบฝึกทักษะคณิตศาสตร์ ชุดที่ 39 การหาผลคูณด้วยสิบกับทศนิยม	39
แบบฝึกทักษะคณิตศาสตร์ ชุดที่ 40 การหาผลคูณด้วยสิบกับทศนิยม	40
แบบฝึกทักษะคณิตศาสตร์ ชุดที่ 41 การหาผลคูณด้วยพหุคูณของสิบกับทศนิยม	41
แบบฝึกทักษะคณิตศาสตร์ ชุดที่ 42 การหาผลคูณด้วยพหุคูณของสิบกับทศนิยม	42
แบบฝึกทักษะคณิตศาสตร์ ชุดที่ 43 การหาผลคูณด้วยร้อยกับทศนิยม	43
แบบฝึกทักษะคณิตศาสตร์ ชุดที่ 44 การหาผลคูณด้วยร้อยกับทศนิยม	44
แบบฝึกทักษะคณิตศาสตร์ ชุดที่ 45 การหาผลคูณด้วยร้อยกับทศนิยม	45
แบบฝึกทักษะคณิตศาสตร์ ชุดที่ 46 การหาผลคูณด้วยพหุคูณของร้อยกับทศนิยม	46
แบบฝึกทักษะคณิตศาสตร์ ชุดที่ 47 การหาผลคูณด้วยพหุคูณของร้อยกับทศนิยม	47
แบบฝึกทักษะคณิตศาสตร์ ชุดที่ 48 การหาผลคูณด้วยพหุคูณของร้อยกับทศนิยม	48
แบบฝึกทักษะคณิตศาสตร์ ชุดที่ 49 การหาผลคูณทศนิยมกับทศนิยม	49
แบบฝึกทักษะคณิตศาสตร์ ชุดที่ 50 การหาผลคูณทศนิยมกับทศนิยม	50
แบบฝึกทักษะคณิตศาสตร์ ชุดที่ 51 การหาผลคูณทศนิยมกับทศนิยม	51
แบบฝึกทักษะคณิตศาสตร์ ชุดที่ 52 การหาผลหารจำนวนนับด้วยจำนวนนับ	52
แบบฝึกทักษะคณิตศาสตร์ ชุดที่ 53 การหาผลหารจำนวนนับด้วยจำนวนนับ	53
แบบฝึกทักษะคณิตศาสตร์ ชุดที่ 54 การหาผลหารจำนวนนับด้วย 10 100 และ 1,000	54
แบบฝึกทักษะคณิตศาสตร์ ชุดที่ 55 การหาผลหารจำนวนนับด้วย 10 100 และ 1,000	55
แบบฝึกทักษะคณิตศาสตร์ ชุดที่ 56 การหาผลหารจำนวนนับด้วยพหุคูณของ 10 และ 100	56
แบบฝึกทักษะคณิตศาสตร์ ชุดที่ 57 การหาผลหารจำนวนนับด้วยพหุคูณของ 10 และ 100	57
แบบฝึกทักษะคณิตศาสตร์ ชุดที่ 58 การหาผลหารจำนวนนับด้วยทศนิยม	58
แบบฝึกทักษะคณิตศาสตร์ ชุดที่ 59 การหาผลหารจำนวนนับด้วยทศนิยม	59
แบบฝึกทักษะคณิตศาสตร์ ชุดที่ 60 การหาผลหารจำนวนนับด้วยทศนิยม	60
แบบฝึกทักษะคณิตศาสตร์ ชุดที่ 61 การหาผลหารทศนิยมด้วยจำนวนนับ	61
แบบฝึกทักษะคณิตศาสตร์ ชุดที่ 62 การหาผลหารทศนิยมด้วยจำนวนนับ	62
แบบฝึกทักษะคณิตศาสตร์ ชุดที่ 63 การหาผลหารทศนิยมด้วยจำนวนนับ	63

สารบัญ (3)

	หน้า
แบบฝึกทักษะคณิตศาสตร์ ชุดที่ 64 การหาผลหารทศนิยมด้วยทศนิยม	64
แบบฝึกทักษะคณิตศาสตร์ ชุดที่ 65 การหาผลหารทศนิยมด้วยทศนิยม	65
แบบฝึกทักษะคณิตศาสตร์ ชุดที่ 66 การหาผลหารทศนิยมด้วยทศนิยม	66
แบบฝึกทักษะคณิตศาสตร์ ชุดที่ 67 โจทย์ปัญหาการบวก ลบ คูณ หารทศนิยม	67
แบบฝึกทักษะคณิตศาสตร์ ชุดที่ 68 โจทย์ปัญหาการบวก ลบ คูณ หารทศนิยม	68
แบบฝึกทักษะคณิตศาสตร์ ชุดที่ 69 โจทย์ปัญหาการบวก ลบ คูณ หารทศนิยม	69
แบบฝึกทักษะคณิตศาสตร์ ชุดที่ 70 โจทย์ปัญหาการบวก ลบ คูณ หารทศนิยม	70
แบบฝึกทักษะคณิตศาสตร์ ชุดที่ 71 การบวก ลบ คูณ หารทศนิยมเศษส่วนและจำนวนคละ	71
แบบฝึกทักษะคณิตศาสตร์ ชุดที่ 72 การบวก ลบ คูณ หารทศนิยมเศษส่วนและจำนวนคละ	72
แบบฝึกทักษะคณิตศาสตร์ ชุดที่ 73 การบวก ลบ คูณ หารทศนิยมเศษส่วนและจำนวนคละ	73
แบบฝึกทักษะคณิตศาสตร์ ชุดที่ 74 การบวก ลบ คูณ หารทศนิยมเศษส่วนและจำนวนคละ	74
แบบฝึกทักษะคณิตศาสตร์ ชุดที่ 75 การบวก ลบ คูณ หารทศนิยมเศษส่วนและจำนวนคละ	75
แบบฝึกทักษะคณิตศาสตร์ ชุดที่ 76 การบวก ลบ คูณ หารทศนิยมเศษส่วนและจำนวนคละ	76
แบบฝึกทักษะคณิตศาสตร์ ชุดที่ 77 การบวก ลบ คูณ หารทศนิยมเศษส่วนและจำนวนคละ	77
แบบฝึกทักษะคณิตศาสตร์ ชุดที่ 78 การบวก ลบ คูณ หารทศนิยมเศษส่วนและจำนวนคละ	78
แบบฝึกทักษะคณิตศาสตร์ ชุดที่ 79 การบวก ลบ คูณ หารทศนิยมเศษส่วนและจำนวนคละ	79
แบบฝึกทักษะคณิตศาสตร์ ชุดที่ 80 การบวก ลบ คูณ หารทศนิยมเศษส่วนและจำนวนคละ	80
แบบฝึกทักษะคณิตศาสตร์ ชุดที่ 81 การบวก ลบ คูณ หารทศนิยมเศษส่วนและจำนวนคละ	81
แบบฝึกทักษะคณิตศาสตร์ ชุดที่ 82 การบวก ลบ คูณ หารทศนิยมเศษส่วนและจำนวนคละ	82
แบบฝึกทักษะคณิตศาสตร์ ชุดที่ 83 การบวก ลบ คูณ หารทศนิยมเศษส่วนและจำนวนคละ	83
แบบฝึกทักษะคณิตศาสตร์ ชุดที่ 84 การบวก ลบ คูณ หารทศนิยมเศษส่วนและจำนวนคละ	84
แบบฝึกทักษะคณิตศาสตร์ ชุดที่ 85 การบวก ลบ คูณ หารทศนิยมเศษส่วนและจำนวนคละ	85
แบบฝึกทักษะคณิตศาสตร์ ชุดที่ 86 ตัวหารร่วมมาก (ห.ร.ม.)	86
แบบฝึกทักษะคณิตศาสตร์ ชุดที่ 87 ตัวหารร่วมมาก (ห.ร.ม.)	87
แบบฝึกทักษะคณิตศาสตร์ ชุดที่ 88 ตัวคูณร่วมน้อย (ค.ร.น.)	88
แบบฝึกทักษะคณิตศาสตร์ ชุดที่ 89 ตัวคูณร่วมน้อย (ค.ร.น.)	89
แบบฝึกทักษะคณิตศาสตร์ ชุดที่ 90 ตัวคูณร่วมน้อย (ค.ร.น.)	90
แบบฝึกทักษะคณิตศาสตร์ ชุดที่ 91 จำนวนที่ไม่ทราบค่า	91
แบบฝึกทักษะคณิตศาสตร์ ชุดที่ 92 คำตอบของสมการ	92
แบบฝึกทักษะคณิตศาสตร์ ชุดที่ 93 คำตอบของสมการ	93
แบบฝึกทักษะคณิตศาสตร์ ชุดที่ 94 โจทย์ปัญหาของสมการ	94
แบบฝึกทักษะคณิตศาสตร์ ชุดที่ 95 โจทย์ปัญหาของสมการ	95
แบบฝึกทักษะคณิตศาสตร์ ชุดที่ 96 การหาพื้นที่ของรูปสี่เหลี่ยม	96

สารบัญ (4)

	หน้า
แบบฝึกทักษะคณิตศาสตร์ ชุดที่ 97 การหาพื้นที่ของรูปสี่เหลี่ยม	97
แบบฝึกทักษะคณิตศาสตร์ ชุดที่ 98 การหาพื้นที่ของรูปวงกลม	98
แบบฝึกทักษะคณิตศาสตร์ ชุดที่ 99 การหาปริมาตรของรูปทรงสี่เหลี่ยมมุมฉาก	99
แบบฝึกทักษะคณิตศาสตร์ ชุดที่ 100 โจทย์ปัญหาการหาพื้นที่และปริมาตร	100
คณะผู้จัดทำ	101

คำชี้แจง

เมื่อครูนำแบบฝึกเพื่อพัฒนาทักษะคณิตศาสตร์นี้ไปใช้ ควรปฏิบัติดังนี้

1. แบบฝึกทักษะ ใช้ประกอบการสอนเพิ่มเติมหรือสอนเสริมกลุ่มสาระการเรียนรู้คณิตศาสตร์ ชั้นประถมศึกษาปีที่ 6 ใช้เวลาในการทำต่อ 1 ชุด เวลา 15 นาที
2. ชี้แจงขั้นตอนการเรียนโดยใช้แบบฝึกเพื่อพัฒนาทักษะคณิตศาสตร์นี้ให้นักเรียนเข้าใจ
3. แจ้งจุดประสงค์การเรียนรู้ให้นักเรียนทราบ
4. ดูแล ให้คำแนะนำนักเรียนทันทีเมื่อนักเรียนมีข้อสงสัยซักถาม
5. เมื่อนักเรียนทำแบบฝึกทักษะเสร็จแล้ว ให้ช่วยกันตรวจคำตอบจากเฉลย
6. ประเมินผลการเรียนของนักเรียนอย่างต่อเนื่องและให้แรงเสริมในการปฏิบัติกิจกรรมของนักเรียน
7. บันทึกผลการประเมินหลังการจัดกิจกรรมการเรียนรู้โดยใช้แบบฝึกทักษะทุกครั้ง

แบบฝึกทักษะ ชุดที่ 1 เรื่อง การเขียนทศนิยมในรูปกระจาย

10

จงเติมตัวเลขลงในช่องว่างให้ประโยคเป็นจริง

1) $2 + 0.7 + 0.01 + \square = 2.715$

2) $5 + 0.8 + \square + 0.008 = 5.818$

3) $10 + 5 + \square + 0.02 + 0.007 = 15.127$

4) $20 + 1 + 0.3 + \square + 0.004 = 21.304$

5) $30 + 9 + 0.1 + 0 + \square = 39.108$

6) $40 + 6 + 0.2 + 0.03 + \square = 46.236$

7) $50 + 9 + 0.3 + 0.01 + \square = 59.311$

8) $60 + 4 + 0.1 + \square + 0.004 = 64.124$

9) $50 + 0 + 0.3 + 0.01 + \square = 50.319$

10) $100 + 4 + 0.1 + \square + 0.008 = 104.108$





ชื่อ-สกุล ..... ชั้น ..... เลขที่ .....

แบบฝึกทักษะ ชุดที่ 2 เรื่อง การเขียนทศนิยมในรูปกระจาย

10

จงเติมตัวเลขลงในช่องว่างให้ประโยคเป็นจริง

1) 4.617 = 4 + 0.6 + 0.01 + ☐

2) 9.989 = 9 + 0.9 + ☐ + 0.009

3) 25.123 = 20 + 5 + ☐ + 0.02 + 0.003

4) 33.301 = 30 + 3 + 0.3 + ☐ + 0.001

5) 49.105 = 40 + 9 + 0.1 + 0 + ☐

6) 96.234 = 90 + 6 + 0.2 + 0.03 + ☐

7) 99.313 = 90 + 9 + 0.3 + 0.01 + ☐

8) 78.904 = 70 + 8 + 0.9 + ☐ + 0.004

9) 101.319 = 101 + 0 + 0.3 + 0.01 + ☐

10) 124.118 = 100 + 4 + 0.1 + ☐ + 0.008





ชื่อ-สกุล ..... ชั้น ..... เลขที่ .....

แบบฝึกทักษะ ชุดที่ 3 เรื่อง การเปรียบเทียบทศนิยม

10

เติมเครื่องหมาย > หรือ < ลงใน ☐ ให้ถูกต้อง

1) 0.127 ☐ 1.137

2) 0.843 ☐ 0.834

3) 6.427 ☐ 6.537

4) 2.002 ☐ 3.015

5) 1.147 ☐ 1.047

6) 23.015 ☐ 32.105

7) 21.715 ☐ 20.687

8) 27.540 ☐ 21.450

9) 21.715 ☐ 20.687

10) 27.540 ☐ 21.450



ชื่อ-สกุล ..... ชั้น ..... เลขที่ .....

แบบฝึกทักษะ ชุดที่ 4 เรื่อง การเปรียบเทียบทศนิยม

10

เติมเครื่องหมาย > , < หรือ = ลงใน ☐ ให้ถูกต้อง

1) 0.107 ☐ 0.13

2) 0.760 ☐ 0.76

3) 4.427 ☐ 4.537

4) 3.002 ☐ 2.915

5) 11.14 ☐ 1.047

6) 34.015 ☐ 43.105

7) 56.715 ☐ 56.687

8) 99.540 ☐ 99.54

9) 121.71 ☐ 120.687

10) 327.54 ☐ 317.450



ชื่อ-สกุล ..... ชั้น ..... เลขที่ .....

แบบฝึกทักษะ ชุดที่ 5 เรื่อง ความสัมพันธ์ระหว่างทศนิยมกับเศษส่วน

ให้นักเรียนเขียนแสดงทศนิยมไม่เกินสามตำแหน่งที่กำหนดให้อยู่ในรูปเศษส่วน

10

1. 0.4 = ...
2. 5.2 = ...
3. 0.306 = ...
4. 8.02 = ...
5. 1.813 = ...
6. 0.004 = ...
7. 75.261 = ...
8. 0.36 = ...
9. 85.02 = ...
10. 12.83 = ...



ชื่อ-สกุล ..... ชั้น ..... เลขที่ .....

แบบฝึกทักษะ ชุดที่ 6 เรื่อง ความสัมพันธ์ระหว่างทศนิยมกับเศษส่วน

10

ให้นักเรียนเขียนแสดงทศนิยมไม่เกินสามตำแหน่งที่กำหนดให้อยู่ในรูปเศษส่วน

1. 1.4 = ...
2. 5.8 = ...
3. 0.606 = ...
4. 7.08 = ...
5. 3.803 = ...
6. 0.007 = ...
7. 25.234 = ...
8. 101.36 = ...
9. 8.002 = ...
10. 92.83 = ...



ชื่อ-สกุล ..... ชั้น ..... เลขที่ .....

แบบฝึกทักษะ ชุดที่ 7 เรื่อง ความสัมพันธ์ระหว่างทศนิยมกับเศษส่วน

ให้นักเรียนเขียนเศษส่วนที่กำหนดให้อยู่ในรูปทศนิยม

10

1. $\frac{11}{10}$ = ...
2. $\frac{12}{100}$ = ...
3. $\frac{215}{100}$ = ...
4. $\frac{357}{1,000}$ = ...
5. $\frac{469}{1,000}$ = ...
6. $\frac{1,159}{1,000}$ = ...
7. $\frac{1,379}{1,000}$ = ...
8. $\frac{21}{10}$ = ...
9. $\frac{459}{100}$ = ...
10. $\frac{2,194}{1,000}$ = ...



ชื่อ-สกุล ..... ชั้น ..... เลขที่ .....

แบบฝึกทักษะ ชุดที่ 8 เรื่อง ความสัมพันธ์ระหว่างทศนิยมกับเศษส่วน

10

ให้นักเรียนเขียนเศษส่วนที่กำหนดให้อยู่ในรูปทศนิยม

1. $\frac{7}{10}$ = ...
2. $\frac{52}{100}$ = ...
3. $\frac{115}{100}$ = ...
4. $\frac{234}{1,000}$ = ...
5. $\frac{986}{1,000}$ = ...
6. $\frac{1,159}{1,000}$ = ...
7. $\frac{1,379}{1,000}$ = ...
8. $8\frac{1}{10}$ = ...
9. $4\frac{21}{100}$ = ...
10. $12\frac{194}{1,000}$ = ...



ชื่อ-สกุล ..... ชั้น ..... เลขที่ .....

แบบฝึกทักษะ ชุดที่ 9 เรื่อง การเรียงลำดับทศนิยม

10

1. เรียงลำดับทศนิยมที่กำหนดให้จากน้อยไปมาก

1) 7.18 2.301 2.110 ➲ .....

2) 11.05 12.61 10.238 ➲ .....

3) 5.321 6.001 3.41 5.142 ➲ .....

4) 3.046 11.07 14.257 6.457 ➲ .....

5) 5.147 6.230 4.017 5.991 6.012 ➲ .....

2. เรียงลำดับทศนิยมที่กำหนดให้จากมากไปน้อย

1) 6.48 3.801 5.120 ➲ .....

2) 21.07 18.55 30.241 ➲ .....

3) 6.311 6.089 3.958 5.567 ➲ .....

4) 3.124 9.127 11.254 8.174 ➲ .....

5) 6.247 4.658 5.257 6.870 3.451 ➲ .....



ชื่อ-สกุล ..... ชั้น ..... เลขที่ .....

แบบฝึกทักษะ ชุดที่ 10 เรื่อง การเรียงลำดับทศนิยม

10

1. เรียงลำดับทศนิยมที่กำหนดให้จากน้อยไปมาก

1) 0.18 0.301 0.110 ➲ .....

2) 1.05 1.61 1.238 ➲ .....

3) 4.321 5.001 6.41 4.142 ➲ .....

4) 8.046 10.07 9.257 8.457 ➲ .....

5) 15.147 26.230 34.91 25.99 ➲ .....

2. เรียงลำดับทศนิยมที่กำหนดให้จากมากไปน้อย

1) 0.48 0.801 0.120 ➲ .....

2) 11.7 11.55 10.241 ➲ .....

3) 63.11 60.89 39.58 55.67 ➲ .....

4) 3.123 9.107 11.54 8.107 ➲ .....

5) 101.2 4.658 52.57 68.70 ➲ .....



ชื่อ-สกุล ..... ชั้น ..... เลขที่ .....

แบบฝึกทักษะ ชุดที่ 11 เรื่อง ค่าประมาณทศนิยม

10

จงประมาณค่าทศนิยมต่อไปนี้เป็นทศนิยม 1 ตำแหน่ง

1. 0.044 = ...
2. 75.261 = ...
3. 0.36 = ...
4. 85.02 = ...
5. 12.83 = ...

จงประมาณค่าทศนิยมต่อไปนี้เป็นทศนิยม 2 ตำแหน่ง

6. 12.258 = ...
7. 2.316 = ...
8. 8.148 = ...
9. 0.0074 = ...
10. 51.321 = ...





ชื่อ-สกุล ..... ชั้น ..... เลขที่ .....

แบบฝึกทักษะ ชุดที่ 12 เรื่อง ค่าประมาณทศนิยม

10

จงประมาณค่าทศนิยมต่อไปนี้เป็นทศนิยม 1 ตำแหน่ง

1. 0.07 = ...
2. 5.251 = ...
3. 10.345 = ...
4. 69.02 = ...
5. 102.843 = ...

จงประมาณค่าทศนิยมต่อไปนี้เป็นทศนิยม 2 ตำแหน่ง

6. 0.252 = ...
7. 2.345 = ...
8. 18.143 = ...
9. 0.0067 = ...
10. 91.987 = ...



ชื่อ-สกุล ..... ชั้น ..... เลขที่ .....

แบบฝึกทักษะ ชุดที่ 13 เรื่อง การหาผลบวกจำนวนนับกับทศนิยม

10	

1. 3 + 0.4 = ...
2. 6 + 0.7 = ...
3. 4 + 1.5 = ...
4. 5 + 2.3 = ...
5. 7 + 2.35 = ...
6. 23 + 1.25 = ...
7. 30 + 6.33 = ...
8. 13 + 0.214 = ...
9. 15 + 0.156 = ...
10. 27 + 2.435 = ...





ชื่อ-สกุล ..... ชั้น ..... เลขที่ .....

แบบฝึกทักษะ ชุดที่ 14 เรื่อง การหาผลบวกจำนวนนับกับทศนิยม

10

1. 1 + 0.8 = ...
2. 5 + 1.6 = ...
3. 3 + 2.4 = ...
4. 4 + 3.7 = ...
5. 2 + 4.91 = ...
6. 22 + 3.56 = ...
7. 24 + 5.72 = ...
8. 25 + 2.345 = ...
9. 28 + 1.735 = ...
10. 31 + 3.527 = ...



ชื่อ-สกุล ..... ชั้น ..... เลขที่ .....

แบบฝึกทักษะ ชุดที่ 15 เรื่อง การหาผลบวกจำนวนนับกับทศนิยม

10

1. 2 + 8.3 = ...
2. 13 + 7.8 = ...
3. 19 + 5.7 = ...
4. 27 + 8.9 = ...
5. 21 + 9.23 = ...
6. 28 + 7.43 = ...
7. 29 + 8.36 = ...
8. 27 + 5.123 = ...
9. 36 + 7.245 = ...
10. 49 + 8.547 = ...



ชื่อ-สกุล ..... ชั้น ..... เลขที่ .....

แบบฝึกทักษะ ชุดที่ 16 เรื่อง การหาผลบวกจำนวนนับกับทศนิยม

10

1. 9 + 6.5 = ...
2. 16 + 8.8 = ...
3. 17 + 8.7 = ...
4. 29 + 3.1 = ...
5. 33 + 7.32 = ...
6. 36 + 8.65 = ...
7. 38 + 9.78 = ...
8. 31 + 9.732 = ...
9. 44 + 7.365 = ...
10. 47 + 6.356 = ...



ชื่อ-สกุล ..... ชั้น ..... เลขที่ .....

แบบฝึกทักษะ ชุดที่ 17 เรื่อง การหาผลบวกทศนิยมกับทศนิยม

10	

1. 0.5 + 0.4 = ...
2. 1.2 + 0.5 = ...
3. 1.3 + 0.6 = ...
4. 1.5 + 0.3 = ...
5. 3.24 + 0.55 = ...
6. 3.15 + 0.41 = ...
7. 2.32 + 1.24 = ...
8. 4.251 + 0.321 = ...
9. 4.312 + 0.373 = ...
10. 5.452 + 4.137 = ...





ชื่อ-สกุล ..... ชั้น ..... เลขที่ .....

แบบฝึกทักษะ ชุดที่ 18 เรื่อง การหาผลบวกทศนิยมกับทศนิยม

10

1. 1.1 + 1.5 = ...
2. 1.3 + 1.6 = ...
3. 1.6 + 2.1 = ...
4. 2.3 + 2.4 = ...
5. 2.16 + 0.22 = ...
6. 3.45 + 2.43 = ...
7. 3.46 + 2.52 = ...
8. 4.246 + 4.623 = ...
9. 5.352 + 4.326 = ...
10. 4.235 + 5.313 = ...



ชื่อ-สกุล ..... ชั้น ..... เลขที่ .....



แบบฝึกทักษะ ชุดที่ 19 เรื่อง การหาผลบวกทศนิยมกับทศนิยม

10

1. 0.4 + 0.8 = ...
2. 0.4 + 2.8 = ...
3. 1.5 + 1.7 = ...
4. 2.6 + 0.7 = ...
5. 0.11 + 0.09 = ...
6. 0.16 + 0.05 = ...
7. 0.12 + 0.18 = ...
8. 0.003 + 0.078 = ...
9. 0.206 + 0.264 = ...
10. 0.123 + 0.208 = ...





ชื่อ-สกุล ..... ชั้น ..... เลขที่ .....

แบบฝึกทักษะ ชุดที่ 20 เรื่อง การหาผลบวกทศนิยมกับทศนิยม

10

1. 0.5 + 0.6 = ...
2. 2.4 + 0.9 = ...
3. 2.9 + 0.7 = ...
4. 2.2 + 0.8 = ...
5. 0.15 + 0.08 = ...
6. 0.24 + 0.07 = ...
7. 0.14 + 0.18 = ...
8. 0.005 + 0.108 = ...
9. 0.071 + 0.132 = ...
10. 0.081 + 0.423 = ...





ชื่อ-สกุล ..... ชั้น ..... เลขที่ .....

แบบฝึกทักษะ ชุดที่ 21 เรื่อง การหาผลบวกทศนิยมกับทศนิยม

10

1. 0.1 + 0.16 = ...
2. 0.7 + 0.03 = ...
3. 0.2 + 0.24 = ...
4. 0.4 + 0.59 = ...
5. 0.2 + 0.008 = ...
6. 0.3 + 0.018 = ...
7. 0.8 + 0.104 = ...
8. 0.02 + 0.203 = ...
9. 0.21 + 0.004 = ...
10. 0.13 + 0.056 = ...





ชื่อ-สกุล ..... ชั้น ..... เลขที่ .....

แบบฝึกทักษะ ชุดที่ 22 เรื่อง การหาผลบวกทศนิยมกับทศนิยม

10

1. 0.8 + 0.02 = ...
2. 0.3 + 0.16 = ...
3. 0.1 + 1.08 = ...
4. 0.7 + 1.03 = ...
5. 0.2 + 0.005 = ...
6. 0.5 + 0.023 = ...
7. 0.6 + 0.018 = ...
8. 0.93 + 0.001 = ...
9. 0.35 + 0.007 = ...
10. 0.04 + 0.0019 = ...





ชื่อ-สกุล ..... ชั้น ..... เลขที่ .....

แบบฝึกทักษะ ชุดที่ 23 เรื่อง การหาผลบวกทศนิยมกับทศนิยม

10

1. 0.1 + 0.95 = ...
2. 0.9 + 0.28 = ...
3. 0.6 + 4.83 = ...
4. 1.7 + 0.63 = ...
5. 0.4 + 0.716 = ...
6. 0.7 + 0.547 = ...
7. 1.4 + 0.809 = ...
8. 0.08 + 0.056 = ...
9. 0.18 + 0.034 = ...
10. 0.85 + 0.307 = ...



ชื่อ-สกุล ..... ชั้น ..... เลขที่ .....

แบบฝึกทักษะ ชุดที่ 24 เรื่อง การหาผลบวกทศนิยมกับทศนิยม

10

1. 0.7 + 3.37 = ...
2. 1.9 + 0.15 = ...
3. 2.8 + 0.34 = ...
4. 3.9 + 0.26 = ...
5. 0.8 + 0.703 = ...
6. 0.7 + 0.635 = ...
7. 1.7 + 0.523 = ...
8. 0.01 + 0.093 = ...
9. 0.06 + 0.051 = ...
10. 0.29 + 0.651 = ...





ชื่อ-สกุล ..... ชั้น ..... เลขที่ .....

แบบฝึกทักษะ ชุดที่ 25 เรื่อง การหาผลลบทศนิยมกับจำนวนนับ

10	

1. 3.1 – 1 = ...
2. 2.6 – 2 = ...
3. 9.6 – 3 = ...
4. 7.9 – 4 = ...
5. 8.7 – 5 = ...
6. 10.2 – 6 = ...
7. 11.8 – 7 = ...
8. 12.1 – 7 = ...
9. 15.5 – 8 = ...
10. 20.6 – 9 = ...





ชื่อ-สกุล ..... ชั้น ..... เลขที่ .....

แบบฝึกทักษะ ชุดที่ 26 เรื่อง การหาผลลบทศนิยมกับจำนวนนับ

10

1. 1.5 – 1 = ...
2. 4.9 – 3 = ...
3. 6.4 – 4 = ...
4. 5.6 – 2 = ...
5. 7.8 – 5 = ...
6. 11.4 – 8 = ...
7. 13.2 – 7 = ...
8. 14.1 – 8 = ...
9. 16.1 – 9 = ...
10. 21.2 – 9 = ...



ชื่อ-สกุล ..... ชั้น ..... เลขที่ .....

แบบฝึกทักษะ ชุดที่ 27 เรื่อง การหาผลลบทศนิยมกับทศนิยม

10	

1. 1.7 – 1.5 = ...
2. 3.5 – 1.5 = ...
3. 3.9 – 0.6 = ...
4. 5.5 – 3.1 = ...
5. 7.6 – 4.1 = ...
6. 0.28 – 0.04 = ...
7. 1.59 – 0.41 = ...
8. 6.15 – 1.01 = ...
9. 5.99 – 3.83 = ...
10. 8.48 – 3.35 = ...





ชื่อ-สกุล ..... ชั้น ..... เลขที่ .....

แบบฝึกทักษะ ชุดที่ 28 เรื่อง การหาผลลบทศนิยมกับทศนิยม

10	

1. 2.9 – 0.8 = ...
2. 6.6 – 1.2 = ...
3. 4.7 – 2.4 = ...
4. 6.8 – 3.1 = ...
5. 8.8 – 4.5 = ...
6. 1.24 – 0.24 = ...
7. 2.39 – 0.03 = ...
8. 3.73 – 1.12 = ...
9. 3.94 – 2.44 = ...
10. 6.97 – 5.20 = ...





ชื่อ-สกุล ..... ชั้น ..... เลขที่ .....

แบบฝึกทักษะ ชุดที่ 29 เรื่อง การหาผลลบทศนิยมกับทศนิยม

10

1. 1.2 – 0.4 = ...
2. 2.3 – 0.6 = ...
3. 4.6 – 2.9 = ...
4. 4.1 – 1.2 = ...
5. 5.6 – 1.8 = ...
6. 0.11 – 0.07 = ...
7. 2.06 – 0.13 = ...
8. 3.72 – 2.66 = ...
9. 4.17 – 1.55 = ...
10. 5.64 – 1.91 = ...





ชื่อ-สกุล ..... ชั้น ..... เลขที่ .....

แบบฝึกทักษะ ชุดที่ 30 เรื่อง การหาผลลบทศนิยมกับทศนิยม

	10

1. 1.7 – 0.9 = ...
2. 2.3 – 1.6 = ...
3. 3.2 – 0.7 = ...
4. 3.4 – 2.7 = ...
5. 5.1 – 1.5 = ...
6. 0.61 – 0.36 = ...
7. 0.73 – 0.54 = ...
8. 2.07 – 0.34 = ...
9. 2.51 – 2.37 = ...
10. 2.85 – 2.09 = ...



ชื่อ-สกุล ..... ชั้น ..... เลขที่ .....

แบบฝึกทักษะ ชุดที่ 31 เรื่อง การหาผลลบทศนิยมกับจำนวนนับ

10

1. 3.01 – 1 = ...
2. 4.24 – 2 = ...
3. 7.21 – 3 = ...
4. 3.675 – 3 = ...
5. 6.374 – 4 = ...
6. 0.37 – 0.2 = ...
7. 2.44 – 2.3 = ...
8. 6.80 – 5.7 = ...
9. 1.434 – 1.1 = ...
10. 2.607 – 13 = ...





ชื่อ-สกุล ..... ชั้น ..... เลขที่ .....

แบบฝึกทักษะ ชุดที่ 32 เรื่อง การหาผลลบทศนิยมกับจำนวนนับ

10

1. 4.53 – 1 = ...
2. 5.05 – 2 = ...
3. 5.82 – 3 = ...
4. 4.528 – 4 = ...
5. 7.015 – 4 = ...
6. 1.93 – 0.5 = ...
7. 4.57 – 2.4 = ...
8. 6.71 – 1.1 = ...
9. 1.974 – 1.8 = ...
10. 3.812 – 2.5 = ...





ชื่อ-สกุล ..... ชั้น ..... เลขที่ .....

แบบฝึกทักษะ ชุดที่ 33 เรื่อง การหาผลลบจำนวนนับกับทศนิยม

10	

1. 1 – 0.3 = ...
2. 3 – 0.4 = ...
3. 4 – 2.7 = ...
4. 5 – 4.1 = ...
5. 1 – 0.44 = ...
6. 4 – 1.53 = ...
7. 3 – 1.93 = ...
8. 0.1 – 0.04 = ...
9. 0.7 – 0.32 = ...
10. 1.6 – 1.38 = ...





ชื่อ-สกุล ..... ชั้น ..... เลขที่ .....

แบบฝึกทักษะ ชุดที่ 34 เรื่อง การหาผลลบจำนวนนับกับทศนิยม

10	

1. 1 – 0.1 = ...
2. 2 – 0.6 = ...
3. 3 – 1.5 = ...
4. 4 – 2.4 = ...
5. 1 – 0.12 = ...
6. 6 – 5.83 = ...
7. 8 – 2.65 = ...
8. 0.3 – 0.11 = ...
9. 0.9 – 0.51 = ...
10. 5.1 – 2.09 = ...





ชื่อ-สกุล ..... ชั้น ..... เลขที่ .....

แบบฝึกทักษะ ชุดที่ 35 เรื่อง การหาผลลบจำนวนนับกับทศนิยม

10

1. 11.05 – 4 = ...
2. 13.47 – 7 = ...
3. 16.61 – 9 = ...
4. 1.16 – 0.8 = ...
5. 3.36 – 1.8 = ...
6. 5.25 – 2.9 = ...
7. 2.34 – 1.9 = ...
8. 1.073 – 0.4 = ...
9. 1.402 – 0.5 = ...
10. 2.517 – 1.7 = ...



ชื่อ-สกุล ..... ชั้น ..... เลขที่ .....

แบบฝึกทักษะ ชุดที่ 36 เรื่อง การหาผลลบจำนวนนับกับทศนิยม

	10

1. 10.42 – 1 = ...
2. 15.11 – 7 = ...
3. 21.15 – 4 = ...
4. 1.12 – 0.3 = ...
5. 4.02 – 2.5 = ...
6. 5.34 – 1.6 = ...
7. 3.29 – 1.3 = ...
8. 1.428 – 0.7 = ...
9. 2.512 – 0.9 = ...
10. 3.114 – 2.2 = ...



ชื่อ-สกุล ..... ชั้น ..... เลขที่ .....

แบบฝึกทักษะ ชุดที่ 37 เรื่อง การหาผลคูณจำนวนนับกับทศนิยม

10

1. 2×0.3 = ...
2. 3×0.5 = ...
3. 2×1.4 = ...
4. 4×1.5 = ...
5. 5×1.7 = ...
6. 6×3.5 = ...
7. 4×0.02 = ...
8. 7×0.04 = ...
9. 3×1.03 = ...
10. 8×0.42 = ...



ชื่อ-สกุล ..... ชั้น ..... เลขที่ .....

แบบฝึกทักษะ ชุดที่ 38 เรื่อง การหาผลคูณจำนวนนับกับทศนิยม

10

1. 2×0.4 = ...
2. 3×1.3 = ...
3. 2×4.2 = ...
4. 3×1.7 = ...
5. 5×6.3 = ...
6. 7×5.2 = ...
7. 3×0.12 = ...
8. 4×1.21 = ...
9. 6×1.08 = ...
10. 9×2.91 = ...



ชื่อ-สกุล ..... ชั้น ..... เลขที่ .....

แบบฝึกทักษะ ชุดที่ 39 เรื่อง การหาผลคูณด้วยสิบกับทศนิยม

10

1. 10 × 0.4 = ...
2. 10 × 1.3 = ...
3. 10 × 7.6 = ...
4. 10 × 63.8 = ...
5. 10 × 0.81 = ...
6. 10 × 2.39 = ...
7. 10 × 91.73 = ...
8. 10 × 0.432 = ...
9. 10 × 1.014 = ...
10. 10 × 2.614 = ...





ชื่อ-สกุล ..... ชั้น ..... เลขที่ .....

แบบฝึกทักษะ ชุดที่ 40 เรื่อง การหาผลคูณด้วยสิบกับทศนิยม

10

1. 10 × 0.2 = ...
2. 10 × 6.7 = ...
3. 10 × 8.1 = ...
4. 10 × 85.2 = ...
5. 10 × 0.54 = ...
6. 10 × 8.65 = ...
7. 10 × 24.76 = ...
8. 10 × 0.519 = ...
9. 10 × 1.856 = ...
10. 10 × 1.981 = ...





ชื่อ-สกุล ..... ชั้น ..... เลขที่ .....

แบบฝึกทักษะ ชุดที่ 41 เรื่อง การหาผลคูณด้วยพหุคูณของสิบกับทศนิยม

10	

1. 20 × 0.4 = ...
2. 30 × 2.3 = ...
3. 50 × 1.7 = ...
4. 70 × 2.5 = ...
5. 30 × 0.32 = ...
6. 60 × 3.56 = ...
7. 50 × 8.88 = ...
8. 40 × 0.222 = ...
9. 60 × 0.801 = ...
10. 50 × 2.118 = ...



ชื่อ-สกุล ..... ชั้น ..... เลขที่ .....

แบบฝึกทักษะ ชุดที่ 42 เรื่อง การหาผลคูณด้วยพหุคูณของสิบกับทศนิยม

10	

1. 20 × 0.7 = ...
2. 60 × 3.7 = ...
3. 50 × 4.9 = ...
4. 80 × 5.8 = ...
5. 20 × 1.48 = ...
6. 40 × 7.23 = ...
7. 80 × 6.91 = ...
8. 30 × 0.203 = ...
9. 50 × 2.163 = ...
10. 90 × 4.311 = ...



ชื่อ-สกุล ..... ชั้น ..... เลขที่ .....

แบบฝึกทักษะ ชุดที่ 43 เรื่อง การหาผลคูณด้วยร้อยกับทศนิยม

10

1. 100 × 0.1 = ...
2. 100 × 0.2 = ...
3. 100 × 1.1 = ...
4. 100 × 2.4 = ...
5. 100 × 0.07 = ...
6. 100 × 1.11 = ...
7. 100 × 1.23 = ...
8. 100 × 0.142 = ...
9. 100 × 0.215 = ...
10. 100 × 1.216 = ...





ชื่อ-สกุล ..... ชั้น ..... เลขที่ .....

แบบฝึกทักษะ ชุดที่ 44 เรื่อง การหาผลคูณด้วยร้อยกับทศนิยม

10	

1. 100 × 0.4 = ...
2. 100 × 1.5 = ...
3. 100 × 4.9 = ...
4. 100 × 5.2 = ...
5. 100 × 0.78 = ...
6. 100 × 1.15 = ...
7. 100 × 2.24 = ...
8. 100 × 2.381 = ...
9. 100 × 2.452 = ...
10. 100 × 2.687 = ...





ชื่อ-สกุล ..... ชั้น ..... เลขที่ .....

แบบฝึกทักษะ ชุดที่ 45 เรื่อง การหาผลคูณด้วยร้อยกับทศนิยม

10

1. 100 × 0.8 = ...
2. 100 × 8.5 = ...
3. 100 × 7.8 = ...
4. 100 × 9.9 = ...
5. 100 × 0.23 = ...
6. 100 × 3.47 = ...
7. 100 × 3.66 = ...
8. 100 × 3.456 = ...
9. 100 × 3.567 = ...
10. 100 × 3.695 = ...





ชื่อ-สกุล ..... ชั้น ..... เลขที่ .....

แบบฝึกทักษะ ชุดที่ 46 เรื่อง การหาผลคูณด้วยพหุคูณของร้อยกับทศนิยม

10	

1. 200 × 0.1 = ...
2. 300 × 0.4 = ...
3. 500 × 1.2 = ...
4. 800 × 5.2 = ...
5. 200 × 0.05 = ...
6. 300 × 1.21 = ...
7. 700 × 6.13 = ...
8. 800 × 0.003 = ...
9. 400 × 0.013 = ...
10. 300 × 0.457 = ...





ชื่อ-สกุล ..... ชั้น ..... เลขที่ .....

แบบฝึกทักษะ ชุดที่ 47 เรื่อง การหาผลคูณด้วยพหุคูณของร้อยกับทศนิยม

10	

1. 300 × 0.3 = ...
2. 300 × 0.6 = ...
3. 500 × 1.9 = ...
4. 700 × 6.5 = ...
5. 600 × 0.08 = ...
6. 300 × 2.14 = ...
7. 800 × 5.31 = ...
8. 600 × 0.005 = ...
9. 900 × 0.021 = ...
10. 500 × 0.461 = ...





ชื่อ-สกุล ..... ชั้น ..... เลขที่ .....

แบบฝึกทักษะ ชุดที่ 48 เรื่อง การหาผลคูณด้วยพหุคูณของร้อยกับทศนิยม

10

1. 200 × 0.3 = ...
2. 400 × 0.7 = ...
3. 500 × 1.5 = ...
4. 600 × 2.8 = ...
5. 700 × 0.01 = ...
6. 300 × 2.13 = ...
7. 700 × 4.12 = ...
8. 800 × 0.007 = ...
9. 900 × 0.012 = ...
10. 300 × 0.524 = ...





ชื่อ-สกุล ..... ชั้น ..... เลขที่ .....

แบบฝึกทักษะ ชุดที่ 49 เรื่อง การหาผลคูณทศนิยมกับทศนิยม

10	

1. 0.2 × 0.1 = ...
2. 0.4 × 0.2 = ...
3. 1.1 × 0.6 = ...
4. 0.5 × 0.5 = ...
5. 10.1 × 0.3 = ...
6. 0.4 × 0.04 = ...
7. 0.7 × 0.05 = ...
8. 1.7 × 0.05 = ...
9. 2.6 × 0.06 = ...
10. 12.3 × 0.09 = ...





ชื่อ-สกุล ..... ชั้น ..... เลขที่ .....

แบบฝึกทักษะ ชุดที่ 50 เรื่อง การหาผลคูณทศนิยมกับทศนิยม

10

1. 0.7 × 0.6 = ...
2. 0.8 × 0.2 = ...
3. 2.5 × 0.5 = ...
4. 7.5 × 0.4 = ...
5. 12.2 × 0.5 = ...
6. 0.2 × 0.03 = ...
7. 0.6 × 0.05 = ...
8. 3.5 × 0.07 = ...
9. 8.4 × 0.08 = ...
10. 14.6 × 0.09 = ...





ชื่อ-สกุล ..... ชั้น ..... เลขที่ .....

แบบฝึกทักษะ ชุดที่ 51 เรื่อง การหาผลคูณทศนิยมกับทศนิยม

10

1. 0.3×0.2 = ...
2. 0.7×0.5 = ...
3. 1.4×0.6 = ...
4. 3.4×0.4 = ...
5. 17.2×0.9 = ...
6. 0.9×0.02 = ...
7. 2.6×0.03 = ...
8. 5.7×0.04 = ...
9. 8.5×0.04 = ...
10. 16.3×0.09 = ...



ชื่อ-สกุล ..... ชั้น ..... เลขที่ .....

แบบฝึกทักษะ ชุดที่ 52 เรื่อง การหาผลหารจำนวนนับด้วยจำนวนนับ (ตอบในรูปทศนิยม)

10

1. 1 ÷ 4 = ...
2. 2 ÷ 5 = ...
3. 7 ÷ 2 = ...
4. 8 ÷ 5 = ...
5. 9 ÷ 5 = ...
6. 17 ÷ 2 = ...
7. 19 ÷ 2 = ...
8. 15 ÷ 4 = ...
9. 16 ÷ 5 = ...
10. 18 ÷ 8 = ...



ชื่อ-สกุล ..... ชั้น ..... เลขที่ .....

แบบฝึกทักษะ ชุดที่ 53 เรื่อง การหาผลหารจำนวนนับด้วยจำนวนนับ (ตอบในรูปทศนิยม)

10

1. 1 ÷ 2 = ...
2. 4 ÷ 8 = ...
3. 5 ÷ 4 = ...
4. 6 ÷ 4 = ...
5. 9 ÷ 5 = ...
6. 11 ÷ 2 = ...
7. 10 ÷ 4 = ...
8. 15 ÷ 6 = ...
9. 27 ÷ 5 = ...
10. 26 ÷ 8 = ...





ชื่อ-สกุล ..... ชั้น ..... เลขที่ .....

แบบฝึกทักษะ ชุดที่ 54 เรื่อง การหาผลหารจำนวนนับด้วย10 100 และ 1,000 (ตอบในรูปทศนิยม)

10

1. 1 ÷ 10 = ...
2. 2 ÷ 10 = ...
3. 16 ÷ 10 = ...
4. 29 ÷ 10 = ...
5. 57 ÷ 100 = ...
6. 94 ÷ 100 = ...
7. 231 ÷ 100 = ...
8. 245 ÷ 1,000 = ...
9. 214 ÷ 1,000 = ...
10. 6,175 ÷ 1,000 = ...





ชื่อ-สกุล ..... ชั้น ..... เลขที่ .....

แบบฝึกทักษะ ชุดที่ 55 เรื่อง การหาผลหารจำนวนนับด้วย10 100 และ 1,000 (ตอบในรูปทศนิยม)

10

1. 6 ÷ 10 = ...
2. 9 ÷ 10 = ...
3. 28 ÷ 10 = ...
4. 33 ÷ 100 = ...
5. 89 ÷ 100 = ...
6. 97 ÷ 100 = ...
7. 245 ÷ 1,000 = ...
8. 137 ÷ 1,000 = ...
9. 671 ÷ 1,000 = ...
10. 2,583 ÷ 1,000 = ...



ชื่อ-สกุล ..... ชั้น ..... เลขที่ .....

แบบฝึกทักษะ ชุดที่ 56 เรื่อง การหาผลหารจำนวนนับด้วยพหุคูณของ 10 และ 100 (ตอบในรูปทศนิยม)

10

1. 10 ÷ 20 = ...
2. 22 ÷ 20 = ...
3. 84 ÷ 40 = ...
4. 105 ÷ 50 = ...
5. 207 ÷ 90 = ...
6. 386 ÷ 200 = ...
7. 423 ÷ 300 = ...
8. 138 ÷ 600 = ...
9. 426 ÷ 600 = ...
10. 1256 ÷ 800 = ...





ชื่อ-สกุล ..... ชั้น ..... เลขที่ .....

แบบฝึกทักษะ ชุดที่ 57 เรื่อง การหาผลหารจำนวนนับด้วยพหุคูณของ 10 และ 100 (ตอบในรูปทศนิยม)

10

1. 40 ÷ 20 = ...
2. 88 ÷ 20 = ...
3. 63 ÷ 30 = ...
4. 203 ÷ 70 = ...
5. 306 ÷ 90 = ...
6. 252 ÷ 200 = ...
7. 393 ÷ 300 = ...
8. 205 ÷ 500 = ...
9. 168 ÷ 800 = ...
10. 7389 ÷ 900 = ...





ชื่อ-สกุล ..... ชั้น ..... เลขที่ .....

แบบฝึกทักษะ ชุดที่ 58 เรื่อง การหาผลหารจำนวนนับด้วยทศนิยม
(ตอบในรูปทศนิยม)

10	

1. 5 ÷ 0.5 = ...
2. 9 ÷ 0.3 = ...
3. 15 ÷ 0.5 = ...
4. 180 ÷ 0.6 = ...
5. 1.2 ÷ 0.2 = ...
6. 1.8 ÷ 0.6 = ...
7. 4.5 ÷ 0.5 = ...
8. 0.21 ÷ 0.7 = ...
9. 0.56 ÷ 0.7 = ...
10. 1.89 ÷ 0.9 = ...





ชื่อ-สกุล ..... ชั้น ..... เลขที่ .....

แบบฝึกทักษะ ชุดที่ 59 เรื่อง การหาผลหารจำนวนนับด้วยทศนิยม (ตอบในรูปทศนิยม)

10	

1. 2 ÷ 0.2 = ...
2. 8 ÷ 0.4 = ...
3. 20 ÷ 0.5 = ...
4. 150 ÷ 0.5 = ...
5. 0.8 ÷ 0.2 = ...
6. 3.2 ÷ 0.8 = ...
7. 5.6 ÷ 0.4 = ...
8. 0.04 ÷ 0.4 = ...
9. 0.32 ÷ 0.8 = ...
10. 3.87 ÷ 0.9 = ...



ชื่อ-สกุล ..... ชั้น ..... เลขที่ .....

แบบฝึกทักษะ ชุดที่ 60 เรื่อง การหาผลหารจำนวนนับด้วยทศนิยม (ตอบในรูปทศนิยม)

10	

1. 8 ÷ 0.2 = ...
2. 6 ÷ 0.3 = ...
3. 20 ÷ 0.5 = ...
4. 140 ÷ 0.7 = ...
5. 0.8 ÷ 0.2 = ...
6. 6.8 ÷ 0.4 = ...
7. 3.6 ÷ 0.6 = ...
8. 0.10 ÷ 0.5 = ...
9. 0.72 ÷ 0.8 = ...
10. 3.78 ÷ 0.9 = ...



ชื่อ-สกุล ..... ชั้น ..... เลขที่ .....

แบบฝึกทักษะ ชุดที่ 61 เรื่อง การหาผลหารทศนิยมด้วยจำนวนนับ (ตอบในรูปทศนิยม)

10	

1. 0.6 ÷ 3 = ...
2. 0.9 ÷ 3 = ...
3. 1.5 ÷ 5 = ...
4. 24.6 ÷ 6 = ...
5. 0.06 ÷ 2 = ...
6. 0.24 ÷ 6 = ...
7. 5.68 ÷ 8 = ...
8. 0.005 ÷ 5 = ...
9. 0.016 ÷ 8 = ...
10. 0.366 ÷ 6 = ...



ชื่อ-สกุล ..... ชั้น ..... เลขที่ .....

แบบฝึกทักษะ ชุดที่ 62 เรื่อง การหาผลหารทศนิยมด้วยจำนวนนับ (ตอบในรูปทศนิยม)

10

1. 0.8 ÷ 2 = ...
2. 0.5 ÷ 5 = ...
3. 1.4 ÷ 2 = ...
4. 14.7 ÷ 7 = ...
5. 0.08 ÷ 2 = ...
6. 0.18 ÷ 6 = ...
7. 3.28 ÷ 8 = ...
8. 0.008 ÷ 4 = ...
9. 0.049 ÷ 7 = ...
10. 0.189 ÷ 9 = ...





ชื่อ-สกุล ..... ชั้น ..... เลขที่ .....

แบบฝึกทักษะ ชุดที่ 63 เรื่อง การหาผลหารทศนิยมด้วยจำนวนนับ (ตอบในรูปทศนิยม)

10	

1. 0.3 ÷ 3 = ...
2. 0.4 ÷ 2 = ...
3. 3.5 ÷ 5 = ...
4. 27.9 ÷ 9 = ...
5. 0.08 ÷ 2 = ...
6. 0.25 ÷ 5 = ...
7. 1.68 ÷ 4 = ...
8. 0.007 ÷ 7 = ...
9. 0.015 ÷ 5 = ...
10. 0.217 ÷ 7 = ...



ชื่อ-สกุล ..... ชั้น ..... เลขที่ .....

แบบฝึกทักษะ ชุดที่ 64 เรื่อง การหาผลหารทศนิยมด้วยทศนิยม

10

1. 0.09 ÷ 0.03 = ...
2. 0.18 ÷ 0.03 = ...
3. 0.25 ÷ 0.05 = ...
4. 0.36 ÷ 0.03 = ...
5. 0.56 ÷ 0.04 = ...
6. 3.66 ÷ 0.06 = ...
7. 4.84 ÷ 0.04 = ...
8. 32.08 ÷ 0.08 = ...
9. 36.45 ÷ 0.09 = ...
10. 45.28 ÷ 0.04 = ...



ชื่อ-สกุล ..... ชั้น ..... เลขที่ .....

แบบฝึกทักษะชุดที่ 65 เรื่อง การหาผลหารทศนิยมด้วยทศนิยม

	10

1. 0.01 ÷ 0.01 = ...
2. 0.35 ÷ 0.05 = ...
3. 0.48 ÷ 0.04 = ...
4. 0.56 ÷ 0.07 = ...
5. 0.65 ÷ 0.05 = ...
6. 1.26 ÷ 0.06 = ...
7. 6.22 ÷ 0.02 = ...
8. 24.36 ÷ 0.06 = ...
9. 63.14 ÷ 0.07 = ...
10. 82.48 ÷ 0.08 = ...





ชื่อ-สกุล ..... ชั้น ..... เลขที่ .....

แบบฝึกทักษะ ชุดที่ 66 เรื่อง การหาผลหารทศนิยมด้วยทศนิยม

10

1. 0.06 ÷ 0.05 = ...
2. 0.24 ÷ 0.06 = ...
3. 0.69 ÷ 0.03 = ...
4. 0.72 ÷ 0.08 = ...
5. 0.96 ÷ 0.08 = ...
6. 3.36 ÷ 0.03 = ...
7. 4.97 ÷ 0.07 = ...
8. 15.35 ÷ 0.05 = ...
9. 36.42 ÷ 0.03 = ...
10. 54.63 ÷ 0.09 = ...





ชื่อ-สกุล ..... ชั้น ..... เลขที่ .....

แบบฝึกทักษะ ชุดที่ 67 เรื่อง โจทย์ปัญหาการบวก ลบ คูณ หารทศนิยม

10

จงตอบคำถามจากสถานการณ์ที่กำหนดให้

รักชาติมีเงินฝากธนาคารอยู่ 5,324.25 บาท ถูกหักเงินในบัญชีเป็นค่าโทรศัพท์ 219.50 บาท หักเป็นค่าไฟฟ้า 285.19 บาท ได้ดอกเบี้ยจากเงินฝาก 472.48 บาท ขณะนี้รักชาติเหลือเงินในบัญชีเท่าไร

- **โจทย์กำหนดอะไรให้บ้าง**

.....

.....

.....

.....

- **โจทย์ถามอะไร**

.....

- **เขียนประโยคสัญลักษณ์**

.....

- **คำตอบ**

.....

มะปรางซื้อนมสด 18 ขวด ราคาขวดละ 11.75 บาท จ่ายเงินไป 500 บาท จะได้รับเงินทอนเท่าไร

- **โจทย์กำหนดอะไรให้บ้าง**

.....

.....

.....

- **โจทย์ถามอะไร**

.....

- **เขียนประโยคสัญลักษณ์**

.....

- **หาคำตอบได้อย่างไร**

.....

- **คำตอบ**

.....



ชื่อ-สกุล ..... ชั้น ..... เลขที่ .....

แบบฝึกทักษะ ชุดที่ 68 เรื่อง โจทย์ปัญหาการบวก ลบ คูณ หารทศนิยม

10

จงตอบคำถามตามเงื่อนไข

ยาสระผม 1 ขวด ราคา	95	บาท
แปรงสีฟัน ครึ่งโหล ราคา	94.50	บาท
ยาสีฟัน ราคาหลอดละ	29.75	บาท

1. สิ่งใดต่อหน่วยแพงที่สุด .....
2. สิ่งใดต่อหน่วยถูกที่สุด .....
3. ซื้อยาสีฟัน 3 หลอด ต้องจ่ายเงิน .....บาท
4. ซื้อยาสระผม 15 ม้วน ต้องจ่ายเงิน .....บาท
5. ซื้อของทุกอย่าง อย่างละ 1 ชิ้น ต้องจ่ายเงิน .....บาท
6. ผงซักฟอกแพงกว่ายาสีฟันหน่วยละ .....บาท

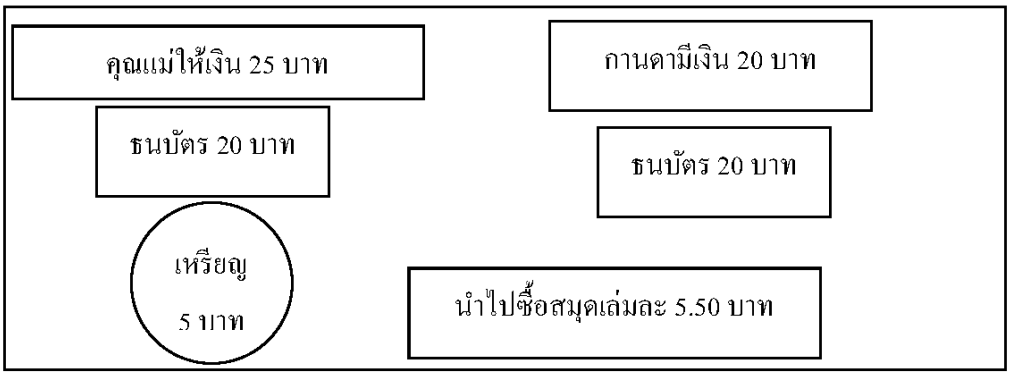

จากแผนภาพ

- กานดามีเงินทั้งหมดเท่าไร .....
- เดิมกานดามีเงินเท่าไร .....
- สมุด 1 เล่ม ราคาเท่าไร .....
- สมุด 3 เล่ม ราคาเท่าไร .....
- กานดาซื้อสมุด 6 เล่ม จ่ายเงินไป บาท ได้รับเงินทอนกี่บาท.....
- เงินที่กานดามี จะซื้อสมุดได้กี่เล่ม .....



ชื่อ-สกุล ..... ชั้น ..... เลขที่ .....

แบบฝึกทักษะ ชุดที่ 69 เรื่อง โจทย์ปัญหาการบวก ลบ คูณ หารทศนิยม

10	

ให้นักเรียนวิเคราะห์ แสดงวิธีทำ และหาคำตอบโจทย์ปัญหาต่อไปนี้

1) คุณครูซื้อดินสอ 45 แท่ง ราคาแท่งละ 4.25 บาท คุณครูต้องจ่ายเงินทั้งหมดกี่บาท

- โจทย์กำหนดอะไรให้บ้าง

.....

.....

.....

- โจทย์ถามอะไร

.....

- เขียนประโยคสัญลักษณ์

.....

- หาคำตอบได้อย่างไร

.....

- คำตอบ

.....

2) ริบบิ้นเส้นหนึ่งยาว 7.5 เมตร ต้องการใช้ริบบิ้น 60 เมตร จะต้องซื้อริบบิ้นกี่ม้วน

- โจทย์กำหนดอะไรให้บ้าง

.....

.....

.....

- โจทย์ถามอะไร

.....

- เขียนประโยคสัญลักษณ์

.....

- หาคำตอบได้อย่างไร

.....

- คำตอบ

.....



ชื่อ-สกุล ..... ชั้น ..... เลขที่ .....

แบบฝึกทักษะ ชุดที่ 70 เรื่อง โจทย์ปัญหาการบวก ลบ คูณ หารทศนิยม

10

ให้นักเรียนวิเคราะห์ แสดงวิธีทำ และหาคำตอบโจทย์ปัญหาต่อไปนี้

1) น้อยซื้อนมข้นหวาน 4 กระป๋อง ราคากระป๋องละ 22.50บาท จ่ายเงินไป 500บาท จะได้เงินทอนกี่บาท

- โจทย์กำหนดอะไรให้บ้าง

.....

.....

.....

- โจทย์ถามอะไร

.....

- เขียนประโยคสัญลักษณ์

.....

- หาคำตอบได้อย่างไร

.....

- คำตอบ

.....



2) ป้ามีถั่วเขียวอยู่ 55.50 กิโลกรัม นำไปแบ่งใส่ถุง ถุงละ 500 กรัม จากนั้นนำไปขายถุงละ 12.25 บาท ป้าจะได้เงินทั้งหมดกี่บาท

- โจทย์กำหนดอะไรให้บ้าง

.....

.....

.....

- โจทย์ถามอะไร

.....

- เขียนประโยคสัญลักษณ์

.....

- หาคำตอบได้อย่างไร

.....

- คำตอบ

.....





ชื่อ-สกุล ..... ชั้น ..... เลขที่ .....

10

ชุดที่ 71

แบบฝึกเสริมทักษะคณิตศาสตร์ ชั้นประถมศึกษาปีที่ 6

เรื่อง การบวก การลบ การคูณ การหารเศษส่วนและจำนวนคละ

.....

คำชี้แจง ให้นักเรียนเติมคำตอบให้ถูกต้อง

1) $\frac{2}{3} \div \frac{1}{3} =$ .....

2) $\frac{2}{4} \div \frac{1}{4} =$ .....

.3) $\frac{1}{5} \div \frac{3}{5} =$ .....

4) $\frac{1}{2} \div \frac{3}{2} =$ .....

5) $\frac{2}{6} \div \frac{3}{6} =$ .....

6) $\frac{3}{7} \div \frac{2}{7} =$ .....

7) $\frac{1}{8} \div \frac{4}{8} =$ .....

8) $\frac{3}{9} \div \frac{1}{9} =$ .....

9) $\frac{2}{16} \div \frac{8}{16} =$ .....

10) ริบบิ้นยาว 5 เมตร ตัดแบ่งให้ยาวเส้นละ $\frac{1}{3}$ เมตร จะตัดริบบิ้นได้กี่เส้น

ตอบ .....



ชื่อ-สกุล ..... ชั้น ..... เลขที่ .....

10

ชุดที่ 72

แบบฝึกเสริมทักษะคณิตศาสตร์ ชั้นประถมศึกษาปีที่ 6

เรื่อง การบวก การลบ การคูณ การหารเศษส่วนและจำนวนคละ

.....

คำชี้แจง ให้นักเรียนเติมคำตอบให้ถูกต้อง

1) $\frac{5}{6} \div \frac{3}{6} =$ .....

2) $\frac{1}{4} \div \frac{2}{8} =$ .....

3) $\frac{4}{5} \div \frac{1}{10} =$ .....

4) $\frac{2}{16} \div \frac{2}{8} =$ .....

5) $\frac{4}{5} \div \frac{8}{10} =$ .....

6) $\frac{3}{6} \div \frac{9}{6} =$ .....

7) $\frac{3}{15} \div \frac{18}{5} =$ .....

8) $\frac{3}{4} \div \frac{4}{12} =$ .....

9) $\frac{5}{3} \div \frac{1}{15} =$ .....

10) มีส้ม 30 กิโลกรัม จัดใส่ถุง ถุงละ $\frac{2}{5}$ กิโลกรัม จะจัดได้กี่ถุง

ตอบ .....



ชื่อ-สกุล ..... ชั้น ..... เลขที่ .....

ชุดที่ 73

10

แบบฝึกเสริมทักษะคณิตศาสตร์ ชั้นประถมศึกษาปีที่ 6

เรื่อง การบวก การลบ การคูณ การหารเศษส่วนและจำนวนคละ

.....

คำชี้แจง ให้นักเรียนเติมคำตอบให้ถูกต้อง

1) $\frac{3}{4} \div 1\frac{1}{4} =$ .....

2) $\frac{4}{3} \div 2\frac{1}{3} =$ .....

3) $\frac{10}{8} \div 1\frac{3}{8} =$ .....

4) $\frac{4}{10} \div 2\frac{1}{10} =$ .....

5) $2\frac{2}{6} \div \frac{5}{6} =$ .....

6) $1\frac{3}{7} \div \frac{8}{7} =$ .....

7) $\frac{15}{5} \div 2\frac{4}{5} =$ .....

8) $2\frac{3}{11} \div \frac{5}{11} =$ .....

9) $\frac{6}{7} \div 2\frac{1}{7} =$ .....

10) ลุงมีที่นา $20\frac{1}{2}$ ไร่ แบ่งไปทำนา 4 ไร่ นอกนั้นแบ่งขายเป็นแปลง แปลงละ $2\frac{3}{4}$ ไร่ จะ แบ่งขายได้กี่แปลง

ตอบ .....





ชื่อ-สกุล ..... ชั้น ..... เลขที่ .....

10

ชุดที่ 74

แบบฝึกเสริมทักษะคณิตศาสตร์ ชั้นประถมศึกษาปีที่ 6

เรื่อง การบวก การลบ การคูณ การหารเศษส่วนและจำนวนคละ

.....

คำชี้แจง ให้นักเรียนเติมคำตอบให้ถูกต้อง

1) $\frac{3}{4} \div \frac{8}{12} =$ .....

2) $\frac{2}{10} \div \frac{4}{5} =$ .....

3) $\frac{3}{4} \div \frac{4}{6} =$ .....

4) $\frac{3}{4} \div \frac{2}{16} =$ .....

5) $\frac{4}{10} \div \frac{8}{15} =$ .....

6) $\frac{4}{6} \div \frac{2}{3} =$ .....

7) $\frac{7}{15} \div \frac{3}{5} =$ .....

8) $\frac{3}{12} \div \frac{3}{6} =$ .....

9) $\frac{3}{24} \div \frac{7}{6} =$ .....

10) น้อยหน่ามีริบบิ้นยาว $5\frac{3}{12}$ เมตร ตัดทำโบว์ผูกผม 9 เส้น จะได้โบว์ยาวเส้นละเท่าใด

ตอบ .....



ชื่อ-สกุล ..... ชั้น ..... เลขที่ .....

10

ชุดที่ 75

แบบฝึกเสริมทักษะคณิตศาสตร์ ชั้นประถมศึกษาปีที่ 6

เรื่อง การบวก การลบ การคูณ การหารเศษส่วนและจำนวนคละ

.....

คำชี้แจง ให้นักเรียนเติมคำตอบให้ถูกต้อง

1) $1\frac{3}{4} \div \frac{4}{8} =$ .....

2) $\frac{13}{10} \div 2\frac{3}{5} =$ .....

3) $3\frac{1}{3} \div \frac{3}{6} =$ .....

4) $1\frac{1}{4} \div \frac{20}{24} =$ .....

5) $\frac{8}{15} \div 1\frac{3}{5} =$ .....

6) $\frac{9}{6} \div 2\frac{2}{3} =$ .....

7) $\frac{22}{25} \div 2\frac{1}{5} =$ .....

8) $1\frac{3}{12} \div \frac{15}{12} =$ .....

9) $1\frac{6}{24} \div 1\frac{4}{6} =$ .....

10) ข้าวเหนียว 18 กิโลกรัม แบ่งใส่ถุง ถุงละ $\frac{3}{4}$ กิโลกรัม จะแบ่งข้าวเหนียวได้กี่ถุง

ตอบ .....



ชื่อ-สกุล ..... ชั้น ..... เลขที่ .....

10

ชุดที่ 76

แบบฝึกเสริมทักษะคณิตศาสตร์ ชั้นประถมศึกษาปีที่ 6

เรื่อง การบวก การลบ การคูณ การหารเศษส่วนและจำนวนคละ

.....

คำชี้แจง ให้นักเรียนเติมคำตอบให้ถูกต้อง

1) $\frac{4}{8} \div \frac{4}{8} =$ .....

2) $\frac{7}{9} \div \frac{4}{9} =$ .....

3) $\frac{2}{10} \div \frac{7}{10} =$ .....

4) $\frac{4}{9} \div \frac{3}{18} =$ .....

5) $\frac{5}{9} \div \frac{3}{6} =$ .....

6) $\frac{4}{8} \div \frac{8}{32} =$ .....

7) $\frac{3}{15} \div \frac{9}{15} =$ .....

8) $\frac{3}{24} \div \frac{4}{12} =$ .....

9) $\frac{6}{28} \div \frac{2}{14} =$ .....

10) น้อยหน่ามีริบบิ้นยาว $5\frac{3}{12}$ เมตร ตัดทำโบว์ผูกผม 7 เส้น จะได้โบว์ยาวเส้นละเท่าใด

ตอบ .....



ชื่อ-สกุล ..... ชั้น ..... เลขที่ .....

10

ชุดที่ 77

แบบฝึกเสริมทักษะคณิตศาสตร์ ชั้นประถมศึกษาปีที่ 6

เรื่อง การบวก การลบ การคูณ การหารเศษส่วนและจำนวนคละ

.....

คำชี้แจง ให้นักเรียนเติมคำตอบให้ถูกต้อง

1) $\frac{24}{30} \div \frac{24}{30} =$ .....

2) $\frac{2}{7} \div \frac{9}{49} =$ .....

3) $\frac{28}{40} \div \frac{7}{5} =$ .....

4) $\frac{9}{32} \div \frac{3}{16} =$ .....

5) $\frac{5}{9} \div \frac{45}{81} =$ .....

6) $\frac{4}{12} \div \frac{24}{36} =$ .....

7) $\frac{3}{15} \div \frac{12}{15} =$ .....

8) $\frac{3}{12} \div \frac{4}{6} =$ .....

9) $\frac{1}{63} \div \frac{7}{9} =$ .....

10) ที่ดินรูปสี่เหลี่ยมผืนผ้าแปลงหนึ่ง มีพื้นที่ 400 ตารางเมตร มีความกว้างเป็น $8\frac{2}{6}$ เมตร ที่แปลงนี้มีด้านยาวเท่าใด

ตอบ .....



ชื่อ-สกุล ..... ชั้น ..... เลขที่ .....



10

ชุดที่ 78

แบบฝึกเสริมทักษะคณิตศาสตร์ ชั้นประถมศึกษาปีที่ 6

เรื่อง การบวก การลบ การคูณ การหารเศษส่วนและจำนวนคละ

.....

คำชี้แจง ให้นักเรียนเติมคำตอบให้ถูกต้อง

1) $\frac{2}{8} \div 1\frac{2}{8} =$ .....

2) $\frac{7}{9} \div 1\frac{5}{9} =$ .....

3) $2\frac{1}{10} \div \frac{7}{10} =$ .....

4) $1\frac{5}{16} \div \frac{7}{16} =$ .....

5) $\frac{3}{9} \div 2\frac{2}{9} =$ .....

6) $\frac{8}{16} \div 3\frac{2}{8} =$ .....

7) $1\frac{3}{15} \div \frac{5}{15} =$ .....

8) $\frac{3}{4} \div 1\frac{3}{12} =$ .....

9) $1\frac{3}{7} \div 1\frac{1}{14} =$ .....

10) ถังน้ำ ใบหนึ่งมีน้ำ อยู่ $6\frac{2}{3}$ ลิตร ถังรั่วน้ำ ไหลออกวันละ $\frac{5}{6}$ ลิตร นานกี่ วันน้ำ จึงจะหมดถัง

ตอบ .....



ชื่อ-สกุล ..... ชั้น ..... เลขที่ .....

10

ชุดที่ 79

แบบฝึกเสริมทักษะคณิตศาสตร์ ชั้นประถมศึกษาปีที่ 6

เรื่อง การบวก การลบ การคูณ การหารเศษส่วนและจำนวนคละ

.....

คำชี้แจง ให้นักเรียนเติมคำตอบให้ถูกต้อง

1) $\frac{6}{8} \div \frac{3}{16} =$ .....

2) $\frac{3}{25} \div \frac{2}{5} =$ .....

3) $\frac{5}{14} \div \frac{3}{7} =$ .....

4) $\frac{5}{8} \div \frac{4}{16} =$ .....

5) $\frac{5}{9} \div \frac{5}{27} =$ .....

6) $\frac{4}{12} \div \frac{6}{24} =$ .....

7) $\frac{3}{15} \div \frac{5}{30} =$ .....

8) $\frac{3}{12} \div \frac{12}{36} =$ .....

9) $\frac{14}{18} \div \frac{7}{36} =$ .....

10) มีที่ดินอยู่ $10\frac{4}{5}$ ไร่ แบ่งพื้นที่ปลูกส้ม ปลูกยางพารา และปลูกมะม่วง อย่างละเท่ากัน จะมี พื้นที่ปลูกพืชอย่างละกี่ไร่

ตอบ .....



ชื่อ-สกุล ..... ชั้น ..... เลขที่ .....

10

ชุดที่ 80

แบบฝึกเสริมทักษะคณิตศาสตร์ ชั้นประถมศึกษาปีที่ 6

เรื่อง การบวก การลบ การคูณ การหารเศษส่วนและจำนวนคละ

.....

คำชี้แจง ให้นักเรียนเติมคำตอบให้ถูกต้อง

1) $\frac{19}{16} \div 1\frac{3}{16} =$ .....

2) $1\frac{7}{10} \div \frac{17}{10} =$ .....

3) $2\frac{1}{10} \div \frac{7}{20} =$ .....

4) $1\frac{4}{8} \div \frac{3}{4} =$ .....

5) $1\frac{5}{9} \div \frac{14}{18} =$ .....

6) $1\frac{4}{12} \div \frac{4}{6} =$ .....

7) $2\frac{3}{15} \div \frac{11}{15} =$ .....

8) $3\frac{3}{4} \div \frac{15}{16} =$ .....

9) $2\frac{2}{14} \div 1\frac{1}{14} =$ .....

10) รถยนต์เติมน้ำมันจำนวน 72 ลิตร โดยเจ้าของรถขับไปทำงานสิ้นเปลืองน้ำมันวันละ $4\frac{1}{2}$ ลิตร เขาสามารถขับรถได้มากที่สุดกี่วัน

ตอบ .....



ชื่อ-สกุล ..... ชั้น ..... เลขที่ .....

10

ชุดที่ 81

แบบฝึกเสริมทักษะคณิตศาสตร์ ชั้นประถมศึกษาปีที่ 6

เรื่อง การบวก การลบ การคูณ การหารเศษส่วนและจำนวนคละ

.....

คำชี้แจง ให้นักเรียนเติมคำตอบให้ถูกต้อง

1) $\frac{3}{8} \div \frac{3}{4}$ = ...

2) $\frac{2}{15} \div \frac{7}{30}$ = ...

3) $\frac{20}{30} \div \frac{10}{3}$ = ...

4) $\frac{14}{16} \div \frac{2}{4}$ = ...

5) $\frac{9}{21} \div \frac{1}{7}$ = ...

6) $\frac{8}{9} \div \frac{2}{3}$ = ...

7) $\frac{3}{6} \div \frac{9}{18}$ = ...

8) $\frac{8}{11} \div \frac{2}{121}$ = ...

9) $\frac{7}{12} \div \frac{7}{24}$ = ...

10) มีที่ดินอยู่ $4\frac{4}{5}$ ไร่ แบ่งพื้นที่ปลูกส้ม ปลูกยางพารา และปลูกมะม่วง อย่างละเท่ากัน จะมี พื้นที่ปลูกพืชอย่างละกี่ไร่

ตอบ .....





ชื่อ-สกุล ..... ชั้น ..... เลขที่ .....

10

ชุดที่ 82

แบบฝึกเสริมทักษะคณิตศาสตร์ ชั้นประถมศึกษาปีที่ 6

เรื่อง การบวก การลบ การคูณ การหารเศษส่วนและจำนวนคละ

.....

คำชี้แจง ให้นักเรียนเติมคำตอบให้ถูกต้อง

1) $\frac{5}{6} \div \frac{2}{18} =$ .....

2) $\frac{3}{4} \div \frac{2}{12} =$ .....

3) $\frac{15}{20} \div \frac{5}{30} =$ .....

4) $\frac{3}{4} \div \frac{5}{8} =$ .....

5) $\frac{14}{15} \div \frac{7}{10} =$ .....

6) $\frac{21}{24} \div \frac{4}{6} =$ .....

7) $\frac{9}{5} \div \frac{3}{12} =$ .....

8) $\frac{11}{4} \div \frac{22}{15} =$ .....

9) $\frac{6}{7} \div \frac{3}{14} =$ .....

10) รถยนต์เติมน้ำมันจำนวน 45 ลิตร โดยเจ้าของรถขับไปทำงานสิ้นเปลืองน้ำมันวันละ $4\frac{1}{2}$ ลิตร เขาสามารถขับรถได้มากที่สุดกี่วัน

ตอบ .....





ชื่อ-สกุล ..... ชั้น ..... เลขที่ .....

10

ชุดที่ 83

แบบฝึกเสริมทักษะคณิตศาสตร์ ชั้นประถมศึกษาปีที่ 6

เรื่อง การบวก การลบ การคูณ การหารเศษส่วนและจำนวนคละ

.....

คำชี้แจง ให้นักเรียนเติมคำตอบให้ถูกต้อง

1) $1\frac{1}{3} \div \frac{4}{3} =$ .....

2) $3\frac{1}{4} \div \frac{13}{8} =$ .....

3) $2\frac{1}{5} \div \frac{11}{5} =$ .....

4) $4\frac{1}{2} \div \frac{9}{4} =$ .....

5) $2\frac{2}{5} \div \frac{24}{5} =$ .....

6) $1\frac{3}{4} \div \frac{14}{2} =$ .....

7) $3\frac{1}{5} \div \frac{8}{10} =$ .....

8) $2\frac{3}{4} \div \frac{22}{8} =$ .....

9) $4\frac{1}{3} \div 2\frac{1}{6} =$ .....

10) มีน้ำอยู่ในถัง 500 ลิตร ก้นถังมีรูรั่ว น้ำไหลออกจากถังนาทีละ $\frac{2}{3}$ ลิตร ถ้าไม่อุดรูรั่ว น้ำไหลหมดถังในกี่นาที

ตอบ .....





ชื่อ-สกุล ..... ชั้น ..... เลขที่ .....

10

ชุดที่ 84

แบบฝึกเสริมทักษะคณิตศาสตร์ ชั้นประถมศึกษาปีที่ 6

เรื่อง การบวก การลบ การคูณ การหารเศษส่วนและจำนวนคละ

.....

คำชี้แจง ให้นักเรียนเติมคำตอบให้ถูกต้อง

1) $\frac{3}{4} \div \frac{5}{12} =$ .....

2) $\frac{6}{10} \div \frac{3}{5} =$ .....

3) $\frac{2}{3} \div \frac{4}{6} =$ .....

4) $\frac{2}{4} \div \frac{2}{16} =$ .....

5) $\frac{3}{10} \div \frac{2}{5} =$ .....

6) $\frac{4}{6} \div \frac{5}{12} =$ .....

7) $\frac{9}{15} \div \frac{30}{45} =$ .....

8) $\frac{11}{12} \div \frac{3}{8} =$ .....

9) $\frac{20}{30} \div \frac{12}{10} =$ .....

10) ทำน้ำหมักชีวภาพไว้ 120 ลิตร นำมาบรรจุขวด ขวดละ $\frac{3}{4}$ ลิตร จะบรรจุได้กี่ขวด

ตอบ .....





ชื่อ-สกุล ..... ชั้น ..... เลขที่ .....

ชุดที่ 85

10

แบบฝึกเสริมทักษะคณิตศาสตร์ ชั้นประถมศึกษาปีที่ 6

เรื่อง การบวก การลบ การคูณ การหารเศษส่วนและจำนวนคละ

.....

คำชี้แจง ให้นักเรียนเติมคำตอบให้ถูกต้อง

1) $1\frac{1}{4} \div \frac{5}{4} =$ .....

2) $1\frac{2}{10} \div \frac{12}{10} =$ .....

3) $3\frac{1}{3} \div \frac{10}{9} =$ .....

4) $1\frac{2}{4} \div \frac{3}{5} =$ .....

5) $2\frac{1}{10} \div \frac{7}{11} =$ .....

6) $2\frac{3}{6} \div \frac{5}{3} =$ .....

7) $1\frac{1}{15} \div \frac{8}{5} =$ .....

8) $1\frac{3}{12} \div \frac{3}{4} =$ .....

9) $2\frac{1}{10} \div 1\frac{4}{5} =$ .....

10) มีน้ำอยู่ในถัง 44 ลิตร ก้นถังมีรูรั่ว น้ำไหลออกจากถังนาทีละ $\frac{2}{3}$ ลิตร ถ้าไม่อุดรูรั่ว น้ำไหลหมดถังในกี่นาที

ตอบ .....





ชื่อ-สกุล ..... ชั้น ..... เลขที่ .....

8

ชุดที่ 86

คำชี้แจง จงหา ตัวหารร่วมมาก(ห.ร.ม.) ของจำนวนต่อไปนี้

1.)) 30 60

ตอบ _____

2.)) 42 77

ตอบ _____

3.)) 27 45

ตอบ _____

4.)) 55 75

ตอบ _____

5.)) 24 40 60

ตอบ _____

6.)) 16 24 40

ตอบ _____

7.)) 14 42 56

ตอบ _____

8.)) 32 40 64

ตอบ _____



ชื่อ-สกุล ..... ชั้น ..... เลขที่ .....

8

ชุดที่ 87

คำชี้แจง จงหา ตัวหารร่วมมาก(ห.ร.ม.) ของจำนวนต่อไปนี้

1.)) 65 45

ตอบ _____

2.)) 68 34

ตอบ _____

3.)) 99 33

ตอบ _____

4.)) 81 60

ตอบ _____

5.)) 12 24 72

ตอบ _____

6.)) 90 60 18

ตอบ _____

7.)) 63 18 54

ตอบ _____

8.)) 72 81 27

ตอบ _____



ชื่อ-สกุล ..... ชั้น ..... เลขที่ .....

8

ชุดที่ 88

คำชี้แจง จงหา ตัวคูณร่วมน้อย(ค.ร.น.) ของจำนวนต่อไปนี้

1.)) 11 66

ตอบ _____

2.)) 27 90

ตอบ _____

3.)) 39 51

ตอบ _____

4.)) 70 90

ตอบ _____

5.)) 24 36 40

ตอบ _____

6.)) 27 81 99

ตอบ _____

7.)) 84 14 7

ตอบ _____

8.)) 36 30 90

ตอบ _____





ชื่อ-สกุล ..... ชั้น ..... เลขที่ .....

8

ชุดที่ 89

คำชี้แจง จงหา ตัวคูณร่วมน้อย(ค.ร.น.) ของจำนวนต่อไปนี้

1.)) 30 27 48

ตอบ _____

2.)) 45 65 10

ตอบ _____

3.)) 45 57 12

ตอบ _____

4.)) 25 80 90

ตอบ _____

5.)) 72 20 12

ตอบ _____

6.)) 95 45 50

ตอบ _____

7.)) 25 70 5

ตอบ _____

8.)) 30 15 85

ตอบ _____



ชื่อ-สกุล ..... ชั้น ..... เลขที่ .....

8

ชุดที่90

คำชี้แจง จงหา ตัวคูณร่วมน้อย(ค.ร.น.) ของจำนวนต่อไปนี้

1.) 40 60 80

ตอบ _____

2.) 55 5 50

ตอบ _____

3.) 30 12 24

ตอบ _____

4.) 28 14 84

ตอบ _____

5.) 10 22 24

ตอบ _____

6.) 40 56 80

ตอบ _____

7.) 30 72 16

ตอบ _____

8.) 45 9 18 72

ตอบ _____





ชื่อ-สกุล ..... ชั้น ..... เลขที่ .....

10

ชุดที่ 91

จงหาจำนวนที่ไม่ทราบค่า

1. $A \div 4 = 4$, A =.....
2. $B \times 3 = 6$, B =.....
3. $\frac{C}{4} = 5$, C =.....
4. $5D = 15$, D =.....
5. $\frac{E}{6} = 5$, E =.....
6. $7F = 42$, F =.....
7. $\frac{G}{8} = 4$, G =.....
8. $9ฮ = 9$, ฮ =.....
9. $ฬ \div 9 = 2$, ฬ =.....
10. $7ฒ = 21$, ฒ =.....

ชื่อ-สกุล ..... ชั้น ..... เลขที่ .....

ชุดที่ 92

15

จงแสดงวิธีทำหาคำตอบของสมการที่กำหนดให้

1. 7A + 1 = 15

.....

.....

.....

.....

.....

.....

.....

ตอบ. A มีค่า =.....

2. (B + 5) – 6 = 10

.....

.....

.....

.....

.....

.....

.....

ตอบ. B มีค่า =.....

3. (C - 8) - 4 = 10

.....

.....

.....

.....

.....

.....

.....

ตอบ. C มีค่า =.....



ชื่อ-สกุล ..... ชั้น ..... เลขที่ .....

15

ชุดที่ 93

แสดงวิธีทำหาคำตอบของสมการที่กำหนดให้

1. 8A + 2 = 26

.....

.....

.....

.....

.....

.....

.....

ตอบ. A มีค่า =.....

2. $\frac{B}{3}$ - 4 = 2

.....

.....

.....

.....

.....

.....

.....

ตอบ. B มีค่า =.....

3. 6C + 4 = 10

.....

.....

.....

.....

.....

.....

ตอบ. C มีค่า =.....



ชื่อ-สกุล ..... ชั้น ..... เลขที่ .....

10

ชุดที่ 94

จงเขียนสมการและหาคำตอบ

1. ป้าพรซื้อเงาะมาขาย ง กิโลกรัม ขายไป 212 กิโลกรัม เหลือเงาะ 88 กิโลกรัม ป้าพรซื้อเงาะมาทั้งหมดกี่กิโลกรัม ?

   สมการ.....

   วิธีทำ

   .....

   .....

   .....

   .....

   .....

   .....

   .....

   .....

   ตอบ.....

2. เวียร์มีเงิน B บาท จ่ายค่าขนมไป 15บาท ทำให้เขาเหลือเงิน 35 บาท เดิมเวียร์มีเงินกี่บาท ?

   สมการ.....

   วิธีทำ

   .....

   .....

   .....

   .....

   .....

   .....

   .....

   .....

   ตอบ.....



ชื่อ-สกุล ..... ชั้น ..... เลขที่ .....

10

ชุดที่ 95

จงเขียนสมการและหาคำตอบ

1. มีเก้าอี้ทั้งหมด N ตัวจัดเป็นแถวแถวละ 15 ตัว ได้ทั้งหมด 9 แถว มีเก้าอี้ทั้งหมดกี่ตัว?

   สมการ.....

   วิธีทำ

   .....
   .....
   .....
   .....
   .....
   .....
   .....
   .....
   ตอบ.....

2. หนูแดงซื้อปากกาทั้งหมด ก ด้าม ในราคาด้ามละ 5 บาท เขาจ่ายเงินค่าปากกาไปทั้งหมด 120 บาท หนูแดงซื้อปากกาทั้งหมดกี่ด้าม?

   สมการ.....

   วิธีทำ

   .....
   .....
   .....
   .....
   .....
   .....
   .....
   .....
   ตอบ.....



ชื่อ-สกุล ..... ชั้น ..... เลขที่ .....

12

ชุดที่ 96

คำสั่ง จงหาพื้นที่ของรูปสี่เหลี่ยมขนมเปียกปูนและสี่เหลี่ยมด้านขนาน ต่อไปนี้

1.

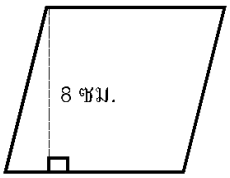

วิธีคิด.....

.....

.....

ตอบ.....

2.

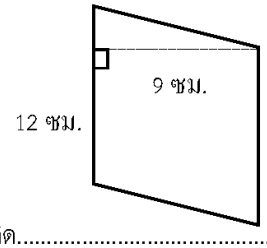

วิธีคิด.....

.....

.....

ตอบ.....

3.

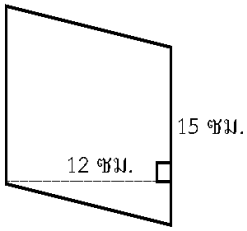

วิธีคิด.....

.....

.....

ตอบ.....

4.

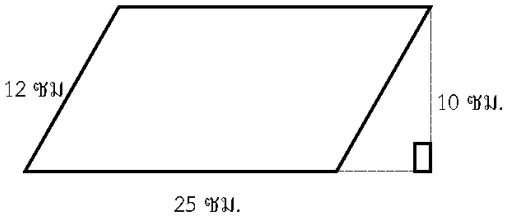

วิธีคิด.....

.....

.....

ตอบ.....

5.

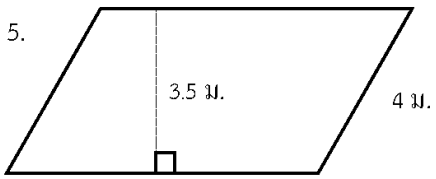

วิธีคิด.....

.....

.....

ตอบ.....

6.

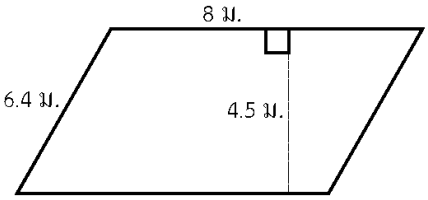

วิธีคิด.....

.....

.....

ตอบ.....

ชื่อ-สกุล ..... ชั้น ..... เลขที่ .....

12

ชุดที่ 97

คำสั่ง จงหาพื้นที่ของรูปสี่เหลี่ยมคางหมู ต่อไปนี้

1.

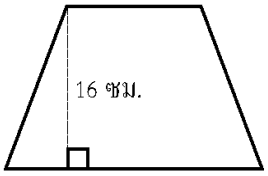

วิธีคิด.....

.....

.....

ตอบ.....

2.

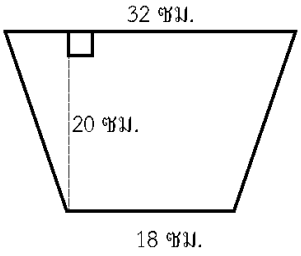

วิธีคิด.....

.....

.....

ตอบ.....

3.

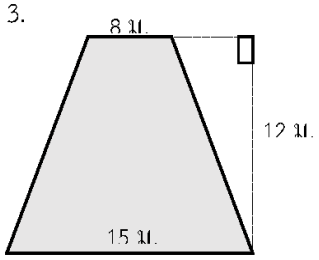

วิธีคิด.....

.....

.....

ตอบ.....

4.

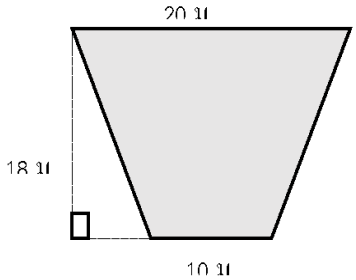

วิธีคิด.....

.....

.....

ตอบ.....

5.

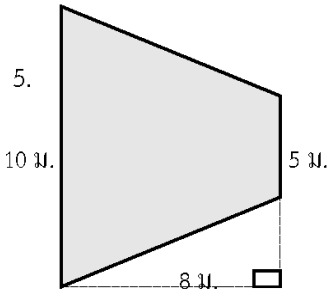

วิธีคิด.....

.....

.....

ตอบ.....

6.

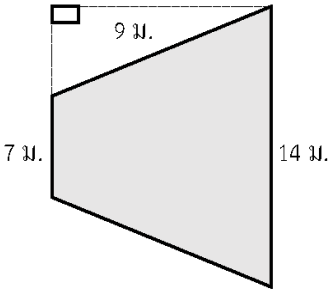

วิธีคิด.....

.....

.....

ตอบ.....

ชื่อ-สกุล ..... ชั้น ..... เลขที่ .....

8

ชุดที่ 98

คำสั่ง จงหาพื้นที่ของรูปวงกลม ต่อไปนี้

1.

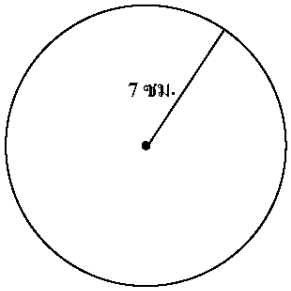

วิธีคิด.....

.....

.....

.....

ตอบ.....

2.

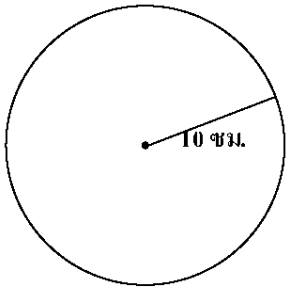

วิธีคิด.....

.....

.....

.....

ตอบ.....

3.

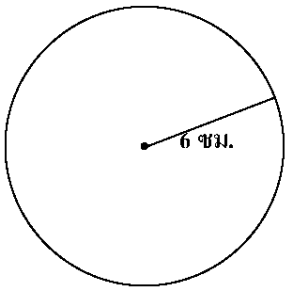

วิธีคิด.....

.....

.....

.....

ตอบ.....

4

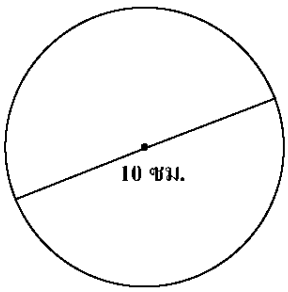

วิธีคิด.....

.....

.....

.....

ตอบ.....

ชื่อ-สกุล ..... ชั้น ..... เลขที่ .....

8

ชุดที่ 99

คำสั่ง จงหาปริมาตรของรูปทรงสี่เหลี่ยมมุมฉาก ต่อไปนี้

1.

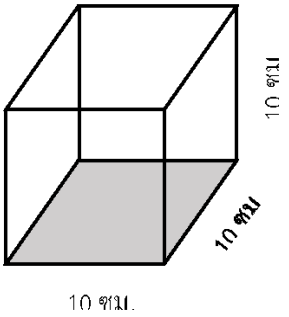

วิธีคิด.....

.....

.....

.....

ตอบ.....

2.

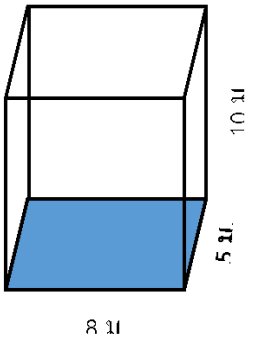

วิธีคิด.....

.....

.....

.....

ตอบ.....

3.

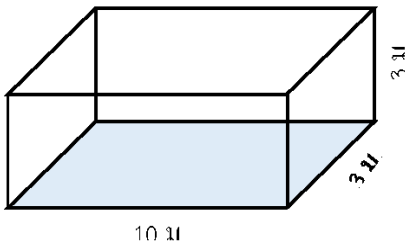

วิธีคิด.....

.....

.....

.....

ตอบ.....

4.

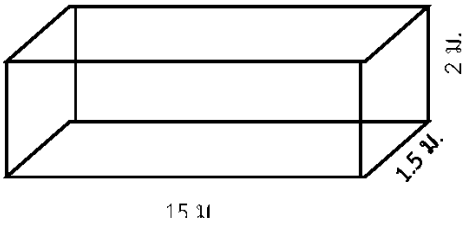

วิธีคิด.....

.....

.....

.....

ตอบ.....



ชื่อ-สกุล ..... ชั้น ..... เลขที่ .....

15

ชุดที่ 100

คำสั่ง ให้นักเรียนแสดงวิธีการแก้โจทย์ปัญหาเกี่ยวกับการหาพื้นที่และปริมาตร ต่อไปนี้

1. สามเหลี่ยมรูปหนึ่งมีฐานยาว 35 เซนติเมตร สูง 20 เซนติเมตร สามเหลี่ยมรูปนี่มีพื้นที่เท่าใด

.....

.....

.....

.....

.....

.....

.....

.....

2. สนามหญ้ารูปสี่เหลี่ยมคางหมูมีด้านคู่ขนานด้านหนึ่งยาว 15 เมตร และอีกด้านหนึ่งยาว 13 เมตร สูง 20 เมตร สนามหญ้าแห่งนี้มีพื้นที่เท่าใด

.....

.....

.....

.....

.....

.....

.....

.....

3. สระน้ำแห่งหนึ่งมีขนาด กว้าง 18 เมตร ยาว 25 เมตร ลึก 2 เมตร สระแห่งนี้จุน้ำได้เต็มสระเท่าใด

.....

.....

.....

.....

.....

.....

.....

.....





ชื่อ-สกุล ..... ชั้น ..... เลขที่ .....



คำสั่งสำนักงานเขตพื้นที่การศึกษาประถมศึกษาเชียงใหม่ เขต ๓

ที่ ๘๐๐/๒๕๖๙

เรื่อง แต่งตั้งคณะกรรมการดำเนินงานโครงการอ่านออก เขียนได้ คิดเลขเป็น เน้นภาษา พัฒนาการเรียนรู้ ปีงบประมาณ ๒๕๗๐

ด้วยสำนักงานเขตพื้นที่การศึกษาประถมศึกษาเชียงใหม่ เขต ๓ ได้ดำเนินโครงการอ่านออก เขียนได้ คิดเลขเป็น เน้นภาษา พัฒนาการเรียนรู้ ประจำปีงบประมาณ พ.ศ. ๒๕๗๐ เพื่อส่งเสริมและสนับสนุนให้สถานศึกษาพัฒนาทักษะพื้นฐานของผู้เรียนระดับชั้นประถมศึกษาปีที่ ๑-๖ ครอบคลุม ๓ ด้าน ได้แก่กลุ่มสาระการเรียนรู้ภาษาไทย กลุ่มสาระการเรียนรู้ภาษาอังกฤษ และกลุ่มสาระการเรียนรู้คณิตศาสตร์ มุ่งเน้นการจัดการเรียนรู้ที่เหมาะสมกับวัยและความแตกต่างระหว่างบุคคล ส่งเสริมให้ผู้เรียนได้ฝึกปฏิบัติจริงอย่างต่อเนื่อง และสามารถนำทักษะไปประยุกต์ใช้ในสถานการณ์ต่าง ๆ ได้ ให้เกิดการพัฒนาทั้งด้าน ผู้เรียนและครูผู้สอน โดยสนับสนุนให้ครูมีแนวทาง สื่อและเครื่องมือในการจัดกิจกรรมการเรียนรู้ สามารถพัฒนาผู้เรียนได้ตรงตามระดับความสามารถและความต้องการจำเป็น อันจะนำไปสู่การยกระดับคุณภาพด้านการจัดการศึกษาและผลสัมฤทธิ์ทางการเรียนของผู้เรียนอย่างเป็นระบบและต่อเนื่อง

เพื่อให้การดำเนินงานโครงการอ่านออก เขียนได้ คิดเลขเป็น เน้นภาษา พัฒนาการเรียนรู้ ประจำปีงบประมาณ พ.ศ. ๒๕๗๐ กิจกรรมที่ ๓ พัฒนาแบบฝึกทักษะภาษาไทย ภาษาอังกฤษ และคณิตศาสตร์ ให้สอดคล้องกับหลักสูตรและระดับชั้นเป็นไปด้วยความเรียบร้อย บรรลุตามวัตถุประสงค์และเกิดประโยชน์สูงสุดต่อทางราชการ สำนักงานเขตพื้นที่การศึกษาประถมศึกษาเชียงใหม่ เขต ๓ จึงแต่งตั้งคณะกรรมการดำเนินงาน ดังนี้

๑. **คณะกรรมการอำนวยการ** ประกอบด้วย

๑.๑ นายสกล ไชยธงรัตน์	ผอ.สพป.เชียงใหม่ เขต ๓	ประธานกรรมการ
๑.๒ น.ส.ทอแสง สมพินิจ	รอง ผอ.สพป.เชียงใหม่ เขต ๓	รองประธานกรรมการ
๑.๓ น.ส.ณัฏฐธนิกา เงาทอง	รอง ผอ.สพป.เชียงใหม่ เขต ๓	รองประธานกรรมการ
๑.๔ นายสมปอง สุภาภา	รอง ผอ.สพป.เชียงใหม่ เขต ๓	รองประธานกรรมการ
๑.๕ นางประทุม ตามไท	ผอ.กลุ่มอำนวยการ	กรรมการ
๑.๖ นายธีระกูล วงศ์สูน	นักวิชาการการเงินและบัญชี ชำนาญการพิเศษ รักษาการในตำแหน่ง ผอ.กลุ่มบริหารงานการเงินฯ	กรรมการ
๑.๗ น.ส.จันวินา สุวรรณ์	ผอ.กลุ่มนโยบายและแผน	กรรมการ
๑.๘ นางเอื้องพร สุมา	ผอ.กลุ่มบริหารงานบุคคล	กรรมการ
๑.๙ นางนริสา พงษ์พานิชย์	ผอ.กลุ่มส่งเสริมการจัดการศึกษา	กรรมการ
๑.๑๐ นายรพีพัฒนศักดิ์ ทวีอภิรดีพัชร	ผอ.หน่วยตรวจสอบภายใน	กรรมการ
๑.๑๑ นายอาทิตย์ ปวงมาทา	ผอ.กลุ่มกฎหมายและคดี	กรรมการ
๑.๑๒ นายไกรสร จาวรรณะ	นักวิเคราะห์นโยบายและแผนชำนาญการ ปฏิบัติหน้าที่ ผอ.กลุ่มส่งเสริมการศึกษาทางไกลฯ	กรรมการ

๑.๑๓ นางสุจินดา...



๑.๑๓ นางสุจินตา คำเงิน	ผอ.กลุ่มนิเทศฯ	กรรมการและเลขานุการ
๑.๑๔ น.ส.ศรัณย์พัชร์ สิงห์ใจ	ศึกษานิเทศก์ชำนาญการพิเศษ	กรรมการและผู้ช่วยเลขานุการ

มีหน้าที่ ให้คำปรึกษา สนับสนุน ให้การดำเนินงานเป็นไปตามวัตถุประสงค์ที่กำหนดไว้

๒. คณะกรรมการดำเนินงานโครงการ ประกอบด้วย

๒.๑ นางสุจินตา คำเงิน	ผอ.กลุ่มนิเทศฯ	ประธานกรรมการ
๒.๒ น.ส.ศิพาณัฏฐ์ ใจสัตย์	ศึกษานิเทศก์ชำนาญการพิเศษ	รองประธานกรรมการ
๒.๓ นางรัชนี อุดทา	ศึกษานิเทศก์ชำนาญการพิเศษ	กรรมการ
๒.๔ น.ส.นวภรณ์ ปัญญา	ศึกษานิเทศก์ชำนาญการพิเศษ	กรรมการ
๒.๕ น.ส.กรรณิการ์ นารี	ศึกษานิเทศก์ชำนาญการพิเศษ	กรรมการ
๒.๖ นางศิราณี บุญเกิด	ศึกษานิเทศก์ชำนาญการพิเศษ	กรรมการ
๒.๗ น.ส.กิ่งกาญจน์ อินต๊ะปัญญา	ศึกษานิเทศก์ชำนาญการพิเศษ	กรรมการ
๒.๘ น.ส.พัชริดา ลำนักเนตร	ศึกษานิเทศก์ชำนาญการพิเศษ	กรรมการ
๒.๙ นางแววลี พุทธิมา	ศึกษานิเทศก์ชำนาญการพิเศษ	กรรมการ
๒.๑๐ นายธงชัย เพียงใจ	ศึกษานิเทศก์ชำนาญการพิเศษ	กรรมการ
๒.๑๑ น.ส.อรณัชชา เตชะวงค์	ศึกษานิเทศก์ชำนาญการ	กรรมการ
๒.๑๒ น.ส.นิภาพรรณ์ สิงห์คำ	ศึกษานิเทศก์ชำนาญการ	กรรมการ
๒.๑๓ นายเอกลักษณ์ ฤชา	ศึกษานิเทศก์ชำนาญการ	กรรมการ
๒.๑๔ ว่าที่ ร.ต.หญิง สายใจ กันทะวงค์	เจ้าพนักงานธุรการปฏิบัติงาน	กรรมการ
๒.๑๕ น.ส.เมลี่ แซ่โก	ศึกษานิเทศก์ชำนาญการ	กรรมการและเลขานุการ
๒.๑๖ น.ส.ศรัณย์พัชร์ สิงห์ใจ	ศึกษานิเทศก์ชำนาญการพิเศษ	กรรมการและเลขานุการ

มีหน้าที่ วางแผนและกำหนดแนวทางการดำเนินโครงการ จัดทำและพัฒนาสื่อ แบบฝึก และเครื่องมือ ประสานและสนับสนุนสถานศึกษาและครูผู้สอน นิเทศ ติดตาม และประเมินผลการดำเนินงาน รวบรวม วิเคราะห์ และสรุปผลการดำเนินโครงการ ตลอดจนปฏิบัติหน้าที่อื่นตามที่ได้รับมอบหมาย

๓.คณะกรรมการจัดทำแบบฝึกทักษะภาษาไทย คณิตศาสตร์ และภาษาอังกฤษ ระดับชั้นประถมศึกษาปีที่ ๑-๖ ประกอบด้วย

๓.๑ คณะกรรมการจัดทำแบบฝึกทักษะภาษาไทย ระดับชั้นประถมศึกษาปีที่ ๑ – ๖

๑) นางสาวศรัณย์พัชร์ สิงห์ใจ	ศึกษานิเทศก์ชำนาญการพิเศษ	ประธานกรรมการ
๒) นางรัชนี อุดทา	ศึกษานิเทศก์ชำนาญการพิเศษ	รองประธานกรรมการ
๓) นางแววลี พุทธิมา	ศึกษานิเทศก์ชำนาญการพิเศษ	กรรมการ
๔) นายเอกลักษณ์ ฤชา	ศึกษานิเทศก์ชำนาญการ	กรรมการ
๕) นายธงชัย เพียงใจ	ศึกษานิเทศก์ชำนาญการพิเศษ	กรรมการ
๖) นางอรทัย การะเกตุ	ครูโรงเรียนบ้านม่วงชุม	กรรมการ
๗) นางสาวพิชชานันท์ หฤทัยหิรัณย์	ครูโรงเรียนบ้านแม่ขี	กรรมการ
๘) นางสาวจริยา พิมพ์โกษา	ครูโรงเรียนบ้านถ้ำตับเต่า	กรรมการ

๙) นายภูธิต...

๙) นายภูธิต วงศ์ทอง	ครูโรงเรียนเจ้าแม่หลวงอุปถัมภ์ ๑	กรรมการ
๑๐) นางพันธรานันท์ วงษ์ไทย	ครูโรงเรียนบ้านเวียงหวาย	กรรมการ
๑๒) นางกชกร อนาวัน	ครูโรงเรียนบ้านม่อนปิ่น	กรรมการ
๑๓) นางสาวเมลี่ แซ่โก	ศึกษานิเทศก์ชำนาญการ	กรรมการและเลขานุการ

๓.๒ คณะกรรมการจัดทำแบบฝึกทักษะคณิตศาสตร์ ระดับชั้นประถมศึกษาปีที่ ๑ –๖

๑) นางสาวพัชริดา ลำนักเนตร	ศึกษานิเทศก์ชำนาญการพิเศษ	ประธานกรรมการ
๒) นางสาวศิพาณัฏฐ์ ใจสัตย์	ศึกษานิเทศก์ชำนาญการพิเศษ	รองประธานกรรมการ
๓) นางสาวกรรณิการ์ นารี	ศึกษานิเทศก์ชำนาญการพิเศษ	กรรมการ
๔) นางสาวกิ่งกาญจน์ อินต๊ะปัญญา	ศึกษานิเทศก์ชำนาญการพิเศษ	กรรมการ
๕) นางภัสรลักษณ์ เซ็นนันท์	ครูโรงเรียนบ้านเหมืองแร่	กรรมการ
๖) นายภูวิศชกรณ์ แหลมกล้า	ครูโรงเรียนบ้านเวียงฝาง	กรรมการ
๗) นางสาวภาวิณี แสนจิตต์	ครูโรงเรียนบ้านห้วยไคร้(ฝาง)	กรรมการ
๘) นายภาคิน จันต๊ะเสาร์	ครูโรงเรียนบ้านแม่สาว	กรรมการ
๙) นางสาวอาภาภรณ์ แก่นการ	ครูโรงเรียนบ้านดง	กรรมการ
๑๐) นายวัชรพล บุญเติม	ครูโรงเรียนบ้านใหม่หนองบัว	กรรมการ
๑๑) นางสาวนิภาพรรณ์ สิงห์คำ	ศึกษานิเทศก์ชำนาญการ	กรรมการและเลขานุการ

๓.๓ คณะกรรมการจัดทำแบบฝึกทักษะภาษาอังกฤษ ระดับชั้นประถมศึกษาปีที่ ๑ –๖

๑) นางสุจินตา คำเงิน	ผอ.กลุ่มนิเทศฯ	ประธานกรรมการ
๒) นางศิราณี บุญเกิด	ศึกษานิเทศก์ชำนาญการพิเศษ	รองประธานกรรมการ
๓) นางสาวนวภรณ์ ปัญญา	ศึกษานิเทศก์ชำนาญการพิเศษ	กรรมการ
๔) นายเอกลักษณ์ ฤาชา	ศึกษานิเทศก์ชำนาญการ	กรรมการ
๕) นางสาวจีราวรรณ ปัจจารีปัญญา	ครูโรงเรียนบ้านวังมะริว	กรรมการ
๖) นางสาวศศิธร สันใจ	ครูโรงเรียนบ้านหลวง(แม่อาย)	กรรมการ
๗) นางกานต์ธิดา จันทร์แก้ว	ครูโรงเรียนบ้านสันปอธง	กรรมการ
๘) นางสาวศุภมาส อริวรรณา	ครูโรงเรียนบ้านป่างสัก	กรรมการ
๙) นางณัฐสินี ฐิติภัทรพลหาญ	ครูโรงเรียนวัดป่าแดง	กรรมการ
๑๐) นางยุวเรศ แสนศรี	ครูโรงเรียนโชติคุณะเกษม(บ้านเมืองงาม)	กรรมการ
๑๑) นางสาวอรณัชชา เตชะวงค์	ศึกษานิเทศก์ชำนาญการ	กรรมการและเลขานุการ

มีหน้าที่ ออกแบบและจัดทำเนื้อหา สื่อและแบบฝึกสำหรับผู้เรียนชั้นประถมศึกษาปีที่ ๑–๖ ตรวจสอบความถูกต้องและความเหมาะสมของเนื้อหา ภาษาและระดับความยากง่าย ปรับปรุงแก้ไขให้มีคุณภาพและเหมาะสมกับผู้เรียน

๔. คณะกรรมการ...

๔.คณะกรรมการฝ่ายบรรณาธิการ จัดรูปแบบและเผยแพร่ข้อมูลสารสนเทศ ประกอบด้วย

๔.๑ นางสาวศิพาณัฏฐ์ ใจสัตย์	ศึกษานิเทศก์ชำนาญการพิเศษ	ประธานกรรมการ
๔.๒ นางสาวเมลี่ แซ่โก	ศึกษานิเทศก์ชำนาญการ	รองประธานกรรมการ
๔.๓ นางสาวรัชนี อุดทา	ศึกษานิเทศก์ชำนาญการพิเศษ	กรรมการ
๔.๔ นางนวภรณ์ ปัญญา	ศึกษานิเทศก์ชำนาญการพิเศษ	กรรมการ
๔.๕ นางสาวกรรณิการ์ นารี	ศึกษานิเทศก์ชำนาญการพิเศษ	กรรมการ
๔.๖ นางศิราณี บุญเกิด	ศึกษานิเทศก์ชำนาญการพิเศษ	กรรมการ
๔.๗ นางสาวกิ่งกาญจน์ อินต๊ะบัญญา	ศึกษานิเทศก์ชำนาญการพิเศษ	กรรมการ
๔.๘ นางสาวพัชริดา สำนักเนตร	ศึกษานิเทศก์ชำนาญการพิเศษ	กรรมการ
๔.๙ นางแววลี พุทธิมา	ศึกษานิเทศก์ชำนาญการพิเศษ	กรรมการ
๔.๑๐นายธงชัย เพียงใจ	ศึกษานิเทศก์ชำนาญการพิเศษ	กรรมการ
๔.๑๑ น.ส.อรณัชชา เตชะวงค์	ศึกษานิเทศก์ชำนาญการ	กรรมการ
๔.๑๒ น.ส.นิภาพรรณ์ สิงห์คำ	ศึกษานิเทศก์ชำนาญการ	กรรมการ
๔.๑๓ น.ส.ศรัณย์พัชร์ สิงห์ใจ	ศึกษานิเทศก์ชำนาญการพิเศษ	กรรมการ
๔๑๔ ว่าที่ ร.ต.หญิง สายใจ กันทะวงศ์	เจ้าพนักงานธุรการปฏิบัติงาน	กรรมการ
๔.๑๕ นายศิวานนท์ อเวรา	ครูโรงเรียนบ้านห้วยทรายขาว	กรรมการ
๔.๑๖ นายเชิดพงษ์ มาเขียว	ครูโรงเรียนบ้านต้นผึ้ง	กรรมการ
๔.๑๗ นายณัฏฐพสิษฐ์ เทพดวงแก้ว	ครูโรงเรียนวัดนันทาราม	กรรมการ
๔.๑๘ นายเอกลักษณ์ ฤาชา	ศึกษานิเทศก์ชำนาญการ	กรรมการ และเลขานุการ

มีหน้าที่ ตรวจสอบ กลั่นกรอง และปรับปรุงเนื้อหาให้มีความถูกต้อง เหมาะสม และเป็นไปตามรูปแบบที่กำหนด จัดรูปแบบและจัดทำเอกสารให้มีความเรียบร้อยสวยงาม รวมทั้งดำเนินการเผยแพร่ข้อมูลสารสนเทศผ่านช่องทางที่กำหนด ตลอดจนปฏิบัติหน้าที่อื่นตามที่ได้รับมอบหมาย

๕. คณะกรรมการฝ่ายการเงินและพัสดุ ประกอบด้วย

๕.๑ นายธีระกูล วงศ์สูน	นักวิชาการการเงินและบัญชีชำนาญการพิเศษ รักษาการในตำแหน่ง ผอ.กลุ่มบริหารงานการเงินฯ	ประธานกรรมการ
๕.๒ น.ส.วาสนา อุ่นบุญตัน	นักวิชาการพัสดุชำนาญการพิเศษ	รองประธานกรรมการ
๕.๓ น.ส.วนิดา เพียรชนะ	พนักงานราชการ	กรรมการ
๕.๔ นางวริณทร เต๋จ๊ะนัง	พนักงานราชการ	กรรมการและเลขานุการ

มีหน้าที่ เบิกจ่ายเงินงบประมาณให้เป็นไปด้วยความเรียบร้อย

๖. คณะกรรมการ...

๖. **คณะกรรมการฝ่ายธุรการ** ประกอบด้วย

๖.๑ น.ส.เมลี่ แซ่โก	ศึกษานิเทศก์ชำนาญการ	ประธานกรรมการ
๖.๒ นางแววลี พุทธิมา	ศึกษานิเทศก์ชำนาญการ	กรรมการ
๖.๓ ว่าที่ร.ต.หญิง สายใจ กันทะวงศ์	เจ้าพนักงานธุรการปฏิบัติงาน	กรรมการและเลขานุการ

มีหน้าที่ จัดเตรียมเอกสาร จัดพิมพ์เอกสารต่าง ๆ ที่เกี่ยวข้อง และรับลงทะเบียน

๗. **คณะกรรมการฝ่ายอาหารและเครื่องดื่ม** ประกอบด้วย

๗.๑ นางศิราณี บุญเกิด	ศึกษานิเทศก์ชำนาญการพิเศษ	ประธานกรรมการ
๗.๒ น.ส.นิภาพรรณ์ สิงห์คำ	ศึกษานิเทศก์ชำนาญการ	กรรมการ
๗.๓ ว่าที่ ร.ต.หญิง สายใจ กันทะวงศ์	เจ้าพนักงานธุรการปฏิบัติงาน	กรรมการ
๗.๔ น.ส.อรณัชชา เตชะวงศ์	ศึกษานิเทศก์ชำนาญการ	กรรมการและเลขานุการ

มีหน้าที่ จัดเตรียมอาหารกลางวัน อาหารว่างและเครื่องดื่ม ให้เพียงพอสำหรับคณะดำเนินการจัดทำแบบฝึก

๘. **คณะกรรมการฝ่ายโสตทัศนูปกรณ์** ประกอบด้วย

๘.๑ น.ส.ศิพาณัฏฐ์ ใจสัตย์	ศึกษานิเทศก์ชำนาญการพิเศษ	ประธานกรรมการ
๘.๒ นายธงชัย เพียงใจ	ศึกษานิเทศก์ชำนาญการพิเศษ	กรรมการ
๘.๓ นายเอกลักษณ์ เกษา	ศึกษานิเทศก์ชำนาญการ	กรรมการและเลขานุการ

มีหน้าที่ วางแผน จัดเตรียม ติดตั้ง และควบคุมระบบเครื่องเสียง ระบบภาพ แสงสว่าง และอุปกรณ์โสตทัศนูปกรณ์ทั้งหมดที่ใช้ในการดำเนินงาน บันทึกภาพ บันทึกวีดีโอ เพื่อประชาสัมพันธ์ในช่องทางต่าง ๆ

๙. **คณะกรรมการฝ่ายประเมินผล** ประกอบด้วย

๙.๑ น.ส.ศรัณย์พัชร์ สิงห์ใจ	ศึกษานิเทศก์ชำนาญการพิเศษ	ประธานกรรมการ
๙.๒ น.ส.เมลี่ แซ่โก	ศึกษานิเทศก์ชำนาญการ	กรรมการ
๙.๓ ว่าที่ ร.ต.หญิง สายใจ กันทะวงศ์	เจ้าพนักงานธุรการปฏิบัติงาน	กรรมการและเลขานุการ

มีหน้าที่ เก็บรวบรวมข้อมูล ประมวลผล สรุปและรายงานผลการดำเนินงานโครงการฯ เพื่อเสนอต่อผู้อำนวยการสำนักงานเขตพื้นที่การศึกษาประถมศึกษาเชียงใหม่ เขต ๓ ต่อไป

ให้คณะกรรมการทุกฝ่ายปฏิบัติหน้าที่ด้วยความตั้งใจ เสียสละเพื่อให้การดำเนินงานเกิดความเรียบร้อย ถูกต้อง บรรลุวัตถุประสงค์ และเป็นประโยชน์แก่การพัฒนาคุณภาพการศึกษา

ทั้งนี้ ตั้งแต่วันที่ ๑ ตุลาคม พ.ศ. ๒๕๖๙ เป็นต้นไป

สั่ง ณ วันที่ ๑ ตุลาคม พ.ศ. ๒๕๖๙

(นายสกล ไชยธงรัตน์)
ผู้อำนวยการสำนักงานเขตพื้นที่การศึกษาประถมศึกษาเชียงใหม่ เขต ๓

แบบฝึกทักษะ วิชาคณิตศาสตร์

ตามโครงการ

อ่านออก เขียนได้ คิดเลขเป็น

เน้นภาษา พัฒนาการเรียนรู้

สำนักงานเขตพื้นที่การศึกษาประถมศึกษาเชียงใหม่ เขต 3

